With
All Your Heart
その一歩を、ともに。

NAGOYA GAKUIN UNIVERSITY
60TH

NAGOYA GAKUIN UNIVERSITY

名古屋学院大学

入試過去問題集

2024

入試過去問題集
CONTENTS

※各科目等をクリックすると
該当ページに移動します

【特別奨学生入試問題·解答例】

英語 4
世界史 14
日本史 28
数学 38
国語 43

【一般入試問題·解答例】

英語 63
世界史 74
日本史 86
政治·経済 98
数学 117
国語 122

【一般推薦入試問題·解答例】

基礎学力テスト 143

【商業系科目入試問題·解答例】

商業系科目テスト〔商学部·※経営学部〕 151
※2024年4月開設予定

【一般推薦入試、自己推薦入試、指定校推薦入試】

小論文テーマ一覧（過去3年間） 163

入学試験問題集掲載問題の著作権について

2023年度入学試験問題の掲載にあたり、著作権法に基づき、使用した著作物の掲載許可を得ております。

目次へ戻る

2023年度 特別奨学生入試問題・解答例

目次へ戻る

Ⅰ 次の問い（問１～３）に答えよ。

問１．次の問い（１）～（10）の空所に入れるのに最も適当なものを、それぞれ下の①～④のうちから一つずつ選べ。

（１） Shun and Mia decided that（　　）going to Okinawa for a summer holiday. 1

① there ② their ③ will ④ they're

（２） My father allows me to drive his new car,（　　）is very kind of him. 2

① who ② which ③ how ④ whose

（３） I often drive on the expressway（　　）I can get where I'm going faster. 3

① also ② in case ③ so that ④ however

（４） Kento missed eight lessons and（　　）couldn't pass the course. 4

① therefore ② since ③ however ④ resulting

（５） Can you buy lunch for me（　　）? 5

① to ② too ③ two ④ as well as

（６） The war in Ukraine could（　　）all parts of the world by creating a food crisis. 6

① infect ② interact ③ affect ④ effect

（７） The project should be completed by September, six months（　　）. 7

① time ② hence ③ moreover ④ future

（８） （　　）paying for a private tutor, Akiko still failed her exam. 8

① Despite ② Even though

③ Nevertheless ④ Hoping that

目次へ戻る

（9） You've studied abroad before, (　　)? 9

① weren't you ② isn't it

③ did you ④ haven't you

(10) The easy availability of cheap, fattening food is why people are so (　　). 10

① out of the blue ② out of shape

③ outer sight ④ outer sorts

問2．次の問い（1）～（10）の英文を①～④の語や語句を使って完成するとき、［　　］内で3番目にくるものをそれぞれ下の①～④のうちから一つずつ選べ。ただし、文頭に来るものも小文字で示してある。

（1） ［① the ② of ③ outbreaks ④ virus］ have been found in Europe, Australia and America. 11

（2） When you ［① that ② with ③ done ④ get］ essay, can I see it? 12

（3） There are some people ［① still ② that ③ who ④ believe］ the world is flat. 13

（4） My cousin visits our house ［① once ② while ③ in ④ a］. 14

（5） You should turn in your homework ［① no ② what ③ happens ④ matter］. 15

（6） Thomas will ［① never ② back ③ from ④ down］ an argument, even when he's wrong. 16

（7） They ［① found ② eventually ③ the ④ missing］ dog hiding in the forest. 17

（8） The dinosaurs ［① extinct ② had ③ for ④ been］ millions of years before humans appeared. 18

目次へ戻る

（9） In the［① of ② quarter ③ first ④ 2022］, India added 3 gigawatts of solar power capacity. 19

（10） After watching the sad movie,［① everyone ② feeling ③ down ④ was］. 20

問3．次の問い（1）～（10）の空所に入れるのに最も適当なものを、それぞれ下の①～④のうちから一つずつ選べ。

（1） 手洗いは病気の感染を防ぐためのたった一つの最も効果的な方法である。 21

Handwashing is the（ ）most effective way to prevent transmission of diseases.

① highly ② single ③ not only ④ upper

（2） 日本の社会の重要な一面は、確実にすべてを清潔であるようにすることだ。 22

An important aspect of Japanese（ ）is making sure that everything is clean.

① society ② politics ③ history ④ ethics

（3） 彼は昨日母親の写真を額に入れた。 23

He got a photo of his mother（ ）yesterday.

① covering ② covered ③ framed ④ framing

（4） 2008年に私がアップルの株を買っていたら、今ごろ大金持ちになっていただろうに。 24

If only I（ ）in Apple stocks in 2008, I would be a millionaire!

① had been investing ② had invested

③ invest ④ interest

目次へ戻る

（5） 先月の事故以来、警察は飲酒運転を厳しく取り締まっている。 25

Ever since last month's accident, police have been（　　）on drunk driving.

① pushing out ② pressing back

③ coming down ④ crushing off

（6） 専門家達はその会社の問題は2024年まで持続すると論じている。 26

Experts argue that the company's problems are likely to（　　）into 2024.

① persist ② consist ③ insist ④ resist

（7） あなた自身の間違いの責任を負うことは大切である。 27

It is important to（　　）the responsibility for your own mistakes.

① assign ② bear ③ retain ④ get

（8） 輸入品の価格上昇の圧力が高まることがわかると、それが小売価格の上昇につながるだろう。 28

One can see the（　　）of increased prices of imports, which will end in increased retail prices.

① falling chances ② popular ability

③ future happening ④ mounting pressure

（9） 私はあなたの素晴らしい成果をお祝いする最初の人になりたい。 29

I want to be the first to（　　）your stunning achievement.

① tell you about ② pat your back

③ congratulate you on ④ mention to you

(10) 私は財布をなくしてしまい、それから追い打ちをかけるように、車が故障してしまった。 30

I lost my wallet and then, to add insult to（　　）, my car broke down.

① situation ② failure ③ anger ④ injury

目次へ戻る

Ⅱ 次の英文を読み、下の問い（問１～３）に答えよ。

大問Ⅱの問題文は著作権上の都合により掲載しておりません。
ご不便をおかけしますことをお詫び申し上げます

目次へ戻る

大問Ⅱの問題文は著作権上の都合により掲載しておりません。
ご不便をおかけしますことをお詫び申し上げます

目次へ戻る

大問Ⅱの問題文は著作権上の都合により掲載しておりません。
ご不便をおかけしますことをお詫び申し上げます

問１．空所 (A) ～ (F) に入れるのに最も適当なものを、それぞれ下の①～④のうちから一つずつ選べ。

(A) ① of ② an ③ in ④ the **31**

(B) ① other ② another
③ extremely ④ addition **32**

(C) ① as same as ② like many
③ for some ④ at all **33**

(D) ① watched at ② seen off
③ thought for ④ known for **34**

(E) ① Not surprisingly ② Not likely
③ In conclusion ④ As soon as **35**

(F) ① only just ② an little
③ more than ④ so much **36**

目次へ戻る

問２．下線部ⓐ～ⓕの意味に最も近いものを、それぞれ下の①～④のうちから一つずつ選べ。

ⓐ 37

① 特徴　② 飼い主　③ 品種　④ 知能

ⓑ 38

① 準備する　② 散歩する　③ 食事を取る　④ 競う

ⓒ 39

① 犬小屋に　② 屋外に　③ 家の中に　④ 足もとに

ⓓ 40

① 注意深い　② 鈍感な　③ 同様な　④ 類似の

ⓔ 41

① 俊敏な　② 伝統的な　③ 熱心な　④ 忠実な

ⓕ 42

① 自然に　② 公式に　③ 儀礼的に　④ 偶然に

問３．本文の内容から判断して、（１）～（５）の質問の答えとして最も適当なものを、それぞれ下の①～④のうちから一つずつ選べ。

（１） What does the word “**flash**” in paragraph 3 probably mean? 43

① to show quickly

② to light up suddenly

③ to move slowly

④ to hide secretly

（２） Where is the Golden Retriever breed originally from? 44

① England

② Russia

③ the U.S.

④ Scotland

目次へ戻る

（3） Why is it important to give Golden Retrievers enough exercise?

45

① So they can improve their hunting skill

② To prevent bad behaviour

③ To reduce bone problems

④ Because they are intelligent

（4） When did the dog breed become officially known as the Golden Retriever? 46

① from 1835 to 1890

② 1911

③ 1920

④ 1932

（5） What is this reading mainly about? 47

① How to raise a Golden Retriever

② The history and character of Golden Retrievers

③ The history of Lord Tweedmouth

④ How dogs changed over time

目次へ戻る

英語

番号	正解
1	4
2	2
3	3
4	1
5	2

番号	正解
6	3
7	2
8	1
9	4
10	2

番号	正解
11	1
12	2
13	4
14	4
15	2

番号	正解
16	4
17	3
18	1
19	1
20	2

番号	正解
21	2
22	1
23	3
24	2
25	3

番号	正解
26	1
27	2
28	4
29	3
30	4

番号	正解
31	4
32	1
33	2
34	4
35	1

番号	正解
36	3
37	3
38	4
39	4
40	1

番号	正解
41	4
42	2
43	1
44	4
45	2

番号	正解
46	3
47	2

目次へ戻る

Ⅰ インドの古典文明に関する以下のAおよびBの文章を読み、後の問い（問1～問10）に答えなさい。 1 ～ 10

A インド最古の文明はインダス文明ⓐである。これは前2600年頃におこった青銅器時代の都市文明で、およそ前1800年頃まで続いた。ここでは、インダス文字が使われ、シヴァ神の原型や牛の像などもみつかっていることから、インド文明の源流をなすものと考えられている。

前1500年頃には、インド＝ヨーロッパ語系の牧畜民である（ ⓑ ）人がインド西北部のパンジャーブ地方に侵入し始めた。この時期のさまざまな祭式の宗教的知識をおさめた文献に『リグ・ヴェーダ』ⓒがある。

前1000年頃をすぎると、（ ⓑ ）は、より肥沃なガンジス川上流域へ移動を開始し、定住農耕社会を形成した。社会が成立する過程でうまれたヴァルナ制ⓓは、後にジャーティと結びついてインド独特の制度であるカースト制度へと発展した。

前6世紀頃には、コーサラ国やマガダ国などの都市国家が生まれた。また、この頃には仏教やジャイナ教が生まれ、ヴァルナ制の否定など新しい思想が見られるようになった。続く前4世紀には（ ⓔ ）王が、インド最初の統一国家となるマウリヤ朝を創始した。

問1 下線部ⓐを代表する遺跡として正しいものを、次の①～④のうちから一つ選べ。 1

① プランバナン ② アンコール＝ワット
③ ボロブドゥール ④ モエンジョ＝ダーロ

問2 空欄ⓑに入る語として正しいものを、次の①～④のうちから一つ選べ。 2

① ドラヴィダ ② チャム ③ アーリヤ ④ クメール

目次へ戻る

問３　下線部ⓒの説明として最も適当なものを、次の①～④のうちから一つ選べ。

3

① ヴェーダとは、もとは太陽を意味している。

② 神に捧げる賛歌集である。

③ インダス文字で書かれている。

④ 一神教的な世界観が見られる。

問４　下線部ⓓの説明として最も適当なものを、次の①～④のうちから一つ選べ。

4

① 最下位のシュードラは、不可触民とも表現される。

② クシャトリヤは、第２位に位置する戦士の階層である。

③ 「生まれ」を意味し、世襲的な職業ごとの集団を分類している。

④ 第３位のヴァイシャは隷属民であり、祭式に参加できなかった。

問５　空欄ⓔに入る人名として正しいものを、次の①～④のうちから一つ選べ。

5

① マハーヴィーラ　② アショーカ

③ カニシカ　④ チャンドラグプタ

目次へ戻る

B　マウリヤ朝衰退後の紀元後１世紀頃には、クシャーン人が北西インドにクシャーナ朝を建てた。クシャーナ朝は（　ⓕ　）との交易が盛んで、その影響を受けた金貨が大量に発行された。また、仏教の中から新しい運動がおこり、大乗仏教ⓖがうまれた。ヘレニズム文化の影響を受けた仏像が作られたのもこの頃である。

４世紀にはいるとグプタ朝がおこり、北インド全域を統治した。このグプタ朝においてインド古典文化の黄金期が現出した。

思想・宗教の面では、この時代には仏教、ジャイナ教が盛んになるとともに、バラモンが再び重んじられてサンスクリット語が公用語化され、ヒンドゥー教ⓗが定着した。文学ではサンスクリットの二大叙事詩『マハーバーラタ』『ラーマーヤナ』が完成した。このほか、数学ではゼロの概念がうみだされ、美術ではグプタ様式が成立した。

６世紀半ばにグプタ朝が滅亡すると、ハルシャ王がヴァルダナ朝をおこした。この頃、玄奘や義浄ⓘがインドを訪れ、仏教を学んだ。

紀元後１世紀頃の南インドではサータヴァーハナ朝が勢力を持っていた。南インドの東海岸ではチョーラ朝、インド半島南端部ではパーンディヤ朝がおこり、船による交易で栄えた。これらはいずれも（　ⓙ　）人の王朝で、タミル語を使用した文芸活動が盛んであった。

問６　空欄ⓕに入る国として正しいものを、次の①～④のうちから一つ選べ。

6

①　ローマ　　②　スリランカ

③　中国（後漢）　　④　チャンパー

目次へ戻る

問７　下線部ⓖの説明として適当でないものを、次の①～④のうちから一つ選べ。

7

①　竜樹が空の思想を大成した。

②　戒律を厳守してみずからの解脱を目指した。

③　他力本願が強調された。

④　中心的思想は菩薩信仰であった。

問８　下線部ⓗの説明として適当でないものを、次の①～④のうちから一つ選べ。

8

①　シヴァやヴィシュヌなど複数の神を崇拝する多神教である。

②　叙事詩『マハーバーラタ』は聖典の一つとされている。

③　統一的な教義や儀礼をもたない。

④　人類の始祖であるマヌが開祖とされている。

問９　下線部ⓘの人物の著作として正しいものを、次の①～④のうちから一つ選べ。 9

①　『南海寄帰内法伝』　②　『仏国記』

③　『大唐西域記』　④　『エリュトゥラー海案内記』

問10　空欄ⓙに入る語として正しいものを、次の①～④のうちから一つ選べ。

10

①　ドラヴィダ　②　クメール　③　クルド　④　シンハラ

目次へ戻る

Ⅱ 次の略年表を読み、後の問い（問１～問10）に答えなさい。 11 ～ 20

1368年	（ ⓐ ）が明を建国する。
1405年	鄭和が南海大遠征ⓑを行う（～33年）。
1449年	（ ⓒ ）により、正統帝が捕虜となる。
1602年	マテオ＝リッチの指導の下（ ⓓ ）が刊行される。
1616年	ヌルハチが（ ⓔ ）を統一し、アイシン（後金）を建国する。
1636年	ホンタイジが国号を清ⓕと改称する。
1644年	李自成が（ ⓖ ）を占領し明が滅亡する。
1673年	三藩の乱ⓗがおこる（～81年）。
1689年	ネルチンスク条約ⓘが締結される。
1724年	キリスト教の布教ⓙが禁止される。

問１　空欄ⓐに入る人名として正しいものを、次の①～④のうちから一つ選べ。

11

① 建文帝　② 洪武帝　③ 永楽帝　④ 万暦帝

問２　下線部ⓑの説明として適当でないものを、次の①～④のうちから一つ選べ。

12

① 宝船と呼ばれた巨大艦が中核を成した。

② 船団の一部はアフリカ東海岸に至った。

③ マジャパヒト王国が貿易の中心地となった。

④ 朝貢貿易の勧誘を目的としていた。

目次へ戻る

問３　空欄ⓒに入る出来事として正しいものを、次の①～④のうちから一つ選べ。

13

①　靖難の役　②　土木の変　③　紅巾の乱　④　靖康の変

問４　空欄ⓓに入る語として正しいものを、次の①～④のうちから一つ選べ。

14

①　「坤輿万国全図」　②　「皇輿全覧図」

③　『本草綱目』　④　『崇禎暦書』

問５　空欄ⓔに入る民族として正しいものを、次の①～④のうちから一つ選べ。

15

①　オイラト　②　韃靼　③　ウイグル　④　女真

問６　下線部ⓕの統治に関する説明として、誤っているものを、次の①～④のうちから一つ選べ。 16

①　軍機処の設置　②　辮髪の強制

③　授時暦の開始　④　文字の獄

問７　空欄ⓖに入る地名として正しいものを、次の①～④のうちから一つ選べ。

17

①　開封　②　盛京　③　南京　④　北京

問８　下線部ⓗをおこした人物として正しいものを、次の①～④のうちから一つ選べ。 18

①　呉三桂　②　鄭成功　③　張居正　④　顧炎武

目次へ戻る

問９　下線部ⓘの説明として最も適当なものを、次の①～④のうちから一つ選べ。

19

①　清とムガル帝国との間で結ばれた条約である。

②　雍正帝の治世下で結ばれた条約である。

③　清がはじめて外国と対等な形式で結んだ条約である。

④　モンゴル地区の国境を取り決めた。

問10　下線部ⓙに関する説明として適当でないものを、次の①～④のうちから一つ選べ。 20

①　清朝はイエズス会の宣教師を技術者として重用していた。

②　康熙帝はイエズス会以外の宣教師を国外退去させた。

③　ドミニコ会の伝統儀礼「典礼」が清朝に問題視された。

④　ブーヴェとカスティリオーネは、イエズス会宣教師である。

目次へ戻る

Ⅲ 19世紀頃のアメリカと欧米文化に関する以下の問い（問１～問10）に答えなさい。 21 ～ 30

問１　トゥサン＝ルヴェルチュールが独立運動を指導した国として正しいものを、次の①～④のうちから一つ選べ。 21

①　ハイチ　②　コロンビア　③　メキシコ　④　ペルー

問２　ラテンアメリカ植民地生まれの白人の呼称として正しいものを、次の①～④のうちから一つ選べ。 22

①　ペニンスラール　②　クリオーリョ

③　メスティーソ　④　カウディーリョ

問３　アメリカの西部開拓に関する説明として適当でないものを、次の①～④のうちから一つ選べ。 23

①　合衆国の西部開拓を正当化した「明白な天命」が流布された。

②　保留地とは、先住民が強制移住後に与えられた荒地を指す。

③　モンロー大統領は先住民強制移住法を制定した。

④　チェロキー族の悲惨な移動は「涙の旅路」と呼ばれている。

問４　南北戦争の説明として最も適当なものを、次の①～④のうちから一つ選べ。 24

①　南部では保護関税政策、北部では自由貿易の支持が優勢だった。

②　ミズーリ協定でイギリスと合衆国の相互不干渉が確認された。

③　共和党は奴隷制に反対し、民主党は奴隷制に賛成していた。

④　ヨークタウンの戦いでは、最大の激戦が行われた。

目次へ戻る

問５　南北戦争後のアメリカの出来事として最も適当なものを、次の①～④のうちから一つ選べ。 25

①　1890年には大陸横断鉄道が完成した。

②　戦争中に成立したホームステッド法により、西部開拓が進んだ。

③　イギリス領カナダからアラスカを買収した。

④　増加する移民に対抗するため、秘密結社KKKが組織された。

問６　著者と文学作品の組み合わせとして正しいものを、次の①～④のうちから一つ選べ。 26

①　ゲーテ　－　『レ＝ミゼラブル』　　②　トルストイ　－　『罪と罰』

③　イプセン　－　『人間喜劇』　　④　スタンダール　－　『赤と黒』

問７　ポーランド出身のロマン派作曲家で「ピアノの詩人」と呼ばれた人物として正しいものを、次の①～④のうちから一つ選べ。 27

①　チャイコフスキー　　②　ヴェルディ

③　ベートーヴェン　　④　ショパン

問８　弁証法哲学の提唱者として正しいものを、次の①～④のうちから一つ選べ。 28

①　カント　　②　マルクス　　③　ヘーゲル　　④　ベンサム

問９　自然科学の発展が社会へ及ぼした影響として適当でないものを、次の①～④のうちから一つ選べ。 29

①　アフリカ探検が欧米以外の「文明世界」の存在を明らかにした。

②　進化論は、聖書的人間観を根底からゆるがした。

③　細菌学や予防医学の発展は、平均寿命を伸長させた。

④　ガソリン＝エンジンの発明は、石油エネルギーの時代を導いた。

目次へ戻る

問10　大都市の近代化について、パリに関する説明として適当でないものを、次の①～④のうちから一つ選べ。 30

①　世界最初のデパートが開店した。

②　大規模な地下上下水道の建設が行われた。

③　リュミエール兄弟が映画を上映した。

④　世界最初の地下鉄が開通した。

目次へ戻る

Ⅳ 世界史に関わる資料に基づいた、以下の問い（問１～問５）に答えなさい。

31 ～ 35

図１　1961年に開かれた国際会議の様子

問１　第三勢力25ヵ国の代表が参加した図１の会議の名称として正しいものを、次の①～④のうちから一つ選べ。 31

① 非同盟諸国首脳会議　② アジア＝アフリカ会議

③ 原水爆禁止世界大会　④ 国連人間環境会議

問２　図１の会議に関する説明として正しいものを、次の①～④のうちから一つ選べ。 32

① 会議後には、共同声明として平和五原則が発表された。

② インドネシアのバンドンで開催された。

③ 西側経済先進国との対話と協力を目指した。

④ ティトーやナセルらが開催を呼びかけた。

目次へ戻る

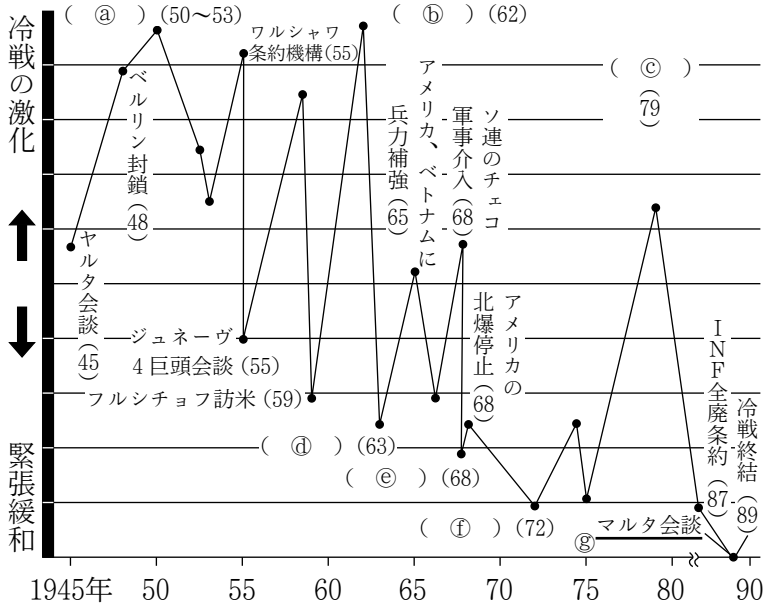

図２　冷戦の激化と緩和

問３　図２のⓐ〜ⓒについて、冷戦を激化させた出来事の組み合わせとして正しいものを、次の①〜④のうちから一つ選べ。 **33**

① ⓐ朝鮮戦争　ⓑアフガニスタン侵攻　ⓒキューバ危機

② ⓐ朝鮮戦争　ⓑキューバ危機　ⓒアフガニスタン侵攻

③ ⓐキューバ危機　ⓑアフガニスタン侵攻　ⓒ朝鮮戦争

④ ⓐキューバ危機　ⓑ朝鮮戦争　ⓒアフガニスタン侵攻

目次へ戻る

問４　図２のⓓ～ⓕについて、冷戦を緩和させた出来事の組み合わせとして正しいものを、次の①～④のうちから一つ選べ。 34

① ⓓ核拡散防止条約　ⓔ部分的核実験禁止条約　ⓕSALTⅡ調印

② ⓓ核拡散防止条約　ⓔSALTⅡ調印　ⓕ部分的核実験禁止条約

③ ⓓ部分的核実験禁止条約　ⓔSALTⅡ調印　ⓕ核拡散防止条約

④ ⓓ部分的核実験禁止条約　ⓔ核拡散防止条約　ⓕSALTⅡ調印

問５　図２の下線部ⓖについて、1989年のマルタ会談の参加者として正しいものを、次の①～④のうちから一つ選べ。 35

① アメリカ：レーガン　－　ソ連：エリツィン

② アメリカ：レーガン　－　ソ連：ゴルバチョフ

③ アメリカ：ブッシュ（父）　－　ソ連：ゴルバチョフ

④ アメリカ：ブッシュ（父）　－　ソ連：エリツィン

目次へ戻る

世界史

番号	正解
1	4
2	3
3	2
4	2
5	4

番号	正解
6	1
7	2
8	4
9	1
10	1

番号	正解
11	2
12	3
13	2
14	1
15	4

番号	正解
16	3
17	4
18	1
19	3
20	3

番号	正解
21	1
22	2
23	3
24	3
25	2

番号	正解
26	4
27	4
28	3
29	1
30	4

番号	正解
31	1
32	4
33	2
34	4
35	3

目次へ戻る

Ⅰ 次の文を読んで、以下の問いに答えよ。

A　北方の中国東北部などに住む靺鞨族や旧(　ア　)人を中心に渤海が建国された。渤海は、唐・新羅との対抗関係から日本に使節を派遣して国交を求め、日本は渤海と友好的に通交した。

B　朝鮮半島では、唐と(　イ　)が結んで(　ウ　)を滅ぼした。日本は根強い抵抗を示す旧(　ウ　)勢力を支援するため大軍を派遣したが、白村江の戦いで大敗した。この後、(　イ　)が朝鮮半島を統一した。

C　朝鮮半島では、加耶諸国などがつぎつぎに(　イ　)・(　ウ　)などの支配下に入った。そして、加耶と結びつきのあったヤマト政権の朝鮮半島での影響力は後退した。(　エ　)は、加耶西部の地域に対する(　ウ　)の支配権が確立したことが失政とされて失脚し、勢力を失った。

D　九州では、(　イ　)と結んで筑紫国造磐井が大規模な戦乱をおこした。大王軍はこの磐井の乱を 2 年がかりで制圧し、九州北部に屯倉を設けた。ヤマト政権はこうした地方豪族の抵抗を排しながら彼らを従属させていった。

E　日本への渡航にたびたび失敗しながら、ついに鑑真は日本に戒律を伝えた。鑑真はのちに唐招提寺をつくり、そこで死去した。受戒の場として、(　オ　)の戒壇に加え、九州の筑紫観世音寺、東国の下野薬師寺にも戒壇が設けられて「本朝三戒壇」と称された。

目次へ戻る

問１　Ａ～Ｅの下線部の出来事が起こった時期としてもっとも適当なものを、次のうちから一つ選べ(同じ世紀のものが複数ある可能性もある)。

Ａ [1]　Ｂ [2]　Ｃ [3]　Ｄ [4]

Ｅ [5]

①　１世紀　②　２世紀　③　３世紀　④　４世紀

⑤　５世紀　⑥　６世紀　⑦　７世紀　⑧　８世紀

⑨　９世紀　⓪　10世紀

問２　(　ア　)～(　ウ　)に当てはまる語としてもっとも適当なものを、次のうちから一つ選べ。

ア [6]　イ [7]　ウ [8]

①　高麗　②　高句麗　③　百済　④　新羅

⑤　契丹

問３　(　エ　)に当てはまる語としてもっとも適当なものを、次のうちから一つ選べ。[9]

①　蘇我赤兄　②　物部麁鹿火　③　大伴金村　④　葛城円

⑤　巨勢男人

問４　(　オ　)に当てはまる語としてもっとも適当なものを、次のうちから一つ選べ。[10]

①　唐招提寺　②　東大寺　③　興福寺　④　薬師寺

⑤　法隆寺

目次へ戻る

Ⅱ 古代から中世の文化に関する次のA～Dの文を読んで、以下の問いに答えよ。

A 奥州藤原氏(a)が建てた平泉の(　ア　)や、陸奥の白水阿弥陀堂、九州豊後の(　イ　)など、地方豪族のつくった阿弥陀堂や浄土教美術の秀作が各地に残されている。また、平氏に信仰された安芸の(　ウ　)には、豪華な『平家納経』が寄せられており、平氏の栄華と貴族性を物語っている。

B 大学別曹は大学に付属する寄宿施設的なもので、学生たちは学費の支給を受け、書籍を利用しながら大学で学んだ。(　エ　)の弘文院、藤原氏の勧学院、在原氏や皇族の(　オ　)、橘氏の学館院などが知られる。

C 重源は、資金を広く寄付に仰いで各地をまわる勧進上人となって、宋人(　カ　)の協力を得て東大寺再建に当たった。その時に採用されたのが(　キ　)の建築様式で、大陸的な雄大さ、豪放な力強さを特色とし、東大寺南大門(b)が代表的遺構である。

D 浄土教は、阿弥陀仏を信仰し、来世において極楽浄土に往生し、そこで悟りを得て苦がなくなることを願う教えである。10世紀半ばに(　ク　)が京の市でこれを説き、ついで源信(恵心僧都)が(　ケ　)を著して念仏往生の教えを説くと、浄土教は貴族をはじめ庶民のあいだにも広まった。

問1 (　ア　)(　イ　)に当てはまる語の組合せとしてもっとも適当なものを、次のうちから一つ選べ。 11

① (ア)富貴寺大堂　(イ)平等院鳳凰堂
② (ア)平等院鳳凰堂　(イ)唐招提寺金堂
③ (ア)唐招提寺金堂　(イ)中尊寺金色堂
④ (ア)中尊寺金色堂　(イ)富貴寺大堂

目次へ戻る

問２ （ ウ ）に当てはまる語としてもっとも適当なものを、次のうちから一つ選べ。 12

① 鶴岡八幡宮 ② 建長寺 ③ 厳島神社 ④ 蓮華王院
⑤ 教王護国寺 ⑥ 法界寺

問３ （ エ ）（ オ ）に当てはまる語の組合せとしてもっとも適当なものを、次のうちから一つ選べ。 13

① （エ）菅原氏 （オ）綜芸種智院
② （エ）物部氏 （オ）持明院
③ （エ）大江氏 （オ）知恩院
④ （エ）和気氏 （オ）奨学院

問４ （ カ ）に当てはまる語としてもっとも適当なものを、次のうちから一つ選べ。 14

① 貞慶 ② 蘭溪道隆 ③ 道元 ④ 無学祖元
⑤ 陳和卿 ⑥ 定朝

問５ （ キ ）に当てはまる語としてもっとも適当なものを、次のうちから一つ選べ。 15

① 校倉造 ② 大仏様 ③ 寝殿造 ④ 禅宗様
⑤ 今様 ⑥ 書院造

問６ （ ク ）に当てはまる語としてもっとも適当なものを、次のうちから一つ選べ。 16

① 空也 ② 俊寛 ③ 法然 ④ 行基
⑤ 親鸞 ⑥ 一遍

目次へ戻る

問７　（　ケ　）に当てはまる語としてもっとも適当なものを、次のうちから一つ選べ。 17

①『教行信証』　②『梁塵秘抄』　③『愚管抄』　④『歎異抄』

⑤『風信帖』　⑥『往生要集』

問８　下線部(a)の奥州藤原氏について説明した以下の文の下線部のうち誤っているものはいくつあるか、次のうちから一つ選べ。 18

奥州藤原氏は、清衡・基衡・時衡の３代100年にわたって、金や馬などの産物の富で中国文化を移入し繁栄を誇った。毛越寺の建立もその一例である。

①　１つ　②　２つ　③　３つ　④　４つ

⑤　誤りなし

問９　下線部(b)の東大寺南大門について説明した以下の文の下線部のうち誤っているものはいくつあるか、次のうちから一つ選べ。 19

東大寺南大門の左右に立つ約8.5mにおよぶ金銅像の阿弥陀如来像に、阿形と吽形がある。無著・世親らの仏師が短時日に製作したもので、そのみなぎる力強さは勃興する武士の力を示すかのようである。

①　１つ　②　２つ　③　３つ　④　４つ

⑤　誤りなし

問10　Ａ～Ｄの文を年代の古い順に並べたものとしてもっとも適当なものを、次のうちから一つ選べ。 20

①　Ａ→Ｃ→Ｂ→Ｄ　②　Ｄ→Ｂ→Ｃ→Ａ

③　Ｃ→Ａ→Ｄ→Ｂ　④　Ａ→Ｄ→Ｃ→Ｂ

⑤　Ｃ→Ｄ→Ｂ→Ａ　⑥　Ｂ→Ｄ→Ａ→Ｃ

目次へ戻る

Ⅲ 室町時代の産業に関する次の文を読んで、以下の問いに答えよ。

室町時代は農業(a)の生産性が高まっただけでなく、地方の産業も活発化し、各地で特産品(b)が生産されるようになった。また生産性の向上による物資の増加は、流通の必要性も高めることから商品を売り歩く行商人(c)の増加や六斎市の一般化をもたらした。こうした売買取引の増加は貨幣経済(d)の発展をもたらし、金融業者(e)の活発な活動を生み出した。

問１　下線部(a)に関して述べた次のＡ・Ｂの文について、その正誤の組合せとしてもっとも適当なものを、次のうちから一つ選べ。 21

Ａ　肥料は下肥が広く使われるようになった。

Ｂ　畿内以外での地方では三毛作が中心に行われた。

① Ａ 正　Ｂ 正　② Ａ 正　Ｂ 誤

③ Ａ 誤　Ｂ 正　④ Ａ 誤　Ｂ 誤

問２　下線部(b)に関して、次のＡ～Ｃの特産品とその主な産地(県名)の組合せとしてもっとも適当なものを、次のうちから一つ選べ。

Ａ　珠洲焼 22

① 秋田県　② 福島県　③ 石川県　④ 新潟県

Ｂ　美濃紙 23

① 福井県　② 岐阜県　③ 愛知県　④ 富山県

Ｃ　備前焼 24

① 岡山県　② 愛媛県　③ 熊本県　④ 和歌山県

目次へ戻る

問３　下線部(c)に関して、次のア～エの行商人の説明としてもっとも適当なものを、次のうちから一つ選べ。

ア　大原女 [25]　　イ　桂女 [26]

ウ　振売 [27]　　エ　連雀商人 [28]

①　商品を木製の背負い運搬具にくくり付けて売り歩いた商人

②　炭・薪・柴を頭上にのせて京の町中を売り歩いた商人

③　白布を頭に巻きあげた特徴を持つ鵜飼集団の一員で鮎を売り歩いた商人

④　天秤棒の両端に商品を提げて売り歩いた商人

問４　下線部(d)に関して述べた以下の文の(ア)～(エ)のうち誤っている箇所はどれか、もっとも適当なものを、次のうちから一つ選べ。[29]

貨幣は永楽通宝などの宋銭(ア)が用いられたが、粗悪な私鋳銭(イ)を避けるため撰銭(ウ)が行われることで、円滑な取引が阻害(エ)された。

①　ア　　②　イ　　③　ウ　　④　エ

⑤　誤りなし

問５　下線部(e)に関して、高利貸業としてもっとも適当なものを、次のうちから一つ選べ。[30]

①　馬借　　②　社倉　　③　割符　　④　土倉

目次へ戻る

Ⅳ 次の年表について、以下の問いに答えよ。

1605年　(a)徳川秀忠が征夷大将軍となる。
1623年　(b)徳川家光が征夷大将軍となる。
1651年　(c)徳川家綱が征夷大将軍となる。
1680年　(d)徳川綱吉が征夷大将軍となる。
1709年　(e)徳川家宣が征夷大将軍となる。
1716年　(f)徳川吉宗が征夷大将軍となる。
1772年　(g)田沼意次による政治がはじまる。
1787年　松平定信による(h)寛政の改革がはじまる。
1841年　水野忠邦による(i)天保の改革がはじまる。

問１　下線部(a)が征夷大将軍在任時に起きた出来事として誤っているものを、次のうちから一つ選べ。 31

① 紫衣事件　② 禁中並公家諸法度の制定
③ 一国一城令の発令　④ 直轄領に禁教令の発令

問２　下線部(b)が征夷大将軍在任時に起きた出来事としてもっとも適当なものを、次のうちから一つ選べ。 32

① 大坂冬の陣　② 分地制限令の発令
③ 元和大殉教　④ 田畑永代売買禁止令の発令

問３　下線部(c)が征夷大将軍在任時に起きた出来事としてもっとも適当なものを、次のうちから一つ選べ。 33

① 明暦の大火　② 富士山の宝永大噴火
③ 赤穂事件　④ 貞享暦の完成

目次へ戻る

問４　下線部(d)が征夷大将軍在任時に起きた出来事として誤っているものを、次のうちから一つ選べ。 34

①　湯島聖堂の建立　②　殉死の禁止
③　服忌令の発令　④　林信篤(鳳岡)を大学頭に任命

問５　下線部(e)の側用人としてもっとも適当なものを、次のうちから一つ選べ。 35

①　柳沢吉保　②　間部詮房　③　大岡忠光　④　水野忠成

問６　下線部(f)の政策として誤っているものを、次のうちから一つ選べ。 36

①　足高の制　②　漢訳洋書の輸入の緩和
③　検見法から定免法への転換　④　囲米

問７　下線部(f)の政策としてもっとも適当なものを、次のうちから一つ選べ。 37

①　寄場組合の組織化　②　人足寄場への収容
③　棄捐令　④　町火消の組織化

問８　下線部(g)の政策として誤っているものを、次のうちから一つ選べ。 38

①　南鐐二朱銀の鋳造　②　印旛沼・手賀沼の干拓
③　株仲間の承認　④　間宮林蔵らを千島探索に派遣

問９　下線部(h)の政策として誤っているものを、次のうちから一つ選べ。 39

①　旧里帰農令　②　出版統制令
③　相対済し令　④　七分積金

問10　下線部(i)の政策として誤っているものを、次のうちから一つ選べ。 40

①　人返しの法　②　上知令　③　林子平の処罰　④　株仲間の解散

目次へ戻る

日本史

番号	正解
1	8
2	7
3	6
4	6
5	8

番号	正解
6	2
7	4
8	3
9	3
10	2

番号	正解
11	4
12	3
13	4
14	5
15	2

番号	正解
16	1
17	6
18	2
19	4
20	6

番号	正解
21	2
22	3
23	2
24	1
25	2

番号	正解
26	3
27	4
28	1
29	1
30	4

番号	正解
31	1
32	4
33	1
34	2
35	2

番号	正解
36	4
37	4
38	4
39	3
40	3

目次へ戻る

I

(1) 方程式 $8^x - 4^x - 2^{x+1} + 2 = 0$ の解は $x = \boxed{1}$, $\dfrac{\boxed{2}}{\boxed{3}}$ である。

(2) サイコロを 3 回振ったとき,

(i) 3 回とも 6 が出る確率は $\dfrac{\boxed{4}}{\boxed{5 \mid 6 \mid 7}}$, 6 がちょうど 2 回出る確率は

$\dfrac{\boxed{8}}{\boxed{9 \mid 10}}$ である。

(ii) 1 回目が 6 であったという条件の下で, 2 回目と 3 回目で 6 がちょうど 1 回出る条件付き確率は $\dfrac{\boxed{11}}{\boxed{12 \mid 13}}$ である。

(iii) 3 回の目の合計が 5 となる確率は $\dfrac{\boxed{14}}{\boxed{15 \mid 16}}$ である。

目次へ戻る

Ⅱ

$f(x)=x^2+px+q$，$g(x)=x^3-px+q$ とする。但し p，q は定数で $pq\neq 0$ である。

(1)　$f(3)=1$ でありかつ $y=f(x)$ のグラフが x 軸に接するとき，

$p=$ $\boxed{17 \mid 18}$，$q=$ $\boxed{19}$

または

$p=$ $\boxed{20 \mid 21}$，$q=$ $\boxed{22 \mid 23}$

である。

(2)　2 つの方程式 $f(x)=0$，$g(x)=0$ が共通の解を持ち，かつ $f(x)=0$ が重解を持つとき，$p=$ $\boxed{24}$，$q=$ $\boxed{25}$ であり，このときの共通解は $x=$ $\boxed{26 \mid 27}$ である。

目次へ戻る

Ⅲ

2 つの方程式

（ア）　$\cos x - \sin y = \sqrt{3}$

（イ）　$\sin x + \cos y = -1$

をともに満たす x，y を求めたい。但し $0 \leqq x, y < 2\pi$ とする。なお角の大きさは弧度法によりラジアンで表示する。

(1)　上記の（ア）から $\cos x$ を $\sin y$ で表し，両辺を 2 乗すると

（ウ）　$\cos^2 x = \boxed{28} + 2\sqrt{\boxed{29}}\sin y + \sin^2 y$

がわかる。同様に（イ）から

（エ）　$\sin^2 x = \boxed{30} + 2\cos y + \cos^2 y$

がわかる。（ウ）（エ）の両辺をたして整理すると

（オ）　$\dfrac{\sqrt{\boxed{31}}}{\boxed{32}}\sin y + \dfrac{\boxed{33}}{\boxed{34}}\cos y = -1$

がわかる。（オ）の左辺は $\sin\left(y + \dfrac{\boxed{35}}{\boxed{36}}\pi\right)$ に等しいので，ここから $y = \dfrac{\boxed{37}}{\boxed{38}}\pi$

がわかり，（ア）（イ）から $x = \dfrac{\boxed{39 \mid 40}}{\boxed{41}}\pi$ がわかる。

(2)　上記(1)を参考にすると，（ア）（イ）の $\sin y$ と $\cos y$ を入れ替えた方程式

（カ）　$\cos x - \cos y = \sqrt{3}$

（キ）　$\sin x + \sin y = -1$

をともに満たす x，y（但し $0 \leqq x, y < 2\pi$ ）は $x = \dfrac{\boxed{42 \mid 43}}{\boxed{44}}\pi$，$y = \dfrac{\boxed{45}}{\boxed{46}}\pi$ であるとわかる。

目次へ戻る

Ⅳ

xy 平面上の点 P：$(2,\ -8)$ から曲線 C：$y=3x^2+7$ へ引いた接線を求めたい。

接点の x 座標を a とすると，接点は $(a,\ \boxed{47}a^2+\boxed{48})$ である。この点で C に接することから，この接線の傾きは $\boxed{49 \mid 50}$ であり，接線の方程式を

$y=\boxed{49 \mid 50}x+k$ と書くとき，これが P を通るためには，

$k=\boxed{51 \mid 52 \mid 53 \mid 54}-\boxed{55}$ でなければならず，またこれが接点を通ることから

$a=\boxed{56 \mid 57}$，$\boxed{58}$ がわかる。従って，P を通る C の接線は，

$y=\boxed{59 \mid 60}x+\boxed{61}$ と

$y=\boxed{62 \mid 63}x-\boxed{64 \mid 65}$

であるとわかる。

目次へ戻る

数学

番号	正解	番号	正解	番号	正解	番号	正解	番号	正解
1	0	6	1	11	5	16	6	21	8
2	1	7	6	12	1	17	—	22	1
3	2	8	5	13	8	18	4	23	6
4	1	9	7	14	1	19	4	24	6
5	2	10	2	15	3	20	—	25	9

番号	正解	番号	正解	番号	正解	番号	正解	番号	正解
26	—	31	3	36	6	41	6	46	6
27	3	32	2	37	4	42	1	47	3
28	3	33	1	38	3	43	1	48	7
29	3	34	2	39	1	44	6	49	6
30	1	35	1	40	1	45	7	50	a

番号	正解	番号	正解	番号	正解
51	—	56	—	61	4
52	1	57	1	62	3
53	2	58	5	63	0
54	a	59	—	64	6
55	8	60	6	65	8

目次へ戻る

I

次の文章を読んで、後の問いに答えよ。解答は、解答用紙の 1 から 19 までにマークせよ。

言語を使って、色を「正確」に表そうとすれば、「朱」は「赤である」ものと「赤でない」ものを区別して、対比したり比較したりするところから始まる。たとえば、「朱は赤そのものではなく、ちょっと黄が混じる」が「朱は橙ほど黄色ではない」というように。赤と黄という特殊なポイントがぽつんぽつんと決められ、その中間のやや赤に近いところにある、というふうに、とびとび（離散的）にしか表せないのだ。

だが、本来、光のスペクトルでは、赤の横には黄色があるが、赤と黄色の間には橙があり、橙と赤の間にも朱があり、朱と橙の間にも「朱橙」（と言えば良いのか？）があり、「朱橙」と「朱」の間にも「朱々橙」（？）があり、「朱々橙」と「朱」の間にも「朱々々橙」（？）が……などと無限のヴァリエーションがある。色は0と1の間の数直線と同じように、実数と同じだけの多さがあり（連続量）、それは二進法で表せる有理数の多さ（離散量）よりずっと多い。当然A「朱」に近い色は無限にあるので、この作業を無限に続けても、言葉で色の具合を言い尽くすことはできない。

カ、視覚で「朱」を示したければ、「この色だ！」と指させば、それで事足りるし、一瞬で終わる。絶対音感と同じように、色彩感覚がスルド（ア）い人なら、色見本がなくても「あ、この色、前に見たのと同じ！」と気づくかもしれない。

キ、その感覚は、そのままでは他人に伝えられない。違いに気づかない人には、また「赤にちょっと黄色が混ざっているでしょう。それが橙ほどではないのだけど」と言葉を重ねていくほかない。

ク、いつまでその作業を繰り返しても、実際の色は伝えきれず、イライラするだけの結果に終わる。

ケ、相手が色の感覚に鈍くて、私にとっての「朱」も、その人にとっては「赤」だと感じてしまうような人だったら？……こうして、問題は振り出しに戻るのである。

このように、ヴィジュアルについての情報が、言葉では表現しきれないのは、B メディアの持つ特性の違いによるものだ。言葉は、いわば一次元的なメディアである。一回に一つのことしか表せない。左図のように主語が来て、それから述語につ

目次へ戻る

ながる、というシンプルな関係である。それを次々につなげていき、言いたいことにまでつなげたところで、終了する。空間的にも、左から右か、上から下か、と一方向にしか進まない。

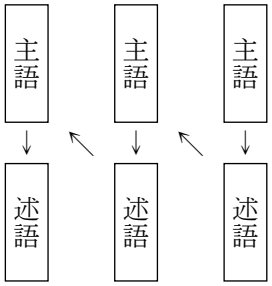

それに対して、静止していても、ヴィジュアル情報は二次元的なメディアだ。周囲と上下左右とさまざまな方向につながり、つながり方も「接する」「重なる」「対称の位置にある」「ねじれの位置にある」（これは立体的だが）といろいろに表せる。データ量も圧倒的に多くなる。だから、ヴィジュアル情報を「言葉として語る」には、元々のデータ量を整理して、データ量が少ないメディアに無理矢理落とし込まなくてはならない。コンピュータを扱う人なら、ヴィジュアル・データの情報量が、文字情報のイ｜ヒではないことを知っているだろう。

だが、C言葉の「一方向にしか流れない」不自由さは、逆に豊かさをも生み出す。多量な情報が高速で流動していくと、何ひとつハッキリした印象を持てないままに、いつの間にか終わってしまうことになりかねない。ちょうど、ミロ[注一]の絵画を初めて見せられたときのように、意味が分からないままに曖昧な印象だけが残る。しかし、一回に限られた情報量しか出て来ないのなら、そのひとつひとつを仔細（しさい）に吟味・検討する余裕が生まれる。構造や組み立て方も推理でき、評価や態度を吟味できる。情報を限って検証するからこそ、こういう評価のプロセスが豊かになるのだ。

目次へ戻る

さらに重要なのは、この「一方向にしか流れない」不自由さが、人間が生きる時間と同じ構造をしていることだ。時間は、自由に戻ったり先に飛躍したり横にずれたりはできない。過去から現在、未来と一方向に淡々と流れるだけだ。因果法則も、そういう時間に沿って「最初にこうなれば、次はこうなるはずだ」という経験から成り立つ。順序や経過や結末という時間、「こうなれば、こうなるはずだ」という論理という要素を表すには、言葉という「一方向にしか流れない」メディアでないとダメなのだ。

逆に、いろいろな方向とつながるヴィジュアル・メディアは、戻ったり、先に進んだり、横にずれたり、回転したり、と自由にできるので、時間のどうしようもない一方向的な構造とはまったく対応しない。だから、過去から現在、未来と流れる因果を表すこともできない。すべての要素は同時的に存在し、それを見る者が、どのようにたどっていくかによって、体験できる時間構造も変わる。自由と言えば聞こえはいいが、見る者の見方・主体的解釈によって変化するので、誰にでも共有できる客観的な受け取り方は成立しないことも少なくない。

結局、言葉は［コ］を表せるが、［サ］のような表現は苦手だ。逆に、ヴィジュアル・メディアは［サ］を見事に表すが、［コ］とは無縁だ。［シ］。どちらの表現が豊かでどちらが貧しいか、は一概には言えないのである。

では、こういうヴィジュアル情報を「理解する」とは、どういう作業になるだろうか？　おそらく、そこには二つの道がある。一つは視覚にテッ（ウ）する道である。いっさい言葉をハイ（エ）して、視覚だけで感じようとする。だが、そんなことが可能なのだろうか？　どんなに言葉をハイしようとしても、イメージを見れば、そこに言葉がついてくる。最低「好きか／嫌いか」という言葉はついて回るだろう。もし「好きだ」というと「どこが？」とか「どうして？」という質問が次に続くかもしれない。人間ならば、そういう質問に答えないではいられまい。答えないなら、そこで、相手とのコミュニケーションを断ち切ることになる。

目次へ戻る

「この絵、いいなー」
「へー、どこが好きなの？」
「全部だよ」
「……全部って、どこが？」
「全部だよ」
「だから、どこが？」
「……全部」

こんな将棋の千日手[注二]のような会話をしているだけでは、せっかくデートでテン覧会[オ]に行ったとしても困るだけだろう。話の接ぎ穂がなくなって、それで終わり。こんな会話しかできないなら、わざわざ連れだってテン覧会に行く意義はなかろう。一人一人別々に行って、自分なりの印象を得て帰れば、それで十分満足なはずである。だが、それでは何かが足りない。せっかく一緒に行くのに、自分が受けた印象を何らかの形で共有しないのはもったいない。逆に、相手の感想を聞いて、新しい発見が湧いて来るということもしばしばである。

相手との会話を弾ませるには、D ヴィジュアル情報を頭の中で処理するだけでは十分ではない。それを、言語情報という異質なメディアに変換しなければ、相手には伝わらない。もちろん、その変換は不完全なものに終わる。色について示したように、ヴィジュアル情報を完全に言語に置き換えることなど、そもそもできる相談ではないからだ。

それでも、言語という貧しいメディアの中でも「この色は思っていたのとちょっと違う」とか「もっと明るく」とか何らかの違和感や期待感をにじませることはできる。それを積み重ねる中から「思った色」や「理想的な形」にたどりつけるかもしれない。だから、ヴィジュアル情報を理解するとは、［　ス　］なのである。

目次へ戻る

（吉岡　友治『ヴィジュアルを読みとく技術』一部変更）

注一　ジュアン・ミロ・・・（一八九三～一九八三）スペイン出身の芸術家。代表作「星座」シリーズは、抽象的で記号化された星や鳥などで画面が構成されている。

注二　千日手・・・将棋で、双方ともが同じ手順を繰り返して、勝負の決まらない状態。

問一　傍線部アからオまでのカタカナ部分と同一の漢字を用いる熟語をそれぞれの選択肢の中から一つ選び、その記号を解答欄 1 から 5 までにマークせよ。

1　アスルドい　①未来エイ劫　②新進気エイ　③エイ俊豪傑　④エイ枯盛衰

2　イヒ　①反ピ例　②拒ヒ権　③ヒ核化　④神ピ性

3　ウテッする　①白紙テッ回　②明テッ保身　③頑固一テッ　④金城テッ壁

4　エハイする　①ハイ他的　②ハイ観料　③交ハイ種　④惜ハイ率

5　オテン覧会　①テン型的　②先テン的　③重テン的　④発テン的

目次へ戻る

問二　空欄 カ キ ク ケ に入る語句の組み合わせとして最も適切なものを次の選択肢の中から一つ選び、その記号を解答欄 6 にマークせよ。

6

① カ そもそも　キ それどころか　ク ただ　ケ ところで
② カ しかし　キ ただ　ク でも　ケ そもそも
③ カ それゆえ　キ ところで　ク たとえば　ケ でも
④ カ たとえば　キ しかし　ク それゆえ　ケ それどころか

問三　空欄 コ サ に入る語句の組み合わせとして最も適切なものを次の選択肢の中から一つ選び、その記号を解答欄 7 にマークせよ。

7

① コ 時間や因果関係　サ 空間
② コ 時間や因果関係　サ 印象
③ コ 体験や主観的世界　サ 空間
④ コ 体験や主観的世界　サ 印象

目次へ戻る

問四 空欄 シ に入る語句として最も適切なものを次の選択肢の中から一つ選び、その記号を解答欄 8 にマークせよ。

8

① 一朝一夕
② 一進一退
③ 一喜一憂
④ 一長一短

問五 空欄 ス に入る語句として最も適切なものを次の選択肢の中から一つ選び、その記号を解答欄 9 にマークせよ。

9

① ヴィジュアルを視覚的な表現で伝達すること
② ヴィジュアルを言語に情報変換すること
③ ヴィジュアルを寸分たがわず文章化すること
④ ヴィジュアルを注意深く鑑賞すること

目次へ戻る

問六　傍線部Aに「『朱』に近い色は無限にあるので、この作業を無限に続けても、言葉で色の具合を言い尽くすことはできない」とあるが、それはなぜか。その理由として最も適切なものを次の選択肢の中から一つ選び、その記号を解答欄 10 にマークせよ。

① 色は色見本によって視覚的には明確に区分できるが、それを言語化するには個人差が生じるから。
② 色は組合せで無限に作れても、人の視覚はそれらすべてを識別できず言語にも変換できないから。
③ 色は目では一色に見えても、言語によっては無限の表現のヴァリエーションが存在しているから。
④ 色は連続的な変化をしていくが、言語ではある区間を段階的にしか表現することができないから。

問七　傍線部Bに「メディアの持つ特性の違い」とあるが、それはどういうことか。その説明として最も適切なものを次の選択肢の中から一つ選び、その記号を解答欄 11 にマークせよ。

① 言語はヴィジュアル化できないものであり、ヴィジュアルは言語化できるものであるということ
② 言語は中身を読解するのに時間がかかり、ヴィジュアルは一目見れば中身が分かるということ
③ 言語は点から点への道筋が一義的であるが、ヴィジュアルには様々な道筋がありうるということ
④ 言語は表現方法に決まりがあるが、ヴィジュアルは自由で豊かな表現が可能であるということ

目次へ戻る

問八　傍線部Cに「言葉の『一方向にしか流れない』不自由さは、逆に豊かさをも生み出す」とあるが、それはどういうことか。その説明として最も適切なものを次の選択肢の中から一つ選び、その記号を解答欄 12 にマークせよ。

① 言葉は解釈の幅や曖昧さを残さず、誰が読んでも同じ意味として理解できるため、ある事柄に関する共通認識を持つのに適しているということ

② 言葉は情報のデータ量を小さくでき、情報の中から注目点のみを抽出しやすいため、その部分について深く検討するのに適しているということ

③ 言葉は時間のように一方向にのみ流れており、振り返ることが困難であるため、その時々で直感的な思考をするのに適しているということ

④ 言葉は情報の受取り方が限定され、その内容に関する意見の対立が生じにくいため、一つの答えを導くための議論に適しているということ

問九　傍線部Dに「ヴィジュアル情報を頭の中で処理するだけでは十分ではない。それを、言語情報という異質なメディアに変換しなければ、相手には伝わらない」とあるが、それはどういうことか。その説明として最も適切なものを次の選択肢の中から一つ選び、その記号を解答欄 13 にマークせよ。

① 自分自身が感じたことを言葉で表現し、会話する上での共通の土台を相互に持つ必要があるということ

② 見たものについて上手に説明するために、聞き手に効果的に伝わる話し方を学ぶ必要があるということ

③ ヴィジュアルを相手に伝達する大前提として、見たものを写真のように記憶する必要があるということ

④ 目から入ってくる情報に対する感覚を研ぎ澄まし、言葉選びを的確に行っていく必要があるということ

目次へ戻る

問十　筆者の主張について説明した次の文章を完成させるよう、各欄に入る最も適切な選択肢を一つずつ選び、その記号を解答欄 14 から 19 にマークせよ。

言語情報は 14 な解釈が可能であるが、ヴィジュアル情報は 15 な解釈を許す。また、言語情報は 16 を表現するのに、ヴィジュアル情報は 17 を表現するのに適している。ただし、ヴィジュアル情報の理解には、言語情報が不可欠である。というのも、ヴィジュアル情報に関する 18 を言語化することで、他者とそれを 19 し、さらなる解釈や思考へとつなげることができるからである。

14 15 16 17 18 19

① 体験
② 主観的
③ 知識
④ 客観的
⑤ 学習
⑥ 共有
⑦ 流れ
⑧ 広がり
⑨ 固まり

目次へ戻る

II

次の文章を読んで、後の問いに答えよ。解答は、解答用紙の 20 から 32 までにマークせよ。

身体にとって、世界は知覚空間であると同時に行動の空間でもある。空間は、身体の振る舞いをさまざまな規則によって制約している。身体が物理的存在である以上、空間の物理学的法則に縛られることはいうまでもないが、行動に制約を加える規則は他にも多くある。行動の空間は物理的であると同時に社会的でもあるからである。

スポーツ空間は規則によって成立するゲーム空間でもある。ゲームの規則は構成的規則[A]と呼ばれ、新たな行動を創造し、それなしでは当該の行動空間が成立しないようなものである。ゲーム空間では、勝敗を決するために、明確な判定が要求される。知覚的に判別できなくても、判定不能であることは許されない。［ア］、判定を下すことはその空間を成立させる規則の一部であり、判定不能であることは、同時にそこがゲーム空間として成立しないことを意味するからである。［イ］、テニスコートのようなゲーム空間で起こる出来事は、インかアウトかどちらか、［ウ］二値的でなければならないのだ。こうした点では、ゲーム空間はそもそもヴァーチャルであり、人工空間であるともいえる——対して、現実の生活世界の大部分では、（インとかアウトを決めるような）境界は、厳密にいえば、いつも曖昧であり、それで事足りている。とはいえ、ゲーム空間自体は生活世界のなかにあり、生身の人間の知覚能力の範囲内で、間主観的な合意[B]で判定が下されている。

ところが、技能を極限まで高めたプロフェッショナルなスポーツ空間では、ますます判定することが困難になりつつある。時速二〇〇キロを超えるサーブやとてつもないテンポで展開するストローク戦で、ボールがぎりぎりのところでラインに触れているかどうかを知覚的に判断することはほとんど不可能であろう。それでも、判定への要求が割り引かれるわけではない。この要求はまず、ハイスピード・カメラによる映像の導入をもたらした。ビデオは、本来連続的であるはずのボールの軌道をフィルムのコマによって細分化し、生身の人間にも知覚可能な映像として見せるものであり、人間の審判はその

目次へ戻る

映像に基づいて判定を下す。次に登場したのが、ホークアイ[注]のような画像処理システムそれ自体による判定である。後者は、スポーツ空間の異なる意味でのヴァーチャル化[C]であるといってもいい。なぜなら、神の眼をもつそのシステムが導入されたスポーツ空間は、人間の認識とは無関係に、真なる出来事の生起する空間になるからである。

ところで、ここで指摘しなければならないのは、スポーツする身体が高度な技能を身につけ、おのれの限界を超えていくために科学技術の対象となることと、スポーツ空間への科学技術の介入は、不可分に結びついている[D]、あるいは、両者は相互的である、という点である。技能がますますスピードを増す事態は、判定する生身の人間の能力を超えていくからである。もちろん、容易に知覚できるようなレベルのスピードでも、インかアウトか微妙な状況もあるだろう。だが、その場合、ホークアイのようなものを導入せずとも、判定をめぐる合意形成は比較的容易だといえる。月並みなスピードのゲームでは、出来事は知覚能力の範囲内にあるという暗黙の了解があり、多数の意見の一致が得られる可能性が高いからである。

［エ］的に、知覚能力を超えた出来事については、こうしたかたちの合意形成はありえない。

もう一方で、科学技術の介入と技能の高度化がプロフェッショナル・スポーツの世界にもたらしたのは、生身の身体とサイボーグの身体との境界線が曖昧になり、現実空間とヴァーチャル空間との境界線が事実上なくなりつつあるという事態である。かつて、スポーツ空間は選手たちにとって主観・客観の二分法を超えるような場所[E]（客観的世界のなかにありつつ、対象ではないもの）と評されたが、科学技術によって、それはリアリティとヴァーチャリティがますます錯綜（さくそう）したものになりつつある。ホークアイが作り出す映像は、観客にとって紛れもなく生活世界の出来事である。科学的世界像は、知的、科学的活動を行う科学者にとってパラダイムとして現れてきたが[F]、スポーツ空間ではテクノロジーの作成したイメージが一般のひとびとにとって真の実在としてそのまま受け止められている、ということである。観客の大半は、映し出される映像が統計的手法を用いてコンピュータが作り上げたものだということを知らない。実のところ、彼らにとっては、それがヴァーチャルかリアルかなど問題ではない。問題はインかアウトか、だからである。

目次へ戻る

（長滝　祥司　『スポーツとテクノロジー』一部変更）

注　ホークアイ・・・テニスなどの試合で使われる自動ライン判定システム。複数のハイスピード・カメラがボールなどの位置をリアルタイムで追いかけて、そのデータを映像に変換する。

問一　空欄 ア イ ウ に入る語句の組み合わせとして最も適切なものを次の選択肢の中から一つ選び、その記号を解答欄 20 にマークせよ。

20

① ア　ところが　イ　しかし　ウ　さらに
② ア　しかし　イ　ところが　ウ　たとえば
③ ア　また　イ　それでも　ウ　ついでに
④ ア　なぜなら　イ　たとえば　ウ　つまり

問二　空欄 エ に入る語句として最も適切なものを次の選択肢の中から一つ選び、その記号を解答欄 21 にマークせよ。

21

① 対照
② 対償
③ 対象
④ 対称

目次へ戻る

問三　傍線部Aに「構成的規則」とあるが、それに当てはまる規則の例として最も適切なものを次の選択肢の中から一つ選び、その記号を解答欄 22 にマークせよ。

① 自動車や自転車を運転する際には、たとえ酔った自覚がなくても飲酒してはならない。
② オークションで商品を競り落とすには、最終的に最高価格を入札しなければならない。
③ ステーキを食べるときには、右手にナイフ、左手にフォークを持たなければならない。
④ スポーツを長時間にわたってプレイするときには、水分の補給をしなければならない。

問四　傍線部Bに「間主観的な合意」とあるが、それはどのようなことを指すのか。最も適切なものを次の選択肢の中から一つ選び、その記号を解答欄 23 にマークせよ。

① 複数の人間のあいだに立って判定を下す人を置くルールが存在する状況
② ある事柄について複数の人間のあいだで了解が成り立っている状況
③ 主観と客観の中間的な見方で判断することが認められている状況
④ 人々がものごとを判断する際、厳密さと曖昧さを同視している状況

目次へ戻る

問五　傍線部Cに「異なる意味でのヴァーチャル化」とあるが、それはどういうことか。その説明として最も適切なものを次の選択肢の中から一つ選び、その記号を解答欄 24 にマークせよ。

24

① ゲーム空間上の出来事は人間の行為であるのに、機械による判断に任せて、人間の認識が不要となること

② 仮想空間であるスポーツ空間上で、実際には起きていない出来事を実在したかのように人間に見せること

③ 元来、仮想空間であるゲームの世界に人間の知覚を超えた判定処理が導入され、より仮想化が進んだこと

④ スポーツ空間はリアルな世界だと思われているが、大半はコンピュータが作り出した映像に過ぎないこと

問六　傍線部Dに「スポーツする身体が高度な技能を身につけ、おのれの限界を超えていくために科学技術の対象となることと、スポーツ空間への科学技術の介入は、不可分に結びついている、あるいは、両者は相互的である」とあるが、その説明として**適切でない**ものを次の選択肢の中から一つ選び、その記号を解答欄 25 にマークせよ。

25

① 生身の人間のスポーツ技能の高さを見に来た観客が、その技能の高さは科学技術の導入によって実現していることに気づいてスポーツへの関心を失っていくということ

② 技能が高度化したスポーツ選手は科学技術を取り込んでさらに技能を磨こうとするが、しだいに自らの身体能力だけでなく科学技術の向上に頼ってしまう可能性があること

③ スポーツに科学技術が当然のように用いられることによって、生身の人間の鍛錬による技能の高さと科学技術の進歩による成果の高さが、見る人にとって判別できない状況になること

④ スポーツ選手の技能の高度化に追いつくには、その能力や成果を判定する科学技術が必要であり、同時にそれがスポーツ選手の技能のさらなる高度化に貢献しているということ

目次へ戻る

問七　傍線部Eに「スポーツ空間は選手たちにとって主観・客観の二分法を超えるような場所」とあるが、それはどういうことか。その説明として最も適切なものを次の選択肢の中から一つ選び、その記号を解答欄 26 にマークせよ。

26

① スポーツ空間は、選手のプレイ結果の客観的判定が重要な要素であるが、審判は人間であるため主観的な判断が競技結果を決めてしまう場であること

② スポーツ空間は、プレイする選手の技能を多くの観衆に明らかにする客観性とそれを娯楽として楽しむ観客の主観性の双方が求められる場であること

③ スポーツ空間は、ゲームの場として認識される客体であるが、そこに投げ込まれてプレイに没入している選手にとっては当事者として戦う場でもあること

④ スポーツ空間は、選手にとって技能の優劣を客観的に判断されるだけでなく、もてる能力を存分に発揮したという主観的な満足を求める場でもあること

目次へ戻る

問八　傍線部Fに「科学的世界像は、知的、科学的活動を行う科学者にとってパラダイムとして現れてきたが、スポーツ空間ではテクノロジーの作成したイメージが一般のひとびとにとって真の実在としてそのまま受け止められている」とあるが、それはどういうことか。その説明として最も適切なものを次の選択肢の中から一つ選び、その記号を解答欄 27 にマークせよ。

27

① 科学技術の介入によってスポーツ空間の非日常的な細部まで露わになり、科学者はリアルな世界との区別をつける課題を持ったが、一般のひとびとは依然として実際に見えたことにしか関心がない。

② 科学技術が介入することで元来ヴァーチャルなものであるスポーツ空間の客観性が高まっているが、ひとびとはますます没入を深めてそこをリアルな世界そのものと見なしている。

③ 科学技術がつくり出す世界のイメージは現実とは異なるため、真理を追求する者はつくり出された世界の背後にある実像を探索するが、一般のひとびとは科学技術がつくる姿で満足している。

④ 科学技術はリアルな世界を映像として提示することを可能にしたが、一般のひとびとにはその映像がリアルかヴァーチャルであるかには関心がなく、科学者の認識とのあいだで乖離が生じてきた。

目次へ戻る

問九　筆者の主張について説明した次の文章を完成させるよう、各欄に入る最も適切な選択肢を一つずつ選び、その記号を解答欄 28 から 32 までにマークせよ。

そもそも、スポーツ空間は 28 によって成り立つ 29 空間である。かつてのスポーツ空間は、30 の中にあり、31 の範囲で判断を下す合意が一般的に存在したが、技能が極限まで高まった現代のスポーツ空間では、科学技術が導入され、29 化がさらに進行している。しかし、そこに没入する観客はその空間をそのまま 32 な世界として受け止めている。

28
29
30
31
32

① イメージ
② リアル
③ ヴァーチャル
④ テクノロジー
⑤ 物理学的法則
⑥ ゲームの規則
⑦ 知覚能力
⑧ 生活世界
⑨ 科学的世界

目次へ戻る

国語

番号	正解
1	2
2	1
3	3
4	1
5	4

番号	正解
6	2
7	1
8	4
9	2
10	4

番号	正解
11	3
12	2
13	1
14	4
15	2

番号	正解
16	7
17	8
18	1
19	6
20	4

番号	正解
21	1
22	2
23	2
24	3
25	1

番号	正解
26	3
27	2
28	6
29	3
30	8

番号	正解
31	7
32	2

目次へ戻る

2023 年度 一般入試問題・解答例

目次へ戻る

Ⅰ 次の問い（問１～３）に答えよ。

問１．次の問い（１）～（10）の空所に入れるのに最も適当なものを、それぞれ下の①～④のうちから一つずつ選べ。

（１） I（　　）my homework by the time my roommate gets home. 1

① finished ② will have finished
③ would finish ④ are finished

（２） （　　）there are various conflicts and frictions between the races of man is a point made clear within this book as well. 2

① That ② Which ③ What ④ Who

（３） It would have been a different world if he（　　）his job and lived in the countryside. 3

① leave ② left ③ had left ④ have left

（４） I like living here because it is so peaceful and the air is really fresh, so it is（　　）nicer than in the city. 4

① very ② such ③ much ④ more

（５） There was one king bed which（　　）almost all of the space in the tiny room. 5

① appeared ② prevented ③ entered ④ occupied

（６） By the way, would you like（　　）? I've got more. 6

① pieces chicken ② a piece of chickens
③ many chickens ④ some chicken

（７） I had such a bad leg I could（　　）walk, let alone play ball. 7

① possibly ② hardly ③ rarely ④ completely

（８） The data suggested that infections in London（　　）just before Christmas. 8

① rotated ② peaked ③ breathed ④ swallowed

目次へ戻る

（9） （　　）put, culture is the combination of the behaviors of people in the organization — often described as “the way we do things around here.” 9

① To simple ② Simply

③ Being simple ④ Simplicity

(10) All accounts are included in the report of possible adverse reactions to Covid-19 vaccines, （　　）of whether or not the event is believed to be linked to vaccination. 10

① because ② despite

③ regardless ④ instead

問2．次の問い（1）～（9）の英文を①～④の語や語句を使って完成するとき、［　　］内で3番目にくるものをそれぞれ下の①～④のうちから一つずつ選べ。

（1） She opened the window, though I［① her ② to ③ told ④ not］. 11

（2） He says that his father［① him ② by ③ always ④ stood］and tried to help. 12

（3） We loved the hotel and the room was excellent, but the food was not as［① as ② should ③ it ④ good］have been. 13

（4） How does it feel to play soccer? Is it very［① from ② futsal ③ different ④ playing］? 14

（5） She said that you have to not［① the ② after ③ look ④ only］children, but also to do the dishes. 15

（6） You might want to have something［① take ② with ③ to ④ notes］too, though there’s a note-taking app built into the courses which works really well. 16

目次へ戻る

（7） I am a strong person, but once in a while, I［① someone ② to ③ need ④ hug］me and tell me everything is going to be okay. 17

（8） Billy was always meeting new people and he became very close with them, as［① he ② if ③ known ④ had］them his whole life. 18

（9） Professor King highlights that the cost of being in a hospital in the United States is［① nearly ② as ③ twice ④ expensive］as in New Zealand. 19

問3．次の問い（1）～（10）の空所に入れるのに最も適当なものを、それぞれ下の①～④のうちから一つずつ選べ。

（1） しつけは、明確なルールと結果を通じて、自分の行動を管理する方法を子どもに教えます。 20

（　　）teaches your child how to manage their behavior through clear rules and consequences.

① Discipline ② Ignorance

③ Property ④ Currency

（2） 社内の情報セキュリティ担当は誰ですか。情報セキュリティは非常に重要であるにもかかわらず、見落とされがちです。 21

Who is（　　）information security within your company? Although very important, information security is often overlooked.

① in need of ② short of

③ aware of ④ in charge of

目次へ戻る

（3） 卵黄に残りの砂糖を入れ、泡状になるまで泡立て器でかき混ぜます。

22

Put the rest of the sugar into the egg yolk and（　　）it with the whisk until the mixture is foamy.

① greet ② stir ③ hunt ④ orbit

（4） この曲は、年配の方には受けないと思います。 23

I don't think this song will（　　）with older people.

① bring in ② catch on ③ stick up ④ call off

（5） もしあなたが真実を知っているならば、それを世界に伝える勇気がありますか。 24

If you know the truth, do you have the（　　）to tell it to the world?

① tongue ② talent ③ courage ④ mind

（6） オンラインマガジンを購読しようとしたが、理由不明で断られた。

25

I tried to（　　）to an online magazine but was declined for an unknown reason.

① subscribe ② contribute

③ negotiate ④ delete

（7） 我々はこれまで、どれだけやってきたのだろうか。 26

How far have we come（　　）?

① by far ② until now ③ so long ④ for long

（8） 彼の母国での生活については、何も情報がない。 27

We have no information（　　）his life in his native country.

① concern ② concerning

③ concerned ④ to be concerned

目次へ戻る

（9） ベイリー、この宿題を手伝ってくれますか。 28

Bailey, can you give me a（　　）with this homework?

① hand ② neck ③ leg ④ finger

(10) 応募書類をたくさん送っても、採用される確率が上がるわけではありません。 29

Sending out more（　　）doesn't increase your chances of getting hired.

① applications ② attractions

③ creations ④ situations

目次へ戻る

Ⅱ 次の英文を読み、下の問い（問１～３）に答えよ。

Health care is a topic that touches almost every person at some time in their life. Both Japanese and North Americans are ⓐfortunate in having the best technology that medical science can offer. Although one can receive top quality health care in both Japan and North America, there are still some big differences in the way the two health care systems treat their sick people. In order to understand these differences, let's take a look at what happens to a sick person who visits a doctor in each society.

In Japan, a sick person must first decide which kind of doctor to visit. For example, for skin problems the sick person will go to a dermatologist, and for eye problems the patient will choose the clinic of an eye doctor. Often a person with a cold will go to an internist's clinic and be treated there. In North America, sick people with almost any illness will first go to their family doctor, who will treat the person, or in more serious cases send the sick person to a specialist. People with colds often do not go to a doctor because they think the illness is not serious enough, plus they think that a doctor cannot cure a cold.

In the doctor's office in Japan, the patient usually has very little time to spend with the doctor. Also, there may be other patients or nurses nearby who can see and hear the sick person talking with his or her doctor. In usual cases, after about five minutes, the doctor ⓑprescribes or gives the patient some drugs, often several different types, and tells the patient that the medicine should cure the illness. In fact, Japanese doctors give [（A）] more drugs than those of any other country in the world. In many cases the doctor does not explain the nature of the illness or the medicine that has been issued.

In North America, because most people have a family doctor, there is often a more personal relationship between doctor and patient. Also, because more money is spent on health care [（B）] Japan, doctors have more time to spend

with their patients. Patients also tend to be given more privacy. Doctors usually try to explain the problem to their patients and then prescribe drugs (C) necessary. Unlike Japan, North American doctors do not give drugs directly to patients; therefore doctors or hospitals do not make money when they prescribe medicine. This is an important difference because Japanese doctors ⓒend up prescribing much more medicine to their patients as a way of earning money. In addition, the reason why Japanese doctors tend to order so many tests, like X-rays, may be to make extra money.

Culturally speaking, visiting the doctor shows interesting differences. Americans have a greater desire for privacy, which may explain why patients are kept more separate from each other than in Japan. Cultural differences can also be seen in the way doctors and patients interact. In Japan, doctors have a very high position in society's ⓓvertical hierarchy and are given great respect. (D), the patient usually trusts the doctor's advice without any questions. In North America, patients feel that part of a doctor's job is to explain the ⓔdiagnosis to them. Although doctors have a high status in North America, people are less trusting than in Japan. This may be because, in a horizontal society, even members with high status are not so far removed from those of lower status.

In more serious cases, other differences (E). In Japan, when a patient has an illness that may lead to death, doctors often avoid telling this to the patient. One reason for this may be that telling the truth requires more time and building a personal relationship with the patient. Japanese doctors simply do not have enough time to do this. Additionally, because of the doctor's high position, patients will often not ask detailed questions about their illnesses. In North America, people are very aware of individual rights and they expect doctors to answer their questions clearly and truthfully. If not, they will find another doctor. Therefore, doctors seldom hide the truth from their patients.

The way patients pay for their health care also reflects culture. In Japan

目次へ戻る

and Canada, government health insurance systems cover almost every person in the country. In the United States, however, there are 40 million people without insurance. The strong sense of individualism in the United States may be the reason why national health insurance does not exist. Government insurance means that people have less control over their own health care, and this is seen as taking away the rights of the individual.

Finally, perhaps the most important thing is how long people live. Japanese have the longest life span in the world even though they spend only half the amount of money that Americans do on health care. Although ⓕ diet and lifestyle are related to life span, health care is an important factor, too. Japan also has the lowest infant mortality in the world.

It's clear that the health care systems of Japan and North America are (F) far from perfect, but they tend to reflect the needs of their countries in a culturally sensitive way.

問1．空所 (A) ～ (F) に入れるのに最も適当なものを、それぞれ下の①～④のうちから一つずつ選べ。

(A)	① in	② out	③ up	④ over	30
(B)	① compared to		② in order to		
	③ as well as		④ between		31
(C)	① unless	② because of	③ despite	④ if	32
(D)	① In contrast		② Although		
	③ However		④ Therefore		33
(E)	① arise	② raised	③ rising	④ raise	34
(F)	① either	② not only	③ neither	④ both	35

目次へ戻る

問２．下線部ⓐ～ⓕの意味に最も近いものを、それぞれ下の①～④のうちから一つずつ選べ。

ⓐ 36

① 親切にも ② 寛大にも ③ 幸運にも ④ 意外にも

ⓑ 37

① 処方する ② 表現する ③ 説明する ④ 診断する

ⓒ 38

① ～することになる ② ～するのをやめる

③ ～するのをあきらめる ④ ～を再開する

ⓓ 39

① 架空の ② 幻覚の ③ 横の ④ 縦の

ⓔ 40

① 副作用 ② 効能 ③ 手術 ④ 診断

ⓕ 41

① 運動 ② 減量 ③ 体質 ④ 食事

問３．本文の内容から判断して、（１）～（５）の質問の答えとして最も適当なものを、それぞれ下の①～④のうちから一つずつ選べ。

（１） What does this passage mainly discuss? 42

① Differences in the quality of medical care between Japan and North America

② Differences in the social status of doctors between Japan and North America

③ Differences between the health care systems in Japan and North America

④ Differences in medical insurance coverage between Japan and North America

目次へ戻る

（2） What do most people do when they catch a cold in North America?

43

① See an internist

② See a family doctor

③ Do not take a bath

④ Do nothing

（3） Why does the author state that Americans trust doctors less than Japanese? 44

① Because relationships between people of high and low status are not far apart

② Because medical errors by doctors occur frequently

③ Because the higher the social status, the less they are trusted

④ Because doctors do not have high social status

（4） In North America, what does a doctor do when a patient has an illness that may lead to death? 45

① A doctor hides the truth from the patient.

② A doctor usually tells the truth to the patient.

③ A doctor tells the truth only when she has a good relationship with her patient.

④ A doctor tells the truth only to family members.

（5） What does the author state is the reason why the United States does not have universal health care? 46

① Because Americans believe it is an individual's right to have more control over their own health care

② Because government finances are tight

③ Because many individuals are physically strong and few need health insurance

④ Because the government is very powerful

目次へ戻る

英語

番号	正解
1	2
2	1
3	3
4	3
5	4

番号	正解
6	4
7	2
8	2
9	2
10	3

番号	正解
11	4
12	2
13	3
14	4
15	2

番号	正解
16	4
17	2
18	4
19	2
20	1

番号	正解
21	4
22	2
23	2
24	3
25	1

番号	正解
26	2
27	2
28	1
29	1
30	2

番号	正解
31	1
32	4
33	4
34	1
35	4

番号	正解
36	3
37	1
38	1
39	4
40	4

番号	正解
41	4
42	3
43	4
44	1
45	2

番号	正解
46	1

目次へ戻る

Ⅰ 古代オリエント世界に関する以下のAおよびBの文章を読み、後の問い（問1～問10）に答えなさい。 1 ～ 10

A オリエントとは（ ⓐ ）で「日が昇るところ」を意味し、この地では古代文明が栄えた。とくに大河の流域では定期的な増水を利用して灌漑農業が営まれ、前3000年頃に都市文明が成立した。ティグリス・ユーフラテス両河流域のⓑメソポタミアには周辺から遊牧民が豊かな富を求めて移住し、複雑な歴史を展開した。前2700年頃までにはシュメール人の都市国家が数多く形成され、王を中心にした階級社会が成立した。シュメール人はⓒ楔形文字をつくり、粘土板に刻まれたその文字はオリエント世界で広く使用された。しかし前24世紀頃、シュメール人はセム語系のアッカド人に征服された。アッカド人はメソポタミア初の統一王国を建てたが、異民族の侵入によって崩壊し、かわってセム語系遊牧民のアムル人がバビロン第一王朝をおこし、（ ⓓ ）のとき全盛期を迎えた。王は全メソポタミアを統一し、交通網を整備して商業を発展させる一方で、官僚機構を整備して中央集権国家を建設した。バビロン第一王朝は前16世紀初め、ⓔヒッタイト人によって滅ぼされた。

問1 空欄ⓐに入る言語として最も適当なものを、次の①～④のうちから一つ選べ。 1

① ペルシア語 ② ギリシア語 ③ ラテン語 ④ アラビア語

問2 下線部ⓑの説明として誤っているものを、次の①～④のうちから一つ選べ。 2

① ギリシア語で「川の間の土地」を意味する。

② ほぼ現在のイランと重なる。

③ 灌漑農耕が発達したが、塩害に苦しめられた。

④ 農産物と粘土以外の資源に恵まれていなかった。

目次へ戻る

問３　下線部ⓒの説明として正しいものを、次の①～④のうちから一つ選べ。

3

① グローテフェントとローリンソンによって解読された。

② 「死者の書」はこの文字によって書かれている。

③ ロゼッタ＝ストーンが解読の手がかりとなった。

④ 神官文字と民用文字があった。

問４　空欄ⓓに入る王名として最も適当なものを、次の①～④のうちから一つ選べ。 4

① サルゴン１世　② キュロス２世

③ ネブカドネザル２世　④ ハンムラビ王

問５　下線部ⓔの説明として誤っているものを、次の①～④のうちから一つ選べ。

5

① インド＝ヨーロッパ語系民族である。

② はじめて鉄器を本格的に使用した。

③ シリアをめぐってエジプトと対立した。

④ 「海の民」としてアナトリアを侵略した。

目次へ戻る

B　メソポタミアとならんで早くから文明が栄えたエジプトでは、ナイル川の定期的氾濫が麦の生育のサイクルと整合したため、農耕文明が繁栄した(ⓕ)。前3000年頃、エジプトではメソポタミアよりもはやく、ファラオによる統一国家が成立した。一時的に周辺民族の侵入や外部の支配をうけることもあったが、国内の統一は長く続き、約30の王朝が交替した。この間、特に繁栄した時代を古王国・中王国・新王国の３期に区分する。

ナイル下流域を中心に栄えた古王国の時代には、神である王の絶大な権力を象徴する巨大なピラミッドが建設された(ⓖ)。第６王朝の崩壊後、地方勢力が割拠し、国内は乱れた。やがて（　ⓗ　）の王が混乱を収拾し、エジプトは再統一され、中王国時代にはいった。中王国時代末期になると、シリア方面から（　ⓘ　）が流入し、国内は一時的に混乱した。しかし前16世紀に新王国がおこり、領土はシリアにまで拡大され、トトメス３世の時代には最大領土となった。前14世紀にはアメンホテプ４世がアマルナ改革と呼ばれる一連の改革を遂行し、写実的なアマルナ美術がうみだされた(ⓙ)。

問６　下線部ⓕに関連して「エジプトはナイルのたまもの」という言葉を残した歴史家を、次の①～④のうちから一つ選べ。 6

①　ヘシオドス　　②　ヘロドトス

③　トゥキディデス　　④　プルタルコス

問７　下線部ⓖに関連する王として適当でないものを、次の①～④のうちから一つ選べ。 7

①　ラメス２世　　②　クフ王

③　カフラー王　　④　メンカウラー王

目次へ戻る

問８　空欄ⓗに入る都市名として最も適当なものを、次の①～④のうちから一つ選べ。 8

①　カイロ　②　ギザ　③　テーベ　④　メンフィス

問９　空欄ⓘに入る民族として最も適当なものを、次の①～④のうちから一つ選べ。 9

①　カッシート人　②　フルリ人　③　エフタル　④　ヒクソス

問10　下線部ⓙに関連する事柄として誤っているものを、次の①～④のうちから一つ選べ。 10

①　アメンホテプ４世はイクナートンと改名した。

②　アメンホテプ４世はテル＝エル＝アマルナに遷都した。

③　アメンホテプ４世は太陽神アモン＝ラーを唯一神とした。

④　王妃ネフェルティティの胸像はアマルナ芸術の代表作である。

目次へ戻る

Ⅱ 次の略年表を読み、後の問い（問１～問10）に答えなさい。 11 ～ 20

1494年	ⓐイタリア戦争がおこる。
1527年	ⓑカール５世が（ ⓒ ）に侵攻する。
1559年	（ ⓓ ）が締結される。
1571年	ⓔレパントの海戦がおこる。
1572年	ⓕサンバルテルミの虐殺がおこる。
1581年	ⓖネーデルラント連邦共和国が独立を宣言する。
1585年	（ ⓗ ）がスペイン軍に占領される。
1600年	（ ⓘ ）の特許状によって東インド会社が設立される。
1648年	ⓙウェストファリア条約が結ばれる。

問１　下線部ⓐにおいて最も対立し、その後のヨーロッパの国際関係に大きく影響した組み合わせとして最も適当なものを、次の①～④のうちから一つ選べ。

11

① フランス ＋ オスマン帝国

② フランス ＋ 神聖ローマ帝国

③ ヴェネツィア共和国 ＋ ミラノ公国

④ 神聖ローマ帝国 ＋ イギリス

問２　下線部ⓑの説明として誤っているものを、次の①～④のうちから一つ選べ。

12

① スペイン王としてはカルロス１世である。

② ヴォルムス帝国会議を開き、ルターを召喚した。

③ ポルトガルをスペイン領に併合した。

④ オーストリア・スペイン両ハプスブルク家の支配者として君臨した。

目次へ戻る

問３　空欄ⓒに入る都市として最も適当なものを、次の①～④のうちから一つ選べ。 13

①　フィレンツェ　②　パリ　③　ミラノ　④　ローマ

問４　空欄ⓓに入る最も適当なものを、次の①～④のうちから一つ選べ。 14

①　アウクスブルクの和議　②　カトー＝カンブレジ条約

③　トルデシリャス条約　④　ユトレヒト条約

問５　下線部ⓔで敗北した国として最も適当なものを、次の①～④のうちから一つ選べ。 15

①　オスマン帝国　②　イタリア　③　スペイン　④　フランス

問６　下線部ⓕを主導したとされる人物として最も適当なものを、次の①～④のうちから一つ選べ。 16

①　ルイ13世　②　アンリ３世

③　アンリ４世　④　カトリーヌ＝ド＝メディシス

問７　下線部ⓖに関連する事柄として誤っているものを、次の①～④のうちから一つ選べ。 17

①　独立の背景にはスペイン王のカトリック化政策があった。

②　オラニエ公ウィレムが独立戦争の指導者だった。

③　信教の自由を求めて、ユトレヒト同盟を結成していた。

④　南部10州が構成した連邦制の共和国である。

問８　空欄ⓗに入る商業都市として最も適当なものを、次の①～④のうちから一つ選べ。 18

①　アムステルダム　②　アントウェルペン

③　ブルージュ　④　ロッテルダム

目次へ戻る

問９　空欄ⓘに入る王名として最も適当なものを、次の①～④のうちから一つ選べ。 19

①　フェリペ２世　　②　メアリ１世

③　エドワード６世　　④　エリザベス１世

問10　下線部ⓙに関連する事柄として誤っているものを、次の①～④のうちから一つ選べ。 20

①　これによってカルヴァン派にルター派と同等の権利が与えられた。

②　これによってスイスとオランダの独立が国際的に承認された。

③　これによってドイツの諸侯にほとんど完全な主権が認められた。

④　これによってデンマークがバルト海の制海権を獲得した。

目次へ戻る

Ⅲ 東アジア諸地域の自立化に関する以下の問い（問１～問10）に答えなさい。

21 ～ 30

問１　高麗の建国者として最も適当なものを、次の①～④のうちから一つ選べ。

21

①　王仙芝　　②　王維　　③　王建　　④　王直

問２　11世紀初めに李氏がベトナムに建てた国として最も適当なものを、次の①～④のうちから一つ選べ。 22

①　大越国　　②　大理　　③　吐蕃　　④　チャンパー

問３　11世紀の初めに宋と遼が結んだ「澶淵の盟」の内容として誤っているものを、次の①～④のうちから一つ選べ。 23

①　宋が毎年多額の銀や絹を遼におくる。

②　宋が兄、遼が弟の関係とする。

③　両国間の国境を保全する。

④　遼は燕雲十六州を宋にゆずる。

問４　西夏の初代皇帝として最も適当なものを、次の①～④のうちから一つ選べ。

24

①　耶律阿保機　　②　李元昊　　③　完顔阿骨打　　④　耶律大石

問５　1115年に建国された金に関する事柄として正しいものを、次の①～④のうちから一つ選べ。 25

①　チベット系民族タングートの王朝である。

②　西夏と北宋を滅ぼした。

③　契丹や西夏と同様、独自の文字がつくられた。

④　1227年チンギス＝ハンに滅ぼされた。

目次へ戻る

問６　宋の建国者である趙匡胤の政策として誤っているものを、次の①～④のうちから一つ選べ。 26

①　武人からの兵権回収　　②　一世一元の制

③　禁軍の再編　　④　文人官僚制

問７　靖康の変ののち、南宋を建てた皇帝として最も適当なものを、次の①～④のうちから一つ選べ。 27

①　太宗　　②　徽宗　　③　欽宗　　④　高宗

問８　南宋の都として最も適当なものを、次の①～④のうちから一つ選べ。

28

①　開封　　②　明州　　③　臨安　　④　広州

問９　朱熹が重視した四書に含まれないものを、次の①～④のうちから一つ選べ。

29

①　『礼記』　　②　『中庸』　　③　『大学』　　④　『論語』

問10　司馬光が著した編年体の通史として最も適当なものを、次の①～④のうちから一つ選べ。 30

①　『春秋』　　②　『資治通鑑』　③　『新五代史』　④　『史記』

目次へ戻る

Ⅳ 世界史に関わる資料に基づいた、以下の問い（問１～問５）に答えなさい。

31 ～ 35

問１　上の画像はイギリスのアフリカ縦断政策を風刺しているが、ここに描かれた人物として最も適当なものを、次の①～④のうちから一つ選べ。 31

①　ゴードン　　②　ローズ　　③　チェンバレン　④　ディズレーリ

問２　上の風刺画の人物が建国した国として最も適当なものを、次の①～④のうちから一つ選べ。 32

①　トランスヴァール共和国　　②　オレンジ自由国

③　カメルーン　　④　ローデシア

目次へ戻る

問３　前頁の風刺画の人物の政策は、彼の失脚後、南アフリカ戦争へと発展していく。この戦争でイギリスと敵対したブール人の祖先として最も適当なものを、次の①～④のうちから一つ選べ。 33

①　オランダ人　②　ベルギー人　③　ロシア人　④　ドイツ人

問４　下の地図は20世紀初頭のアフリカを描いたものであるが、イギリスのアフリカ縦断政策とフランスのアフリカ横断作戦が衝突したＡの地名として最も適当なものを、次の①～④のうちから一つ選べ。 34

①　モロッコ　②　ジブチ　③　ファショダ　④　ハルツーム

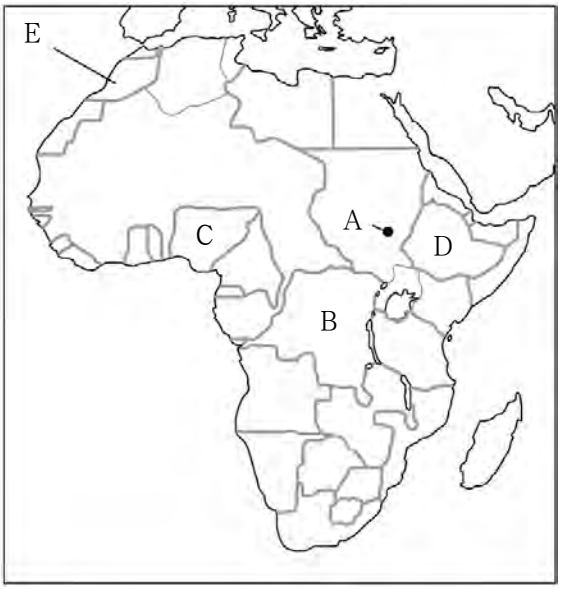

問５　上の地図のＢ～Ｅのうち、20世紀初頭のアフリカにおいて、ヨーロッパ列強の支配を免れた国として最も適当なものを、次の①～④のうちから一つ選べ。

35

①　B　②　C　③　D　④　E

目次へ戻る

世界史

番号	正解
1	3
2	2
3	1
4	4
5	4

番号	正解
6	2
7	1
8	3
9	4
10	3

番号	正解
11	2
12	3
13	4
14	2
15	1

番号	正解
16	4
17	4
18	2
19	4
20	4

番号	正解
21	3
22	1
23	4
24	2
25	3

番号	正解
26	2
27	4
28	3
29	1
30	2

番号	正解
31	2
32	4
33	1
34	3
35	3

目次へ戻る

Ⅰ 次の文を読んで、以下の問いに答えよ。

A　内外二重の環濠がめぐらされ、大型の 2 階建て建物や望楼と思われる掘立柱の建物等の跡が発見されるなど『魏志』倭人伝の記述を想像させる遺跡であり、現在は国営公園として整備されている。

B　相沢忠洋によって石器が発見され、日本における旧石器時代の文化の存在が明らかになった。

C　銅鐸 6 点、銅矛16本が一つの穴に埋葬され、またすぐ近くから358本もの銅剣が発見されるなど、大量の青銅器が出土した。

D　大型の竪穴住居跡や 6 本の巨木を柱とする建物跡が発見された。また、木の実の採集に使用されたと思われる「縄文ポシェット」や、遠隔地から運ばれたと思われるヒスイや黒曜石が発見された。

問１　A～Dの説明に該当する遺跡としてもっとも適当なものを、次のうちから一つ選べ。

A [1]　B [2]　C [3]　D [4]

① 紫雲出山遺跡　② 岩宿遺跡
③ 吉野ヶ里遺跡　④ 菜畑遺跡
⑤ 三内丸山遺跡　⑥ 荒神谷遺跡

目次へ戻る

問２　Ａの下線部『魏志』倭人伝に記されていることとして誤っているものを、次のうちから一つ選べ。 5

①　朝鮮半島の楽浪郡から邪馬台国への行程

②　宗教的権威を持つ女王の存在

③　男王のときに国内が乱れたこと

④　当時日本に身分の差が生じていたこと

問３　Ｄの下線部「黒曜石」の原産地として誤っているものを、次のうちから一つ選べ。 6

①　二上山　　②　和田峠　　③　姫島　　④　十勝

目次へ戻る

問４　Ａ～Ｄの遺跡の所在地としてもっとも適当なものを、地図から一つ選べ。

Ａ 7　　Ｂ 8　　Ｃ 9　　Ｄ 10

目次へ戻る

Ⅱ 琉球と蝦夷の歴史についての次の文を読んで、以下の問いに答えよ。

琉球では、山北・中山・山南の 3 地方勢力(三山)が成立して争っていたが、1429年、中山王の(　ア　)が三山を統一し、琉球王国(a)をつくり上げた。琉球は明や日本などと国交を結ぶとともに、海外貿易をさかんにおこなった。南方のジャワ島・スマトラ島・インドシナ半島などにまでその行動範囲を広げ、明の海禁政策のもと、東アジア諸国間の中継貿易に活躍したので、王国の都(　イ　)の外港である(　ウ　)は重要な国際港となり、琉球王国は繁栄した。

一方、すでに14世紀には畿内と津軽の(　エ　)とを結ぶ日本海交易がさかんにおこなわれ、サケ・コンブなど北海の産物が京都にもたらされた。やがて人びとは本州から、蝦夷ヶ島と呼ばれた北海道の南部に進出し、各地の海岸に港や館(道南十二館)(b)を中心にした居住地をつくった。彼らは(　オ　)といわれ、津軽の豪族(　カ　)氏の支配下に属して勢力を拡大した。

古くから北海道に住み、漁労・狩猟や交易を生業としていたアイヌは、(　オ　)と交易をおこなった。(　オ　)の進出はしだいにアイヌを圧迫し、たえかねたアイヌは1457年、大首長(　キ　)を中心に蜂起し、一時は(　オ　)居住地のほとんどを攻め落としたが、まもなく上之国の領主(　ク　)氏によって制圧された(c)。それ以後、(　ク　)氏は道南地域の(　オ　)居住地の支配者に成長し、江戸時代には松前氏(d)と名乗る大名となった。

問１　(　ア　)に当てはまる語としてもっとも適当なものを、次のうちから一つ選べ。 11

① 李成桂　② 朱元璋　③ 李舜臣　④ 陳外郎
⑤ 尚巴志　⑥ 耶揚子

目次へ戻る

問２　（　イ　）（　ウ　）に当てはまる語の組合せとしてもっとも適当なものを、次のうちから一つ選べ。 12

① （イ）漢城　（ウ）塩浦　② （イ）杭州　（ウ）寧波
③ （イ）平壌　（ウ）釜山　④ （イ）首里　（ウ）那覇
⑤ （イ）北京　（ウ）澳門

問３　（　エ　）に当てはまる語としてもっとも適当なものを、次のうちから一つ選べ。 13

① 十三湊　② 坊津　③ 箱館　④ 八戸
⑤ 敦賀　⑥ 宇多津

問４　（　オ　）に当てはまる語としてもっとも適当なものを、次のうちから一つ選べ。 14

① 南蛮人　② 唐人　③ 和人　④ 紅毛人
⑤ 隼人　⑥ 倭寇

問５　（　カ　）（　ク　）に当てはまる語の組合せとしてもっとも適当なものを、次のうちから一つ選べ。 15

① （カ）藤原　（ク）上杉
② （カ）安藤（安東）　（ク）蠣崎
③ （カ）畠山　（ク）北条
④ （カ）宗　（ク）伊達
⑤ （カ）細川　（ク）松平

目次へ戻る

問６　（　キ　）に当てはまる語としてもっとも適当なものを、次のうちから一つ選べ。 16

①　シャクシャイン　　②　阿弓流為

③　平将門　　④　三別抄

⑤　フビライ　　⑥　コシャマイン

問７　下線部(a)について説明した以下の文の下線部のなかで誤っているものはいくつあるか、次のうちから一つ選べ。 17

琉球王国は、1609年に薩摩の島津家久の軍に征服され、薩摩藩の支配下に入った。薩摩藩は、琉球にも検地をおこなって貫高制による農村支配を確立したうえ、通商交易権も掌握した。さらに、琉球を独立した王国として、中国との朝貢貿易を継続させた。

①　１つ　　②　２つ　　③　３つ　　④　４つ

⑤　誤りなし

問８　下線部(b)について説明した以下の文の下線部のなかで誤っているものはいくつあるか、次のうちから一つ選べ。 18

道南十二館の一つ、函館市にある花沢館の付近からは、16世紀末から17世紀初め頃に埋められた合計約39万枚の皇朝十二銭が出土しており、この地域の経済的繁栄を物語っている。

①　１つ　　②　２つ　　③　３つ　　④　４つ

⑤　誤りなし

目次へ戻る

問９　下線部(c)について説明した以下の文の下線部のなかで誤っているものはいくつあるか、次のうちから一つ選べ。 19

（　ク　）氏の祖源頼義が築城した勝山館からは、武家屋敷跡や職人の工房跡、墓地などの遺構のほか、日本・中国産の陶磁器やアイヌの骨角器など、多数の遺物が出土している。

①　１つ　②　２つ　③　３つ　④　誤りなし

問10　下線部(d)について説明した以下の文の下線部のなかで誤っているものはいくつあるか、次のうちから一つ選べ。 20

松前氏は、1604年に伊達政宗からアイヌとの交易独占権を保障され、藩制を敷いた。広大な蝦夷地の河川流域などに居住するアイヌ集団との交易対象地域は、商場あるいは場所と呼ばれた。松前氏と家臣団との主従関係は、そこでの年貢収入を家臣に与えることで結ばれていた。

①　１つ　②　２つ　③　３つ　④　４つ

⑤　誤りなし

目次へ戻る

Ⅲ 次の文を読んで、以下の問いに答えよ。

江戸時代には文学も発展した。とくに後期には読者人口が増加し、出版物の種類や発行部数も大幅に増えた。合巻では(　a　)の『偐紫田舎源氏』が有名である。読本では(　b　)の『南総里見八犬伝』が人気を得た。滑稽本では(　c　)の『東海道中膝栗毛』、人形浄瑠璃や歌舞伎の脚本では(　d　)らの『仮名手本忠臣蔵』や(　e　)の『東海道四谷怪談』などが人気を博した。

18世紀なかごろ、(　f　)が錦絵をはじめてからは浮世絵も流行した。(　g　)の「婦女人相十品」、(　h　)の「東海道五十三次」、(　i　)の「富嶽三十六景」などが有名である。一方、(　j　)は明や清の南画の影響を受け、独自の様式を持つ文人画を大成させた。

問1　(　a　)〜(　e　)に当てはまる語としてもっとも適当なものを、次のうちから一つ選べ。

(　a　) 21　(　b　) 22　(　c　) 23
(　d　) 24　(　e　) 25

① 与謝蕪村　② 十返舎一九
③ 柳亭種彦　④ 太田南畝(蜀山人)
⑤ 鶴屋南北　⑥ 滝沢馬琴(曲亭馬琴)
⑦ 竹田出雲

問2　(　f　)〜(　j　)に当てはまる語としてもっとも適当なものを、次のうちから一つ選べ。

(　f　) 26　(　g　) 27　(　h　) 28
(　i　) 29　(　j　) 30

① 東洲斎写楽　② 鈴木春信　③ 歌川広重　④ 葛飾北斎
⑤ 円山応挙　⑥ 池大雅　⑦ 喜多川歌麿

目次へ戻る

Ⅳ 次のア～カの文を読んで、以下の問いに答えよ。

ア　日本最初の衆議院議員総選挙(a)が1890年におこなわれ、旧民権派が大勝を収めた。

イ　第一議会で首相の（　b　）は、民党の一部を切り崩して予算を成立させた。

ウ　第二議会では（　c　）が、藩閥政府を擁護する蛮勇演説をおこなった。

エ　1892年の第２回衆議院議員総選挙では、激しい選挙干渉(d)がおこなわれた。

オ　民党の中心的な存在であった（　e　）は、第２次伊藤博文内閣(f)に接近した。

カ　（　e　）に反発した残りの民党は、吏党の（　g　）と連合を結成(h)した。

問１　下線部(a)に関して述べた以下の文の(A)～(C)のうち誤っている箇所はどれか、もっとも適当なものを、次のうちから一つ選べ。 31

1889年の大日本帝国憲法(A)発布直後、首相(B)は政党の意向によって政府の政策を変えなければならない(C)という超然主義の立場を表明した。

①　A　　②　B　　③　C　　④　誤りなし

問２　下線部(a)に関して述べた以下のＡ・Ｂの文について、その正誤の組合せとしてもっとも適当なものを、次のうちから一つ選べ。 32

Ａ　被選挙人は25歳以上の男性で直接国税15円以上の納入者である。

Ｂ　選挙人は25歳以上の男女で直接国税15円以上の納入者である。

①　Ａ　正　　Ｂ　正　　②　Ａ　正　　Ｂ　誤

③　Ａ　誤　　Ｂ　正　　④　Ａ　誤　　Ｂ　誤

目次へ戻る

問３　イに関して述べた以下のＡ～Ｃの文のうち誤っているものを、次のうちから一つ選べ。 33

Ａ　主権線・利益線を防衛するために軍事力の増強を主張した。

Ｂ　民党は民力休養を主張した。

Ｃ　政府は政費節減を主張した。

①　Ａ　②　Ｂ　③　Ｃ　④　誤りなし

問４　（　ｂ　）に当てはまる語としてもっとも適当なものを、次のうちから一つ選べ。 34

①　黒田清隆　②　品川弥二郎　③　樺山資紀　④　山県有朋

問５　（　ｃ　）に当てはまる語としてもっとも適当なものを、次のうちから一つ選べ。 35

①　黒田清隆　②　品川弥二郎　③　樺山資紀　④　山県有朋

問６　下線部(d)を行った中心人物としてもっとも適当なものを、次のうちから一つ選べ。 36

①　黒田清隆　②　品川弥二郎　③　樺山資紀　④　山県有朋

問７　（　ｅ　）に当てはまる語としてもっとも適当なものを、次のうちから一つ選べ。 37

①　国民協会　②　自由党　③　大成会　④　立憲改進党

目次へ戻る

問８　下線部(f)に関して述べた以下のＡ・Ｂの文について、その正誤の組合せとしてもっとも適当なものを、次のうちから一つ選べ。 38

Ａ　内閣は元勲総出で組織された。

Ｂ　天皇の詔書による影響もあって海軍の軍備拡張を実現した。

①　Ａ　正　　Ｂ　正　　②　Ａ　正　　Ｂ　誤

③　Ａ　誤　　Ｂ　正　　④　Ａ　誤　　Ｂ　誤

問９　（　ｇ　）に当てはまる語としてもっとも適当なものを、次のうちから一つ選べ。 39

①　国民協会　　②　自由党　　③　大成会　　④　立憲改進党

問10　下線部(h)に関して述べた以下の文の(A)〜(C)のうち誤っている箇所はどれか、もっとも適当なものを、次のうちから一つ選べ。 40

条約改正に(A)賛成して対外的な強硬方針を主張した対外硬派連合を結成し、政府と(B)衆議院は(C)日清戦争直前まで対立を繰り返した。

①　Ａ　　②　Ｂ　　③　Ｃ　　④　誤りなし

目次へ戻る

日本史

番号	正解
1	3
2	2
3	6
4	5
5	1

番号	正解
6	1
7	8
8	2
9	6
10	1

番号	正解
11	5
12	4
13	1
14	3
15	2

番号	正解
16	6
17	1
18	3
19	1
20	2

番号	正解
21	3
22	6
23	2
24	7
25	5

番号	正解
26	2
27	7
28	3
29	4
30	6

番号	正解
31	3
32	4
33	3
34	4
35	3

番号	正解
36	2
37	2
38	1
39	1
40	1

目次へ戻る

Ⅰ 次の文章を読み、下の問い（問１～問10）に答えよ。

2022年７月10日は第26回参議院議員ⓐ通常選挙の投票ⓑ日であった。有権者が国政選挙に参加するためには、国籍と年齢の二つの要件をクリアしなければならない。この要件規定は、公職選挙法第９条１項に規定されているが、国会ⓒ議員は国民の属性によって選挙人の資格を差別するような法律を作ってはならないと憲法第44条に規定されているⓓ。この点、かつて海外ⓔでも制限選挙制が一般的であったが、日本では1925年に満25歳以上の成年男子による普通選挙ⓕ制度が確立している。但し、同時期に治安維持法ⓖも成立している点も忘れてはならない。

戦後、憲法第14条ⓗに男女平等ⓘが規定されたことなどもあり、女性の政治参加も可能になったが、世界経済フォーラムが2022年７月13日に公表したジェンダーギャップ指数では、「経済」、「教育」、「健康」、「政治」の四つの分野の総合順位が146ヵ国中116位となっていた。特に、「政治」の分野の順位は、国会議員の女性割合が133位であることも含め、146ヵ国中139位であった。このような状況を打破するには、国民一人一人が、最高法規である憲法の内容を再確認し、それに基づく不断の努力をしていくことⓙがより一層必要になるかもしれない。

問１　下線部ⓐの部分に関して**明らかに適切でないもの**を、次の①～④から一つ選べ。 1

① 衆議院議員の任期は４年である。

② 参議院議員の任期は５年である。

③ 国会議員には、不逮捕特権が認められている。

④ 国会議員が議案を発議するには、衆議院が20人以上、参議院が10人以上の議員の賛成が必要である（予算を伴う法律案発議は人数が異なる）。

目次へ戻る

問２　下線部ⓑの部分に関して**明らかに適切でないもの**を、次の①～④から一つ選べ。 2

① 投票日に投票区内にいない人は期日前投票ができる。

② 選挙で投票しない人が増えれば、民主主義が形だけになり、全体主義に対抗できなくなる可能性もある。

③ 在外日本人は2022年３月現在、国内の日本人と同様にすべての投票を行うことができる。

④ 参議院議員通常選挙の投票は、選挙区選挙と非拘束名簿式比例代表制の二種類である。

問３　下線部ⓒの国会がもつ（憲法に規定されている）権限として**明らかに適切でないもの**を、次の①～④から一つ選べ。 3

① 議院の国政調査権

② 衆議院による内閣不信任決議

③ 予算議決

④ 条約を締結すること

問４　下線部ⓓの部分に関して禁止列挙事由として**規定されていないもの**を、次の①～④から一つ選べ。 4

① 人種

② 性別

③ 門地

④ 国籍

目次へ戻る

問５　下線部ⓔの海外の国々における女性選挙権の実現順で正しいものを、次の①～④から一つ選べ。 5

①　フランス→ドイツ→スイス

②　ドイツ→スイス→フランス

③　スイス→ドイツ→フランス

④　ドイツ→フランス→スイス

問６　下線部ⓕの普通選挙に関して**明らかに適切でないもの**を、次の①～④から一つ選べ。 6

①　現在の日本では18歳以上の成年による普通選挙が実施されている。

②　秘密投票は日本国憲法が示す選挙の基本原則の一つである。

③　納税もその要件の中の一つである。

④　平等選挙は日本国憲法が示す選挙の基本原則の一つである。

問７　下線部ⓖの部分に関して**明らかに適切でないもの**を、次の①～④から一つ選べ。 7

①　この法律は1928年改正で最高刑が死刑になった。

②　1941年に予防拘禁制度が導入された。

③　国体護持を推進する運動を取り締まる法律である。

④　私有財産制を否認する運動を取り締まる法律である。

問８　下線部ⓗやそれ以外の平等に関する憲法条文に関して**明らかに適切でないもの**を、次の①～④から一つ選べ。 8

①　憲法は華族や貴族の制度を認めていない。

②　家庭生活における男女平等について、憲法第24条に定められている。

③　憲法第14条のおかげで、現在の日本では差別問題が完全に無くなった。

④　教育の機会均等について、憲法第26条に定められている。

目次へ戻る

問９　下線部ⓘの部分に関して**明らかに適切でないもの**を、次の①～④から一つ選べ。 9

① 1999年、男女共同参画社会基本法が制定された。

② 男女雇用機会均等法は女性差別撤廃条約を批准するために、1985年に制定された。

③ 政治分野における男女共同参画の推進に関する法律が2022年、新たに制定・施行されている。

④ 女性差別撤廃条約が国連にて1979年に採択されている。

問10　下線部ⓙの部分に関して**明らかに適切でないもの**を、次の①～④から一つ選べ。 10

① 国民の不断の努力に関して、憲法第12条に規定されている。

② 天皇は最高法規である憲法を尊重し擁護する義務がある。

③ 国会議員は最高法規である憲法を尊重し擁護する義務がある。

④ 憲法改正が法律案の議決と同様の厳格な手続きで行われるのは最高法規であることに関係する。

目次へ戻る

Ⅱ 次の文章を読み、下の問い（問１～問10）に答えよ。

国際連合ⓐの決議による軍事的強制措置は、安全保障理事国ⓑの五大国による全会一致の決議が条件である。軍事的強制措置とは、国連軍の派遣によって紛争状態を軍事力によって制圧する方法である。冷戦ⓒ中は拒否権の発動で、この国連軍の派遣を決めるための全会一致の決議が起きなかった。このことは、国際連合の機能麻痺とも称された。軍事的強制措置の発動がない代わりに、国連においてはPKO（国連平和維持活動）ⓓが紛争地帯で展開されることが多かった。日本においては日本国憲法に違反するとして、軍事的強制措置への参加は見送られた。冷戦後の現在の国際社会において、近年拒否権の発動による国連決議の否決が続いている。その中でも、2022年に起こったロシアⓔによるウクライナ侵攻に対する国連の決議案の否決は、再度国連の機能麻痺を彷彿とさせる出来事であった。ロシア軍の即時撤退要求は、安全保障常任理事国のロシアによる拒否権ⓕの発動で否決されたからである。ウクライナにおいては、ロシア軍による民間人への暴力が、戦争犯罪にあたるとして国際法ⓖ違反であると考えられている。国際紛争においては、国際法に基づいて平和的に解決するため、国際裁判制度ⓗがある。ジェノサイドⓘなどの戦時における犯罪が裁判にかけられ、責任の追及が行われている。また紛争だけでなく、平時の領土問題や海事に関する事項ⓙにおいても国際裁判制度が用いられ、日本がその当事者である場合もある。

問１　下線部ⓐの「国際連合」に関連する事項として**明らかに適切でないもの**を、次の①～④から一つ選べ。 11

① 国際連合は、国際社会における安全保障の形態として勢力均衡方式を基盤にしている。

② 1945年、連合国の国連憲章の署名を経て国際連合が成立した。

③ 総会は全加盟国によって構成され、投票権は一国一票制である。

④ 世界保健機関（WHO）や国際労働機関（ILO）は、国連と協働する専門機関である。

目次へ戻る

問２　下線部ⓑの「安全保障理事国」に関連する事項として**明らかに適切でないもの**を、次の①～④から一つ選べ。 12

① 安全保障理事国には、常任理事国と非常任安全保障理事国がある。

② 安全保障理事会の常任理事国は、五大国によって構成される。

③ 常任理事国は、日本、アメリカ、ロシア、イギリス、ドイツの五ヵ国である。

④ 非常任理事国は国連総会で選出され、2年の任期である。

問３　下線部ⓒの「冷戦」に関連する事項として**明らかに適切でないもの**を、次の①～④から一つ選べ。 13

① 世界を東西に分け、国際対立を引き起こした。

② 核兵器の存在が、冷戦において大きな緊張状態を起こした。

③ アメリカ合衆国とソ連邦が、冷戦中の2極であった。

④ 日本は東側に属し、冷戦中は赤狩りを行った。

問４　下線部ⓓの「PKO（国連平和維持活動）」に関連する事項として**明らかに適切でないもの**を、次の①～④から一つ選べ。 14

① PKO（国連平和維持活動）では、国連平和維持軍を派遣し戦闘地域の鎮静化を行う。

② 日本では憲法違反として、自衛隊のPKOへの派遣を辞退してきた。

③ PKOには武器を所持した停戦監視の活動がある。

④ 日本からは選挙監視に従事する市民による参加がある。

目次へ戻る

問５　下線部ⓔの「ロシア」に関連する事項として**明らかに適切でないもの**を、次の①～④から一つ選べ。 15

① ロシアは1991年のソ連の崩壊以降、ソ連の国連および条約における代表権を引き継いでいる。

② ロシアには首相と大統領が存在し、首相によって大統領は任命を受ける。

③ ロシアの大統領制は1991年以降に採用されたが、現在では任期は６年である。

④ ロシア大統領は軍の指揮権を有する。

問６　下線部ⓕの「拒否権」に関連する事項として**明らかに適切でないもの**を、次の①～④から一つ選べ。 16

① 安全保障理事国の五大常任理事国が持つ権利である。

② 安全保障理事国の非常任理事国には総会決議を拒否する権利がない。

③ 冷戦中、国連安全保障理事会決議が拒否権によって覆されることが度々あった。

④ 安全保障理事国の五大国の拒否権は、国連安全保障理事会のいかなる決議においても有効である。

問７　下線部ⓖの「国際法」に関連する事項として**明らかに適切でないもの**を、次の①～④から一つ選べ。 17

① 国際法には、国際慣習法と条約がある。

② 条約は二か国間における条約が主であったが、近年では多数国間条約が様々な分野で締結されている。

③ 国際慣習法は成文法として成立してきたものである。

④ 条約は、その条約の締結国のみを拘束する国際法である。

目次へ戻る

問８　下線部ⓗの「国際裁判制度」に関連する事項として**明らかに適切でないもの**を、次の①～④から一つ選べ。 18

① 国際司法裁判所による裁判の実施においては、当事国の裁判実施への合意は必ずしも必要ではない。

② 国際司法裁判所における判決は当事国を拘束し、履行されない場合は安全保障理事会が措置を講じることができる。

③ 国際刑事裁判所による裁判は、戦時における重大な犯罪に対し、個人に責任を問うものである。

④ ジェノサイド、戦争犯罪、人道に反する犯罪などは、国際刑事裁判所による審議と判決の対象となる。

問９　下線部ⓘの「ジェノサイド」に関連する事項として**明らかに適切でないもの**を、次の①～④から一つ選べ。 19

① 第二次世界大戦時のホロコーストは、ジェノサイドには当たらない。

② 国内の民族対立が起こしたジェノサイドに、ルワンダの民族虐殺がある。

③ ジェノサイドには歴史的に、国内の少数民族を標的にしたものが多々見られる。

④ カンボジアでのポル＝ポト政権時代の市民の虐殺は、ジェノサイドである。

目次へ戻る

問10　下線部ⓙの「領土問題や海事に関する事項」に関連する事項として**明らかに適切でないもの**を、次の①～④から一つ選べ。 20

① 韓国との領有権をめぐる竹島の問題は、国際司法裁判所に付託する提案を韓国が拒否している。

② 南極での日本による調査捕鯨は、国際司法裁判所により中止命令が出された。

③ 日本と近隣国間では、排他的経済水域における漁業権の問題が発生している。

④ 航行の自由は、公海上にのみ保障される。

目次へ戻る

Ⅲ 次の文章を読み、下の問い（問１～問10）に答えよ。

日本経済は1970年代の石油危機によりⓐスタグフレーションが発生した。日本は「安定成長」にもどったが、アメリカをはじめとする各国との間の貿易摩擦が深刻化したため、ⓑ1985年にG５によりドル高是正がはかられた。その後、日本経済は「円高不況」におちいり、ⓒ低金利政策の長期化も一因となりⓓバブル経済を発生させた。

1990年代に入りⓔバブルは崩壊したが、不況が深刻化したため「失われた10年」と呼ばれた。2001年に成立した小泉政権はⓕ構造改革を進め、アメリカの好景気の後押しもあり日本経済にⓖ好景気が続いた。

ⓗ2008年のアメリカ発の金融危機により世界的な景気後退がおこり、日本はⓘデフレにおちいった。2012年に始まった安倍政権ではデフレ不況からの脱却を目指し、ⓙ「アベノミクス」とよばれる経済政策を掲げた。

問１　下線部ⓐに関してもっとも適当なものを、次の①～④から一つ選べ。 21

① 物価上昇と不況が同時に発生する現象

② 物価下落と不況が同時に発生する現象

③ 物価が継続的に上昇し続ける現象

④ 物価が継続的に下落し続ける現象

問２　下線部ⓑに関する名称は以下のどれか、次の①～④から一つ選べ。 22

① スミソニアン合意

② プラザ合意

③ ルーブル合意

④ バーゼル合意

目次へ戻る

問３　下線部ⓒに関してもっとも適当なものを、次の①～④から一つ選べ。 23

① 公開市場操作で大規模な売りオペを行った。

② 公定歩合操作で公定歩合を低い水準に保った。

③ 預金準備率操作で預金準備率を高い水準に保った。

④ 通貨量を抑制的に管理した。

問４　下線部ⓓに関して明らかに適切でないものを、次の①～④から一つ選べ。

24

① 当時を「平成景気」と呼ぶこともある。

② 株や土地などの資産価格の高騰が発生した。

③ 当時経済成長率は10％を超える高水準であった。

④ 金融自由化も原因の一つといわれている。

問５　下線部ⓔに関して、バブル崩壊の要因として明らかに適切でないものを、次の①～④から一つ選べ。 25

① 公定歩合の引き上げ

② 不動産融資規制

③ 地価税の導入

④ 変動為替相場制への移行

問６　下線部ⓕに関して、この当時行われた主要な改革として明らかに適切でないものを、次の①～④から一つ選べ。 26

① 財政投融資改革

② 郵政民営化

③ 働き方改革関連法制定

④ 地方財政改革

目次へ戻る

問７　下線部ⓖに関連して「景気」について、**明らかに適切でないもの**を、次の①～④から一つ選べ。 27

① 景気変動には「好況」「後退」「不況」「回復」の４局面がある。

② 急激な回復を恐慌とよぶ。

③ 不況期には生産物の売上が鈍り、失業率が高くなる傾向にある。

④ 好況期には生産物の売上が増え、失業率が低くなる傾向にある。

問８　下線部ⓗに関して**明らかに適切でないもの**を、次の①～④から一つ選べ。

28

① ニクソン・ショックが発端となって世界中に金融危機が広がった。

② 世界各国の金融機関の経営危機や破綻が相次いだ。

③ G20が開催され政策協調により大恐慌の再発を防ぐにいたった。

④ 金融危機再発防止のため、国際的な金融規制の強化が進んだ。

問９　下線部ⓘに関して**明らかに適切でないもの**を、次の①～④から一つ選べ。

29

① デフレとはデフレーションの略称である。

② デフレ・スパイラル現象とは、物価下落による企業業績の悪化から賃金が減少、消費減退につながり、さらに物価が下落する悪循環のことをいう。

③ デフレは好景気のときに発生しやすい。

④ 日本経済は、1990年代後半にデフレを経験している。

問10　下線部ⓙに関して**明らかに適切でないもの**を、次の①～④から一つ選べ。

30

① インフレ目標を定め、大胆な金融緩和政策を行った。

② 機動的な財政政策や民間投資を喚起する成長戦略も含まれる。

③ 2016年には「マイナス金利」が導入された。

④ この政策によって円高が進んだ。

目次へ戻る

Ⅳ 以下の問い（問１～問10）に答えよ。

問１　民主政治の成立の歴史に関する記述について、明らかに適切でないものを次の①～④から一つ選べ。 31

① ルソーは『社会契約論』において、個々人の間での契約によって一つの国家をつくり、公共の利益の実現をめざす一般意思を人民が担うことによって、本当の自由と平等が実現できるとした。

② ホッブズは、国家を旧約聖書に出てくる怪物リバイアサンになぞらえた『リバイアサン』において、自然状態が万人の万人に対する闘争状態であると説いた。

③ ロックの思想は、イギリスのピューリタン革命に影響を与え、政権交代をともなう民主政治の源流の一つとなった。

④ モンテスキューは『法の精神』において、立法、行政、司法の三権分立を定式化した。

問２　産業構造の転換の歴史に関する記述について、明らかに適切でないものを次の①～④から一つ選べ。 32

① 経済発展にともなって就業人口の産業間構成が高次産業に向かって重心をシフトさせていくことを、ペティ・クラークの法則という。

② モノそれ自体よりもモノを介して利用されるソフトの価値が高まっていることを経済のソフト化と呼び、1980年代以降、経済のサービス化と一体となって進行した。

③ オイルショックを経て、日本政府は国民生活の質的向上と持続的な経済成長を両立させる「安定成長」を政策目標として掲げた。

④ 欧米諸国との貿易・経済摩擦が激化する1980年代の日本において、内需主導型から外需主導型の経済構造への転換が求められた。

目次へ戻る

問３　日本における地方分権に関する記述について、**明らかに適切でないもの**を次の①～④から一つ選べ。 33

① 政府や地方公共団体と民間が共同して出資することによりできた三番目の経営体を第三セクターと呼ぶ。

② 道州制とは、都道府県を統廃合して広域にわたる自治体を設定し、そこに国の権限・財源を大幅に移すことで、中央政府から相対的に独立した地方政府をつくるという考え方である。

③ 任意の自治体に寄付を行うことで寄附金額の一部が相続税・贈与税から控除される制度をふるさと納税制度と呼び、2008年の地方税法改正で導入された。

④ 地方財政健全化法が2007年に制定され、財政状況が一定以上に悪化した場合は財政健全化団体、財政破綻した場合には財政再生団体に指定する制度が導入された。

問４　中小企業に関する記述について、**明らかに適切でないもの**を次の①～④から一つ選べ。 34

① 1999年に制定された中小企業基本法では、製造業で資本金３億円以下、または常時雇用する従業員300人以下の会社および従業員300人以下の個人企業、小売業で資本金5000万円以下または従業員50人の企業を中小企業としている。

② 2021年度『中小企業白書』によると、第一次産業を除いた中小企業の日本経済に占める企業数の割合は約80％程度である。

③ 大企業が進出しない「すき間」に存在している中小企業のことをニッチ型の中小企業と呼ぶ。

④ アメリカにあるシリコンバレーのベンチャー企業は、大企業主導の産業発展とは異なる先駆的な事例である。

目次へ戻る

問５　金融活動の拡大に関する記述について、**明らかに適切でないもの**を次の①～④から一つ選べ。 35

① 返済能力の高い借り手に販売されたローンのことをサブプライムローンと呼び、本来高金利であるが、当初数年間の返済は低金利におさえられ、借り手はこの間に値上がりした住宅を担保に、より低金利のローンに借り換えることで返済が可能であるとされた。

② 金融商品を取引する際のリスクを低くする手法をデリバティブと呼び、価格変動による損失を避けるため、あらかじめ定められた時期に定められた価格で売買する権利など多種多様のものが存在する。

③ 特定の富裕層や企業から私的に大口の資金を集めて外国為替や株式などに投資し、利益を出資者に分配する投資信託のことをヘッジファンドと呼ぶ。

④ 金融機関が保有する住宅ローンなどの債権や、企業が保有する不動産などの資産を元に、新たな有価証券を発行することを証券化と呼ぶ。

目次へ戻る

問６　国際分業の利益を考えるために、次の表のようにＡ国とＢ国の労働生産性が与えられたとする。ここから読み取れる内容として**明らかに適切でないもの**を、次の①～④から一つ選べ。 36

	Ａ国	Ｂ国
ワイン１単位の生産に要する労働量	200人	300人
穀物１単位の生産に要する労働量	150人	600人

① もしＡ国に労働者が500人いたならば、ワインを１単位、穀物を２単位生産することが可能である。

② Ｂ国はワインの生産に関してＡ国に対して比較優位がある。

③ ワインと穀物どちらに関してもＡ国はＢ国に対して生産性が劣っている。

④ Ａ国が穀物、Ｂ国がワインの生産に特化し、両国が貿易を行うことにより両国の経済状況が改善する。

目次へ戻る

問７　各経済学者の主張に関する記述について、**明らかに適切でないもの**を次の①～④から一つ選べ。 37

① フランス出身の経済学者ピケティは、資産運用によって得られる収益率が、経済成長によって起こる労働所得の伸び率を上回ってきたこと、それに伴い資産を持つ者と持たない者の格差が拡大してきたことを明らかにした。

② アメリカ出身の経済学者フリードマンは、政府の裁量的な財政金融政策を排し、貨幣供給量を経済成長率にあわせて一定に保つマネタリズムが物価安定には有効だと主張した。

③ イギリス出身の経済学者のピグーは環境問題の発生原因者に課税する環境税の導入で人々の経済厚生が低くなることを理論的に示した。

④ ドイツ出身の経済学者マルクスは資本主義を分析し、人間を疎外する資本主義は必然的に社会主義へ転化すると主張した。

問８　市場の機能と限界に関する記述について、**明らかに適切でないもの**を次の①～④から一つ選べ。 38

① 生活必需品は価格の弾力性が小さく需要曲線の傾きが緩やかになる。

② 超過需要が発生した時に価格が上昇し、超過供給が発生した時に価格が下落することにより品不足や品余りが自然に解消されることを「価格の自動調節機能」と呼び、需要と供給を一致させる価格を均衡価格と呼ぶ。

③ 不作や原材料費の値上げが起こると同じ費用で生産できる商品が少なくなり、その商品の供給曲線が左へ移動する。

④ 豚肉と鶏肉が代替品であると仮定した場合、豚肉の価格の上昇は鶏肉の需要曲線を右へ移動させる。

目次へ戻る

問９　発展途上国の問題と経済協力に関する記述について、**明らかに適切でないもの**を次の①～④から一つ選べ。 39

① 外務省『ODA白書』2016年度版によると、近年ODAという形で毎年１兆ドルを超える経済援助が発展途上国に向けて拠出されている。

② 南北問題とは先進国と発展途上国との間の格差問題であるが、発展途上国間にも南南問題と呼ばれる経済格差が生じている。

③ 国連は2000年に、2015年までに達成すべき「ミレニアム開発目標」を採択した。その中の目標の一つに「１日１ドル未満で生活する人々の割合を半減させる。」というものがあった。

④ 1980年代には中南米やアフリカ諸国を中心に、先進国や国際金融機関から借り入れた資金が返済できなくなるという累積債務問題が表面化した。

問10　労働問題と労働市場に関する記述について、**明らかに適切でないもの**を次の①～④から一つ選べ。 40

① イギリスでは産業革命による機械化により、ラッダイト運動と呼ばれる労働者たちによる機械や工場の破壊活動が行われた。

② 日本国憲法において、団結権、団体交渉権、団体行動権の労働三権が規定され、労働者の権利を保障するために労働基準法、労働契約法、労働関係調整法の労働三法が制定された。

③ 厚生労働省の労働力調査によると、雇用者全体のなかの非正規雇用の割合は1900年には約20.2%であったが、2015年には約37.5%と増加している。

④ 外国人の受け入れを管理する『出入国管理及び難民認定法』が2018年に改正された。

目次へ戻る

政治・経済

番号	正解
1	2
2	3
3	4
4	4
5	4

番号	正解
6	3
7	3
8	3
9	3
10	4

番号	正解
11	1
12	3
13	4
14	2
15	2

番号	正解
16	2
17	3
18	1
19	1
20	4

番号	正解
21	1
22	2
23	2
24	3
25	4

番号	正解
26	3
27	2
28	1
29	3
30	4

番号	正解
31	3
32	4
33	3
34	2
35	1

番号	正解
36	3
37	3
38	1
39	1
40	2

目次へ戻る

I

(1) 関数 $f(x)=\frac{2}{3}x^3-\frac{3}{4}x^2+9x-5$ の導関数は，$f'(x)=\boxed{1}x^2-\frac{\boxed{2}}{\boxed{3}}x+\boxed{4}$

である。

関数 $g(x)=-2x(x-2)^2$ の導関数は，$g'(x)=-\boxed{5}x^2+\boxed{6\,|\,7}x-\boxed{8}$

である。

(2) $0\leqq x<2\pi$ とする。但し角の大きさは弧度法によりラジアンで表示する。

$\sin^2 x=\frac{1}{2}$ となる x を小さい順に並べると

$x=\frac{\boxed{9}}{\boxed{10}}\pi,\ \frac{\boxed{11}}{\boxed{12}}\pi,\ \frac{\boxed{13}}{\boxed{14}}\pi,\ \frac{\boxed{15}}{\boxed{16}}\pi$ である。

目次へ戻る

Ⅱ

$\log_{10}2=0.30$，$\log_{10}3=0.48$ とする。なおこれは粗い近似だが，以下の設問では解答は真の値と同じになる。

(1) 8 桁の自然数のうち最小のものは $10^{\boxed{17}}$ であり，9 桁の自然数のうち最小のものは $10^{\boxed{18}}$ である。

1 未満の正の実数を小数で表すことを考えるとき，小数第 2 位に初めて 0 でない数字が現れるような数のうち最小のものは $\left(\frac{1}{10}\right)^{\boxed{19}}$ であり，小数第 3 位に初めて 0 でない数字が現れるような数のうち最小のものは $\left(\frac{1}{10}\right)^{\boxed{20}}$ である。（なお「初めて現れる」というのは小数第 1 位から順に数字を見ていくことを想定して言っている。）

(2) 6^{40} は $\boxed{21 \mid 22}$ 桁の整数である。

(3) $\left(\frac{5}{6}\right)^{40}$ を小数で表すとき，初めて 0 でない数字が現れるのは小数第 $\boxed{23}$ 位である。

(4) 6^n が 10 桁以上 13 桁以下の数となるような整数 n は $\boxed{24}$ 個ある。その中で最小の n の値は $\boxed{25 \mid 26}$ である。

目次へ戻る

Ⅲ

太郎，次郎，三郎の 3 人に，次の作業をしてもらう。各人には，1 ～ 3 の 3 つの数字が書かれた 3 枚の札が 1 セットずつ与えられる。まず太郎が自分の 3 枚の札を左から右に，好きな順番に並べる。それに続けて次郎がまた左から右に，3 枚の札を好きな順番に並べる。更にそれに続けて三郎が左から右に，3 枚の札を好きな順番に並べる。こうして結局 9 つの数字が，左から右に並んだ列ができる。例えば「231 123 213」のような列となるが，これは太郎が「231」と並べ，次郎が「123」，三郎が「213」と並べた場合である。

(1) こうしてできる数字の列は全部で 27 | 28 | 29 通りある。このうち，太郎と三郎の並べ方が全く同じになっている列（例えば「123 321 123」など）は 30 | 31 通りある。また，3 人の並べ方が全て異なっている列は 32 | 33 | 34 通りある。

(2) 上記のルールを変更し，次郎だけは，3 枚の札から 1 枚以上好きな枚数を選んで並べることにする。太郎と三郎は元のルールのままである。つまり次郎は，「123」などの 3 つの数字の並びに加え，「23」や「31」や「1」などの並びが作れることになる。こうしてできる数字の列は全部で 35 | 36 | 37 通りある。

(3) 更に上記のルールを変更し，次郎については，1 の札を 3 枚，2 の札を 3 枚，3 の札を 3 枚与えて，それらから 1 枚以上 3 枚以下で好きな枚数を選んで並べることにする。つまり次郎は，(2)での例に加えて，「11」や「322」などの並びも作れることになる。太郎と三郎は元のルールのままである。こうしてできる数字の列は全部で 38 | 39 | 40 | 41 通りある。このうち，例えば「123 3 321」などのように，左右どちらから見ても同じ並びになっている列は 42 | 43 通りある。

目次へ戻る

Ⅳ

2 次関数 $y=x^2+2x-k^2+3k+1$（但し k は定数）とそのグラフ G を考える。以下の問に答えよ。

但し解答欄 $\boxed{55}$，$\boxed{56}$，$\boxed{59}$，$\boxed{60}$ には以下の選択肢から最も適切なものを選べ。

$\left\{ ①< \quad ②\leqq \right\}$

(1)　$k=2$ のとき，G は頂点が（$\boxed{44 \mid 45}$，$\boxed{46}$）の放物線となる。

(2)　G が x 軸と交点をもたないような k の範囲は，$\boxed{47}<k<\boxed{48}$ である。

(3)　G は x 軸と異なる 2 点で交わるものとする。その 2 交点の x 座標を x_1，x_2（但し $x_1<x_2$）とする。

(i)　$x_2>0$ となる k の範囲は，

$$k<\frac{\boxed{49}-\sqrt{\boxed{50 \mid 51}}}{\boxed{52}},\quad \frac{\boxed{49}+\sqrt{\boxed{50 \mid 51}}}{\boxed{52}}<k$$

である。

(ii)　$x_2\leqq 1$ となる k の範囲は，

$\boxed{53 \mid 54}\ \boxed{55}\ k\ \boxed{56}\ \boxed{57}$，$\boxed{58}\ \boxed{59}\ k\ \boxed{60}\ \boxed{61}$

である。このとき，x_2 が整数となるような k は $\boxed{62}$ 個ある。

目次へ戻る

数学

番号	正解
1	2
2	3
3	2
4	9
5	6

番号	正解
6	1
7	6
8	8
9	1
10	4

番号	正解
11	3
12	4
13	5
14	4
15	7

番号	正解
16	4
17	7
18	8
19	2
20	3

番号	正解
21	3
22	2
23	4
24	5
25	1

番号	正解
26	2
27	2
28	1
29	6
30	3

番号	正解
31	6
32	1
33	2
34	0
35	5

番号	正解
36	4
37	0
38	1
39	4
40	0

番号	正解
41	4
42	9
43	0
44	—
45	1

番号	正解
46	2
47	0
48	3
49	3
50	1

番号	正解
51	3
52	2
53	—
54	1
55	2

番号	正解
56	1
57	0
58	3
59	1
60	2

番号	正解
61	4
62	4

目次へ戻る

I

次の文章を読んで、後の問いに答えよ。解答は、解答用紙の 1 から 17 までにマークせよ。

研究や学習が進むのはA(わからないことがわかってくる)からです。

研究や学習を前に進めるには、わからない点を追究していくわけですが、そのためにはわからない点がハッキリしていなければなりません。ところが、わからない点自体がうまく見つけられないということが学習の途中や研究のスタートなどでじつによく起こります。研究や学習を進めるためにはきっちりわからなくなれることが大事です。「きっちりわからなくなれる」とは少し奇妙に響くかもしれませんが、次のように考えて下さい。

われわれは自然や世の中に対して知らないことばかりですから、自分のわかっていないことを見つけ出すのは、ごくヨウ(ア)易なことだと思うかもしれません。ところがそうではないのです。その理由には、大ざっぱにいって2種類あります。

まず、難しくてまったくよくわからないという分野について考えてみましょうか。われわれにとって、そういった分野や領域はいくらでもありますし、よくわかっていないという実感も持っています。しかし、こういう分野や領域でB(どこがわかっていないのかを明確にピンポイントに言うことはまず無理です)。ピンポイントに言えませんから、追究をどのようにすればいいのか、エネルギーをケイ(イ)注しなければならない場所も定かではありません。

ここがわかっていないとか、ここが繋がらないとかと明確に言えるようになるのは、学習が進んである程度のことがわかった後です。バク(ウ)然とわからないとか、まったく苦手の領域で手を付けていないとか、投げ出しているという状態はいくらでもあります。しかし、ここを調べればいいとか、ここが繋がっていないとか、ピンポイントにわからない状態になれるためには、その付近の知識がかなりシステマティックにしっかりしてこないと無理なのです。

もう少し言えば、ピンポイントに問題点が指摘できるためには、必要条件としてその手前まではわかっていなければならないのです。資料を渉猟し(C)「こういうことだったのか」とわかり、それを足がかりとして「あそこもそうなるのだろうか」

目次へ戻る

とか「では、どうしてここはそうならないのか」と、初めてわからなくなれるわけです。ピンポイントにわからなくなれるためには、足がかりが必要なのです。足がかりを構築できるまでは、ぼんやりとしたわからない状態でしかありません。ただただ苦手と感じているに過ぎない状態だと言えるかもしれません。

自分がわかっていない点をピンポイントに確定するのはなかなか困難で、それには2種類あると言いました。そのもうひとつの種類は、「知ってるつもり」[D]という状態に関わるものです。

われわれが「知ってるつもり」でいることもいくらもあります。日常的なことでも専門的な分野においても、当たり前だと思って、なぜそうなっているのかを省サツ[エ]しない場合はいくらでもあります。この場合も、われわれは当たり前だとか、そういうものだと思っているのですから、明確に疑問を持つことにはなりません。

大学生と学校方向に歩いていて、以下のような会話をよく聞きました。

「講ギ[オ]で聞いたんだけど、ジャガイモは茎なんだって」

「知ってる、知ってる。サツマイモは根なんでしょ」

「そうそう」

さてそこから、どんな話になるのかなと期待してつい聞き耳を立てるのですが、その話はそこまでで、「［カ］」と、まったく別のアルバイトの話などに、じつに簡単にジャンプしてしまう場合がほとんどでした。

大学生にジャガイモやサツマイモに関して個別に聞いてみると、それぞれが茎であるとか根であるとかを知らない人ももちろんいますが、知ってる人が大部分です。［キ］、質問を続けていると彼らの会話が他に簡単にジャンプしてしまう[E]理由がわかってきます。彼らはジャガイモが茎であるとかサツマイモが根であるとかは知っていますが、その知識を持って

目次へ戻る

いるだけなのです。その周辺の知識はまず持っていません。イモは何かとか、どうして茎や根なのか、茎や根以外のイモはないのかとかは気にもしていません。［　ク　］、十分に「知ってるつもり」なのです。

彼らにとって、「ジャガイモは茎」「サツマイモは根」はただの孤立した知識です。「ジャガイモは茎」「サツマイモは根」と知ってはいますが、そこから派生したり関係する周辺の知識群が存在するとは思っていません。そして彼らは「知ってるつもり」でいます。それ以上のことはないと感じているので、その話は終わって次にジャンプするのです。

大して知らないのに「知ってるつもり」でいられるのを不思議に思われるかもしれません。それへの回答は簡単です。「知ってるつもり」の知識は、孤立した他と関連しない知識ですから、そこから疑問や推測を生み出すことなく、わからなくならないので「知ってるつもり」でいられるのです。よく知らないので疑問を生じることがないから「知ってるつもり」でいられるのです。

対象に対して「まったくわかっていない」ので具体的な手が打てないでいるのと、「知ってるつもり」でいて疑問を持たないというのは、確かに入り口としてはかなり違った状況です。しかし、そこからピンポイントにわからなくなれるための作業は似通ってくる、ないしは原理的に同じです。というのはどちらも、わからなくなれる程度に知識システムを整備し、ある程度わかってくることが必要だからです。ピンポイントにわからなくなれるメカニズムが同じなら、[F]外面に見える入り口の様態は異なっていても治療のやり方は同じになると考えて良さそうです。

（西林　克彦　『知ってるつもり』一部変更）

目次へ戻る

問一　傍線部アからオまでのカタカナ部分と同一の漢字を用いる熟語をそれぞれの選択肢の中から一つ選び、その記号を解答欄 1 から 5 までにマークせよ。

1
ア　ヨウ易　①自浄作ヨウ　②枝ヨウ末節　③ヨウ害堅固　④ヨウ姿端麗

2
イ　ケイ注　①ケイ骸　②ケイ笛　③ケイ倒　④ケイ揚

3
ウ　バク然　①荒バク　②束バク　③バク雨　④バク発

4
エ　省サツ　①サツ影　②明サツ　③サッ過傷　④サッ風景

5
オ　講ギ　①ギ心暗鬼　②ギ論百出　③大ギ名分　④他人行ギ

問二　空欄 カ キ ク に入る語句の組み合わせとして最も適切なものを次の選択肢の中から一つ選び、その記号を解答欄 6 にマークせよ。

6
①　カ　ところで　キ　ただ　ク　そして
②　カ　それから　キ　とはいえ　ク　それゆえ
③　カ　そして　キ　つまり　ク　それでも
④　カ　ともあれ　キ　なぜなら　ク　しかし

目次へ戻る

問三　傍線部Aに「わからないことがわかってくる」とあるが、その意味として最も適切なものを次の選択肢の中から一つ選び、その記号を解答欄 7 にマークせよ。

① 自分がまだ知らない多くの情報が存在することに気付く。
② それまで理解できなかったことが理解できるようになる。
③ 自分の理解が及んでいない点がどこかを明確に意識する。
④ 人間や自分自身に理解が及ばない領域があることを知る。

問四　傍線部Bに「どこがわかっていないのかを明確にピンポイントに言うことはまず無理です」とあるが、それはなぜか。その理由として最も適切なものを次の選択肢の中から一つ選び、その記号を解答欄 8 にマークせよ。

① 難解と言われる分野は無数に存在しており、どの分野を探究すべきかが特定できないから。
② 難解に感じる分野への理解がまだ手つかずで、探究の端緒となる知識を持っていないから。
③ 難解な分野は理解するだけで多大な労力を要し、探究へと進むための余力がなくなるから。
④ 難解で理解できないという実感から無力感が生まれ、探究は不可能だと先入観を持つから。

目次へ戻る

問五 傍線部Cに「渉猟し」とあるが、「渉猟する」の意味として最も適切なものを次の選択肢の中から一つ選び、その記号を解答欄 9 にマークせよ。

① 多くの資料を詳細に比較する
② 多くの資料を迅速に整理する
③ 多くの資料を集めて書き写す
④ 多くの資料を広く読みあさる

問六 傍線部Dに「知ってるつもり」とあるが、それはどのような状態か。その説明として最も適切なものを次の選択肢の中から一つ選び、その記号を解答欄 10 にマークせよ。

① 他者から見ると知識同士は密接に関連していることがわかるのに、自分ではそれぞれの知識が孤立しており、知識同士の関連性に気付けていない状態
② 他者から見れば周辺の知識のほうが重要だと思うのに、自分はすでに知っている知識のほうが重要だと考え、周辺の知識に関心がないことに疑問を持たない状態
③ 他者から見れば知識不足ではあっても、自分は持っている知識がそれだけで完結していると思っているため、自身では十分な知識を持っていると感じている状態
④ 他者から見ると多様な知識への無関心が不思議であっても、自分では一つの知識を有していれば十分だと感じているため、それ以上の知識には意味がないと思っている状態

目次へ戻る

問七　傍線部Eに「会話が他に簡単にジャンプしてしまう理由がわかってきます」とあるが、どのような理由か。その説明として最も適切なものを次の選択肢の中から一つ選び、その記号を解答欄 11 にマークせよ。

① 自分がある知識を確かに持っているということを確認して満足してしまったため、それ以上の知識を求めようという気持ちにならなかったから。

② 持っている知識は自分自身に理解できる範囲のものであり、それ以上の知識は難解でよく理解できないため、さらなる疑問を持つことは困難であるから。

③ 一つの知識から芋づる式に展開される問いや知識を持つことへの意識が希薄であるため、その知識にまつわる知識を持たないということに気付いていないから。

④ 知識を持っていることで優越感に浸りたかったにもかかわらず、相手も同じ知識を持っていることを知り、その知識にはあまり価値がないということに気付いたから。

問八　傍線部Fに「外面に見える入り口の様態は異なっていても治療のやり方は同じになる」とあるが、「まったくわかっていない」状態と「知ってるつもり」の状態について、どのような治療のやり方になるか。その説明として最も適切なものを次の選択肢の中から一つ選び、その記号を解答欄 12 にマークせよ。

① どちらも理解の及んでいない箇所を発見するところまで知識を得て、それらを組織立てて体系化する。

② どちらも一つの知識から想像力を駆使して周辺知識まで理解を広げ、可能な限り広範に知識を集める。

③ どちらも難解さや理解不足から来る無力感を乗り越えるべく努力し、知識を得る忍耐力を身に付ける。

④ どちらも知識を得る方法は異なっているが、探究の目標地点が同じであることに気付けるようにする。

目次へ戻る

問九　本文の内容について説明した次の文章を完成させるよう、各欄に入る最も適切な選択肢を一つずつ選び、その記号を解答欄 13 から 17 にマークせよ。

追究すべきことを明確にするには、13 ことが必要である。そのためには、追究すべきことにまつわる知識を 14 に整理する必要がある。そのとき妨げとなるのは、そもそも関連する知識がほとんどない「15」状態と、知識が 16 しており体系化されていない「17」の状態である。

13
① 固定
② 孤立
③ 派生

14
④ 知ってるつもり
⑤ まったくわかっていない
⑥ きっちりわからなくなれる

15
⑦ わからない点が見つけられない
⑧ ピンポイント
⑨ システマティック

16
17

目次へ戻る

Ⅱ

次の文章を読んで、後の問いに答えよ。解答は、解答用紙の 18 から 29 にマークせよ。

現代の模範的なコミュニケーションとは、双方の合意のうえで行われ、望ましい媒介物を介した、お互いに見せたいものだけを見せ、お互いに見たいものだけを見るようなコミュニケーションだ。媒介物の外側で他人に接することは単に難しいだけでなく、不躾（ぶしつけ）とみなされ、それを望んでいる人はもう少ない。

ツイッターやインスタグラムなどは、そうした現代風のコミュニケーションをよく体現しているが、オフラインのコミュニケーションも本質的には変わらない。インターネット上のコミュニケーションが空間設計によってパーソナライズされているのと同じように、オフラインのコミュニケーションもそれぞれにとって都合の良いように、いわばパーソナライズされている。人間関係は、家庭・学校・店舗・スポーツクラブ・趣味の集まりといった具合に用途や場面ごとに切り分けられ、それぞれの場面でお互いの合意の範囲でのみ、媒介物に即したコミュニケーションが行われる。用途や場面、合意の範囲、媒介物にふさわしくないコミュニケーションは不作法やハラスメントとみなされる。

このようなコミュニケーションを専らとしている時、A 私たちがお互いに晒（さら）しあい、出会うのは、人格の多面性がそのまま現れた人間そのもの・私たちそのものではない。用途や場面や媒介物に最適化されたキャラクターや役割、いわばアバターを私たちは晒しあい、交換しあっているのであって、キャラクターや役割やアバターの向こう側に思いを馳（は）せ、ましてやアプローチするのは困難になった。

昨今、コミュニケーションの「キャラ化」、ひいては人のありようの「分人化」を語る向きがあるのは、こうしたコミュニケーションの現状を踏まえたものとして理解はできる。また、売買をはじめとして、こうしたコミュニケーションには無駄がなく効率性が高い。お互いのストレスや摩擦を避けやすい、という点でも都合が良いだろう。

視点を変えて考えるなら、現代人は双方の合意に基づいて、お互いに都合の良いコミュニケーションをしていると同時

目次へ戻る

に、用途や場面、媒介物にふさわしくない部分についてはコミュニケーションしないで済ませている、とも言える。私たちは双方に都合の良い、社会契約にも妥当するコミュニケーションに徹することによって、そうでないコミュニケーションを日常から排除し、キャラクターや役割やアバターには回収しきれない、お互いの多面性を知らないで済ませようとしている。

これは、B コミュニケーションであると同時に、一種のディスコミュニケーションでもあるのではないか？ 今日のインターネットでは、視界が自分の見たいものや関心のあるものへ、自分に近い価値観や世界観のものへとパーソナライズされやすい。選好とパーソナライゼーションの行き届いたＳＮＳのタイムライン越しに見る世界は、たとえばトランプ大統領の支持者には支持するのが当然の世界として、トランプ大統領を嫌悪する者には嫌悪するのが当然の世界として現れる。このため、似た者同士による共鳴や共感には適しているが、異なる価値観や思想信条の者同士で意見交換するにはまったく向いていない。

実際、異なる思想信条の者同士がそれぞれセクトをつくり、非難を投げ合う風景はＳＮＳではしばしば見かけるものだが、思想信条の異なる者同士が架け橋をつくる風景はなかなか見かけない。少なくとも二〇二〇年現在のＳＮＳは、その空間設計自体も含めて、私の言うディスコミュニケーションに最適化されているように見える。

思うに、東京でのコミュニケーションもこれと大同小異ではないだろうか。というのも、東京に暮らす者は誰でも、双方の合意のもと、自分の見せたいものを見せ、自分が話したい相手と話したい話題でだけコミュニケートする営みを繰り返し、コミュニケーションの選好やパーソナライゼーションをごく自然に行っているからだ。

それこそ東京のホワイトカラーの家庭に生まれ、私立の中高一貫校を出て一流大学を卒業し、東証一部上場企業で働くような男性などは、そうでない学歴、そうでない職種、そうでない価値観の人とのコミュニケーションを選好しなくて構わないし、繋がっていなくても構わない。ブルーカラーの人々や非正規雇用の人々とコミュニケーションしなくて済むことをあ

目次へ戻る

りがたがっている人さえいるだろう。

用途や場面ごとに、媒介物を介した、双方の合意を前提とする現代のコミュニケーションの通念や習慣のおかげで、そうやってコミュニケーション無しで済ませる日常は正当化されている。

二〇一〇年代からこのかた、マスメディアはたびたび「分断」を社会問題として取り上げてきた。思想信条やライフスタイルや世界観の近しい者同士がつるみあい、異なる者同士でいがみあうばかりでは、政治、とりわけ民主主義が機能不全に陥ってしまうという指摘はそのとおりだろう。

しかし個人のレベルに立ち返って考えるなら、「分断」は現代のコミュニケーション、いや、ディスコミュニケーションに最適化された個人のありようの、政治的な側面に過ぎない。政治に限らず、媒介物を介した都合の良いコミュニケーションと、できるだけお互いについて知らずに済ませるディスコミュニケーションのなかで私たちが暮らしているのだから、C「分断」しないほうがむしろおかしいのである。

マスメディアが「分断」と呼ぶ現象については、私たちの生活がディスコミュニケーションによって成り立っていること、媒介物を介したコミュニケーションの利便性や効率性の良さのおかげで、知り合いたくないものと知り合わずに済ませられる社会が構築されていることを踏まえて、論じられるべきだろう。

ではいったい、こんな世界で私たちに何ができるのだろう。

少なくない人が行き過ぎた資本主義の現状を懸念している。そうしたなかには、私よりも資本主義に対してシニックな見方の人、たとえばマーク・フィッシャー[注]の意見や、この秩序が加速していった果てに資本主義の向こう側を見る意見もある。しかし私は資本主義、個人主義、社会契約から受け取っている恩恵の大きさや、医療や福祉によって救われている人々のことを知っているから、それらの意見に簡単には同意できない。この、清潔で健康的で道徳的な社会がハードランディングするとしたら、途方もない混乱と混沌が訪れ、社会や制度によって何とか暮らしている人々が真っ先に困窮すると思われ

目次へ戻る

るからだ。

それでも私たちは、通念や習慣の奴隷になってはいけないし、D現代社会のありようを当たり前だと思いすぎてはいけないのだと思う。法制度の枠組みを遵守し、空間設計に覆われながら暮らすことと、それらに盲従し、何も考えなくなることはイコールではない。三平方の定理や原子配列といった自然科学領域のファクトと違って、ある社会、ある時代で常識とみなされている社会科学領域のファクトは永遠不変ではない。

通念や習慣に従いつつ、心のなかで舌を出していても本当は良いはずである。たとえば芥川龍之介は「最も賢い処世術は社会的因襲を軽蔑しながら、しかも社会的因襲と矛盾せぬ生活をすることである」と記しているが、そのような態度は通念や習慣に呑み込まれないためにあって構わないものではないかと思う。現代の秩序に引っかかりどころのある人が、引っかかりどころのあるまま生き、心のなかで舌を出していても構わない社会であって欲しい。秩序への盲従を強いるような社会ではあって欲しくない。

私たちに許容されている多様性とはどんなもので、私たちに残されているコミュニケーションやディスカッションとはどんなものだろう？ そうした余地を僅かでも取り戻し、Eたまさかコミュニケーションやディスカッションができた者同士で交わされた言葉を残していくことが、F現状に対するささやかな抵抗ではないかと私には思える。

「ペンは剣よりも強し」と人は言うが、コミュニケーションやディスカッションの当事者としての私たちは案外脆(もろ)いし、ディスコミュニケーションの氾濫するメディアのなかでは目立ちにくいかもしれない。それでもメディアに記され、記録されたコミュニケーションやディスカッションの痕跡はテロや弾圧があってさえ残り続ける。王朝時代の中国はたびたび焚書(ふんしょ)を行ったと言うが、それでも過去の記録や痕跡は生き残った。歴史というスケールで見るならペンと剣の強さは逆転する。現代社会について思うところがあるなら、私たちはコミュニケーションし続けなければならないし、ディスカッションし続けなければならないし、記録し続けなければならない。

目次へ戻る

（熊代　亨　『健康的で清潔で、道徳的な秩序ある社会の不自由さについて』一部変更）

注　マーク・フィッシャー・・・（一九六八～二〇一七）イギリスの批評家。主著『資本主義リアリズム』のなかで、現在の社会では資本主義という政治経済システムの代替物を想像することすら不可能となっていると分析した。

問一　傍線部Aに「私たちがお互いに晒しあい、出会うのは、人格の多面性がそのまま現れた人間そのもの・私たちそのものではない」とあるが、それはなぜか。その理由として最も適切なものを次の選択肢の中から一つ選び、その記号を解答欄 18 にマークせよ。

18

① 相手に自分の手の内を見せることはこちらの弱点を握られることになりかねないので、できるだけ必要最低限のやりとりで済ませることが日常化しているから。

② 現代の人びとはつねにSNSなどのメディアを介して限られたコミュニケーションをしているので、対面での会話の中で多様な話題を取り上げることを避けるから。

③ もともと人間は複数の顔を持ち、ときには矛盾を抱えた存在であるが、現代のコミュニケーションで提示されているのは特定のキャラや役割だけだから。

④ 人間にはいくつもの自己がありそれらの自己を束ねる「私」が中心に存在するとされてきたが、現代ではもはやそのような前提は失われてしまったから。

目次へ戻る

問二 傍線部Bに「コミュニケーションであると同時に、一種のディスコミュニケーションでもある」とあるが、それはどういうことか。その説明として最も適切なものを次の選択肢の中から一つ選び、その記号を解答欄 19 にマークせよ。

19

① 相手の考えをすべて受け止めるのではなく部分的にのみ肯定したり賛成したりするのは、その他の部分は否定したり反対したりすることを意味するということ

② 相手の提示するキャラクターをこちらの独断と偏見で判断してしまうのは、そのキャラクターが持つ別の可能性を見落としてしまうデメリットがあるということ

③ 価値観や思想信条の同じ者たちのみが集団を形成するのは、それとは異なる価値観や思想信条の者たちからの反発や敵対心を増大する結果を招くということ

④ 見たいものしか見ず協調や共感しか重視しないのは、裏返せば、見たくないものや、協調したり共感したりできない他者を等閑視することを意味するということ

目次へ戻る

問三 傍線部Cに「『分断』しないほうがむしろおかしい」とあるが、それはなぜか。その理由として最も適切なものを次の選択肢の中から一つ選び、その記号を解答欄 20 にマークせよ。

20

① 個人の視点から見れば、自分の趣味や価値観についてとやかく言われる筋合いはないので、それらを異にする者と共存しないのは至極当然とされているから。

② 現代の社会では個々の人生の経路でもSNSなどのアプリのしくみでも、そもそも異質な他者と触れ合わなくてもよいよう構造化されているから。

③ 出身地域や学歴が異なればその後の職業や収入も異なるので、生活水準が反映される趣味などを他人と共有できないのは当たり前であるから。

④ 世の中には多様な思想信条や価値観が存在し、それらの数だけ組織や集団が存在しているので、互いに反目しないほうが不自然であるから。

目次へ戻る

問四　傍線部Dに「現代社会のありようを当たり前だと思いすぎてはいけない」とあるが、それはなぜか。その理由として最も適切なものを次の選択肢の中から一つ選び、その記号を解答欄 21 にマークせよ。

① 私たちはふだんの生活の中で当たり前のように街中で買い物をして病院で治療を受けられるが、世界的にはそのような社会はまだ少数なのだと心に刻むべきだから。

② いまここにある世界が今後もずっと同じように続いていくと私たちは考えがちであるが、いつ災害や戦争が生じるかわからないので日頃から備えをするべきだから。

③ どんなに平和で豊かに見える社会でも恵まれない人や報われない人が存在しているので、ふだんから福祉や奉仕の精神を忘れずに暮らしていく必要があるから。

④ 社会は安定や調和だけでなく紛争や対立も含んで存在しているが、毎日の日課に気を取られすぎると社会を批判的に捉えて変革していくことが難しくなるから。

問五　傍線部Eに「たまさか」とあるが、その意味として最も適切なものを次の選択肢の中から一つ選び、その記号を解答欄 22 にマークせよ。

① 必然的に

② かろうじて

③ 思いがけず

④ 惜しみなく

目次へ戻る

問六 傍線部Fに「現状に対するささやかな抵抗」とあるが、それはどういうことか。その説明として最も適切なものを次の選択肢の中から一つ選び、その記号を解答欄 23 にマークせよ。

23

① 価値観や思想信条の異なる者同士がコミュニケーションを取るのは困難なことではあるが、それを辛抱強く続けて、社会全体のディスコミュニケーション状況を打破していくこと

② 現代の社会はライフスタイルや世界観の異なる者同士が分断されるという問題を抱えており、これを解決するために、その問題を政治的に取り上げうる人々に協力すること

③ 人びとが家庭や学校などの場においてオフラインでディスカッションを交わして、現代の社会でSNSの登場によって失われてしまった人格の多面性を取り戻すこと

④ 現代の社会では行き過ぎた資本主義によって経済的な格差が拡大しているので、これを押しとどめるために、利便性や効率性ばかりを重視する生活のあり方を少しずつ改めること

目次へ戻る

問七 本文の内容に合致するものを次の選択肢の中から一つ選び、その記号を解答欄 24 にマークせよ。

24

① 異なる価値観や思想信条の者同士で積極的に意見交換するために自分のキャラクターを隠すことなく相手に提示し、また相手のキャラクターや役割を正確に理解するのが現代の模範的なコミュニケーションである。

② 現代の日常生活ではキャラクターや役割を大切にするようにコミュニケーションが最適化されているため、その習慣の結果として、自分そのものや自らの多面性を相手にさらけ出すのは無作法であるとみなされる。

③ 現代人はストレスや摩擦を避けようとしてお互いの都合の良い範囲でのみコミュニケーションを行なっているが、健全な民主主義社会を取り戻すには一人一人が努力して積極的に討論に取り組んだほうがよい。

④ 現代ではコミュニケーションの効率化によって誰もがストレスなく過ごせる社会が構築されており、健康で道徳的な社会を維持するために個人同士の活発な言論活動が多少制限されるのは仕方がない。

目次へ戻る

問八　筆者の主張について説明した次の文章を完成させるよう、各欄に入る最も適切な選択肢を一つずつ選び、その記号をマークせよ。

解答欄 25 から 29 にマークせよ。

現代では一面的なキャラクターや役割でのみ意思疎通することが模範的な 25 とされるが、それは趣味や信条のあう者同士だけがあつまり、それ以外の者を排除する 26 である。それを克服するには、いまここにある社会の 27 を疑い 28 を確保できるよう、意見や価値観の異なる者同士が 29 をすることが重要である。

25
① マスメディア
② ディスコミュニケーション
③ コミュニケーション
④ ディスカッション
⑤ パーソナライゼーション

26
⑥ 自明性
⑦ 利便性
⑧ 多様性

27
28
29

目次へ戻る

国語

番号	正解	番号	正解	番号	正解	番号	正解	番号	正解
1	4	6	1	11	3	16	2	21	4
2	3	7	3	12	1	17	4	22	3
3	1	8	2	13	6	18	3	23	1
4	2	9	4	14	9	19	4	24	2
5	3	10	3	15	5	20	2	25	3

番号	正解
26	2
27	6
28	8
29	4

目次へ戻る

2023 年度 一般推薦入試問題・解答例

目次へ戻る

I　次の英文を読んで、下の問に記号で答えなさい。

About one-third of all food produced in the world is never eaten. From farm to fork, there is food loss and food waste [1] the world. This is all the more (ア)tragic when you consider that one in nine people in the world live in hunger. The United Nations has set a goal of not only (イ)halving food waste by 2030, especially at the retail and consumer level, [2] also reducing food loss along the supply chain.

There is a difference between food loss and food waste. Food loss occurs before anything reaches restaurants, supermarkets, and consumers. This could be food lost on the farm before or after (ウ)harvest. For instance, some produce spoils during transportation. Food loss can also occur during processing in factories.

Food waste, [3], occurs at supermarkets, convenience stores, restaurants, and at home. Food is wasted for different reasons. For instance, unsold food is [4] out by stores. There is a limited (エ)shelf life and it's sometimes hard to (オ)predict consumer demand. Also, (A)supermarkets stock their aisles with perfect pieces of fruits and vegetables while rejecting others that don't have the right shape, size, or color. Does your cucumber always have to be straight?

At the [5] level, food waste can occur due to poor purchasing habits or buying too much at a time. Some people avoid buying or eating anything too close to the (カ)best before date. Although best before dates serve a valuable purpose in protecting us [6] consuming spoiled food, canned or dried goods are often not only safe but also delicious weeks or months after the expiration date. I've eaten a few old bowls of tasty instant noodles, [7] I'm alive and healthy.

(B)Reducing food waste will not only reduce world hunger, but also greenhouse gas emissions. [8] water, fertilizer, and agricultural land would be needed and less discarded food would go into landfills or (キ)become incinerated. Agricultural land equal to the size of Argentina would become [9]. That's eight times the size of Japan.

There are various ways to reduce food waste. One example is (C)the community fridge in the United Kingdom. The idea is that anyone can put food in or take food out of the community fridge. There are now over 100 such fridges in the UK. It is a convenient way to get rid of (ク)excess food quickly and easily. The first community fridge in Japan opened in Okayama in 2020. Local businesses, farmers, and consumers (ケ)donate food to this fridge. On one particular day, items such as tofu, instant noodles, and frozen food could be found.

We all have a (コ)responsibility to reduce food waste. What will you do to reduce food waste today?

問 1　[1]～[9]の空所に入る最も適切な語・語句を選びなさい。

[1]	① under	② to	③ for	④ around
[2]	① and	② but	③ so	④ while
[3]	① moreover	② to sum	③ for a while	④ on the other hand
[4]	① thrown	② put	③ looked	④ found
[5]	① producer	② consumer	③ government	④ farmer
[6]	① in	② from	③ over	④ between
[7]	① particularly	② also	③ besides	④ yet
[8]	① More	② Better	③ Less	④ Fewer
[9]	① irregular	② impossible	③ unavailable	④ unnecessary

目次へ戻る

問 2　本文の内容から判断して、下線部(ア)～(コ)の意味として最も適切なものを選びなさい。

10 (ア) ① 痛ましい　② 好ましい　③ よくある　④ 重要な

11 (イ) ① なくすこと　② 維持すること　③ 中止すること　④ 半分にすること

12 (ウ) ① 耕うん　② 種まき　③ 収穫　④ 出荷

13 (エ) ① 商品の開発にかかる期間　② 商品の運搬にかかる時間
③ 商品を店舗に置いておく期間　④ 商品が買われてから食べられるまでの時間

14 (オ) ① ～を予想する　② ～を送り出す　③ ～の役に立つ　④ ～を誤解する

15 (カ) ① 収穫日　② 製造年月日　③ 販売期限　④ 賞味期限

16 (キ) ① 焼却される　② 分解される　③ 肥料化される　④ 埋め立てられる

17 (ク) ① 高価な　② 優れた　③ 余分の　④ 傷んだ

18 (ケ) ① 寄付する　② 運搬する　③ 持ち去る　④ 保管する

19 (コ) ① 理由　② 技術　③ 知識　④ 責任

問 3　下線部(A)～(C)の意味に近いものとして最も適切なものを選びなさい。

20 (A) ① スーパーでは見た目の良い食品だけを店先に並べ、見た目の悪いものは売らない
② スーパーでは見た目の良い食品は裏に隠しておき、見た目の悪いものを安く売る
③ スーパーでは見た目の良い食品と見た目の悪いものを一緒にし、価格を抑えて売る
④ スーパーでは見た目の良い食品は通常の陳列棚に並べ、見た目の悪いものは別にして安く売る

21 (B) ① Reducing food waste leads to reducing both world hunger and greenhouse gas emissions
② Reducing food waste is effective in reducing world hunger, but not effective in reducing greenhouse gas emissions
③ It is difficult to reduce food waste because it leads to increasing greenhouse gas emissions
④ We need to reduce world hunger in order to reduce greenhouse gas emissions

22 (C) ① a refrigerator that is so large that all unnecessary food in the community can be stored in it
② a place where people can sell and buy surplus food at relatively low prices
③ a cafeteria where free meals are served to children and poor people
④ a facility where people bring in food they don't need and people in need take some of it

問 4　本文のタイトルとして最も適切なものを選びなさい。

23 ① Importance of Food Preservation
② Food Loss and Food Waste
③ Straight Cucumbers
④ The Community Fridge

目次へ戻る

II　次の問に記号で答えなさい。

問 1　次の四字熟語のうち、漢字表記が正しいものを一つ選びなさい。

24　①旗幟鮮明　②千載一隅　③多事多旦　④不益流行

問 2　次の四字熟語のうち、漢字表記が**誤っているもの**を一つ選びなさい。

25　①一念発起　②虚心坦懐　③朝礼暮改　④半信半疑

問 3　下線部の漢字表記が正しいものを一つ選びなさい。

26　①打つ手をすべて出し尽くし、一時は万事窮すとまで思った状況が好転した。
②その映画の終盤では、主演俳優の危機迫る演技が必見だ。
③彼には濡れ手で泡のような儲け方はいけないという思い込みがあるようだ。
④アジア太平洋地域の国々の首脳が一堂に会する国際会議が催された。

問 4　下線部の漢字表記が**誤っているもの**を一つ選びなさい。

27　①商品ラインナップを改めたことで、他社との競争で有意な立場となった。
②２人目、３人目となるにつれ、子ども１人にかかる費用は逓減する傾向がある。
③情報化社会の恩恵を享受するには、IT リテラシーを身につけることが重要である。
④地震などの自然災害の際には、落ち着いて行動することが肝要である。

問 5　カタカナ部分が下線部の漢字の読みとして正しいものをそれぞれ一つ選びなさい。

28　(1) ①詐取　サク　②措置　シャク　③弛緩　ダン　④歪曲　ワイ
29　(2) ①凝縮　ギ　②便宜　セン　③垂涎　ゼン　④寡聞　モン

問 6　カタカナ部分が下線部の漢字の読みとして**誤っているもの**をそれぞれ一つ選びなさい。

30　(1) ①主宰　サイ　②追従　ショウ　③市井　セイ　④軽侮　ベツ
31　(2) ①仰ぐ　アオ　②悼む　イタ　③臨む　イド　④紡ぐ　ツム

目次へ戻る

III　次の問に記号で答えなさい。

問 1 「実社会で苦労して、ずる賢くなること」を意味する表現として最も適切なものを一つ選びなさい。

32　①世間知らず　②世間ずれ　③世間慣れ　④世間離れ

問 2 「尊敬する人に直接会うこと」を表す慣用句として最も適切なものを一つ選びなさい。

33　①相接する　②警咳(けいがい)に接する　③警策に接する　④踵(くびす)を接する

問 3 「実力があり、他人に左右されないこと」表す語として最も適切なものを一つ選びなさい。

34　①押すな押すな　②押しも押されもしない　③引くに引けない　④押すに引っ張る

問 4 次の言い回しの［　］に入る最も適切なものをそれぞれ一つ選びなさい。

35　(1) 商いは［　］のよだれ　①子　②牛　③夜　④鶏

36　(2)［　］多ければ実少なし　①雨　②晴れ　③花　④草

37　(3)［　］振り合うも多生の縁　①手　②足　③裾(すそ)　④袖(そで)

問 5 次の［　］に入る言い回しとして最も適切なものを一つ選びなさい。

カナダ北部へ旅行した際、現地で見たオーロラの雄大さと迫力に［　］されてしまった。

38　①圧巻　②圧縮　③圧倒　④圧力

問 6 次の文の下線部の語句が適切に使用されているものを一つ選びなさい。

39　①子供のものという<u>固定概念</u>を捨てて絵本を開いてみると、大人ならではの新しい発見がある。
②若い頃は使命感を持って、<u>寸暇を惜しまず</u>新薬開発の研究に打ち込んでいた。
③その人は相当怒っていたようで、謝っても<u>取り付く島がなく</u>、突き放した態度をとられた。
④偶然その場に居合わせてしまったため、事故の経緯を<u>最大漏らさず</u>報告した。

目次へ戻る

IV　次の文章を読み、問に記号で答えなさい。

定期試験の当日の朝に友人同士で「自分がいかに試験勉強をしなかったか」を主張（自慢？）しあうといった体験はないだろうか。そこには自己価値動機（注 1）に基づく特有の心理的メカニズムがはたらいている。

実際に試験勉強をしたかどうかにかかわらず、努力しなかったと公言することによって、試験の結果がたとえ悪かったとしても「試験勉強をしていなかったからだ」という言い訳（「ダメで元々」）が成り立ち、自分に対する有能さの評価は傷つかない。（　a　）、もし試験の結果がよければ「あの人は努力しないで高得点をとるなんてすごい。頭がいいに違いない」といった「（　b　）」的な賞賛が得られ、優越感に浸れる。つまり、試験の結果が成功、失敗のどちらに転んでも得策なのである。

一方、うっかり「徹夜して頑張った」などと口走ってしまったり、隠していたつもりの努力の積み重ねが他者にバレてしまったりすると、自分の評価が傷つく危険性が高まる。成績がよくても「努力したので当たり前」と思われるだけにすぎず、もし成績が悪ければ「努力したにもかかわらず低得点だったのは頭が悪いからだ」と推察されてしまうからだ。

以上のように、原因帰属（注 2）を手がかりとしてモチベーションを説明するのが自己価値理論である。

この理論によれば、達成が求められる状況で、自分が努力する姿を他者に見せると自己価値が傷つくリスクが生じるという。「努力しても失敗したのは当人に能力がないためだ」という原因帰属を促してしまうからだ。

自分の価値を貶（おとし）めないためには、他者に無能だと思われるような事態は絶対に避けなければならない。特に、直面している課題に対して自信がない人の場合、「無能さの(c)ロテイ」に対する恐怖はひとしおだろう。

一方、努力は達成するための必要不可欠な条件である。努力しないで成功するような一握りの天才はともかく、大多数の一般人にとっては、努力せずに何かを成し遂げることなど不可能だろう。しかも、われわれの社会では努力に価値が置かれている。特に、日本では努力信仰が強く、努力することそれ自体に意義があるとさえ考えられている。

そこに努力をめぐるジレンマが生じることになる。すなわち、努力しなければ達成できないが、その一方で、努力する姿を他者にさらして、その結果として失敗してしまうと無能な人と思われてしまうわけだ。前述した定期試験当日朝のエピソードは、まさにこのジレンマ事態に対して、われわれが無意識のうちに自己価値を守ろうとする心理現象の一例なのである。

このように努力することは「諸刃（もろは）の剣」であり、そこにはジレンマが(d)潜んでいる。特に、努力することが奨励される学校教育において、子どもたちには努力しないという選択肢はない。とりわけ、自分に自信がない子どもたちにとって努力することは「危険な賭（か）け」であり、彼らは自己価値を貶めるリスクに常にさらされているのである。

（注 1）他者の目からみた自分のポジティブなイメージを作り上げたり、それを維持しようとしたりする傾向

（注 2）なぜうまくいっているのか、うまくいかないのかという原因について振り返って考えること

（鹿毛雅治『モチベーションの心理学』一部改変）

目次へ戻る

問 1　空欄（　a　）に入る語として最も適切なものを一つ選びなさい。

40　①しかし　②しかも　③よって　④つまり

問 2　空欄（　b　）に入る表現として最も適切なものを一つ選びなさい。

41　①餅は餅屋　②画餅に帰す　③絵に描いた餅　④棚からぼた餅

問 3　下線部(c)の漢字表記として適切なものを一つ選びなさい。

42　①路提　②路程　③露体　④露呈

問 4　下線部(d)の読み方を選びなさい。

43　①ひそ　②しず　③はさ　④から

問 5　本文中の「努力をめぐるジレンマ」について説明したものとして最も適切なものを、以下の中から一つ選びなさい。

44
①努力せずに失敗したときには、努力しなかったからだと言い訳できるのに対し、成功したときには非常に有能だと思われるということ。
②努力をせずに達成できる天才がいるのに対し、大多数の人は努力せずに何かを達成することができないということ。
③努力したことを知られて失敗したときには自己評価が下がってしまうにもかかわらず、努力せずには何かを成し遂げることはできないということ。
④努力をせずに何かを成し遂げることができることがあるにもかかわらず、日本では努力信仰が強く、子どもたちは努力しない選択肢がないということ。

目次へ戻る

基礎学力テスト

番号	正解
1	4
2	2
3	4
4	1
5	2

番号	正解
6	2
7	4
8	3
9	4
10	1

番号	正解
11	4
12	3
13	3
14	1
15	4

番号	正解
16	1
17	3
18	1
19	4
20	1

番号	正解
21	1
22	4
23	2
24	1
25	3

番号	正解
26	4
27	1
28	4
29	3
30	4

番号	正解
31	3
32	2
33	2
34	2
35	2

番号	正解
36	3
37	4
38	3
39	3
40	2

番号	正解
41	4
42	4
43	1
44	3

目次へ戻る

2023年度 商業系科目入試問題・解答例

目次へ戻る

Ⅰ　ビジネス基礎分野（必答）

問 1　以下の文章において、空欄 A～H に入れるのに最も適切な語句を解答群から一つ選び、**カタカナ記号で**答えなさい。なお各選択肢は繰り返し選ぶことはない。

今日の日本ではさまざまな雇用形態や勤務形態がみられるが、（　A　）は一般的には雇用期間の定めがなく長期雇用を前提とした雇用形態を意味している。かつて、日本においては代表的雇用制度として定年退職するまで身分が保証される（　B　）や年齢や勤務年数に応じて賃金が上昇する（　C　）が主流であったが、近年では社員の業績によって評価する（　D　）の賃金体系をとる企業も増加している。また、企業は人件費をおさえるために雇用期間が契約で決められている（　E　）の雇用形態を採用する企業も増加している。この雇用形態は、雇用される側にも自分のライフスタイルに合わせて働くことができるメリットがある。さらに、この雇用形態には、専門的な知識や技術を有する人を即戦力として確保する目的で生まれ、企業と有期の雇用契約を結び仕事に従事する労働者を指す（　F　）、時間給などで一定時間にわたり勤務する（　G　）、派遣元企業と雇用契約を結び他の企業に派遣されて労働する（　H　）などがある。

―解答群―

ア．年功序列型賃金制度　イ．成果主義　ウ．パート・アルバイト労働者　エ．派遣社員
オ．終身雇用制度　カ．正規雇用　キ．非正規雇用　ク．契約社員

問 2　以下の A～G の文で正しいものには○、間違っているものには×を記入しなさい。

A　マーケティングは、20 世紀初頭のアメリカで使用されてからその定義や概念は変更されていない。
B　1950 年代なかばでは「白黒テレビ」「電気洗濯機」「電気冷蔵庫」が三種の神器と呼ばれ、急速に一般家庭に普及していくこととなった。
C　総合的な品揃えをおこない割引販売を実施している小売業は、メーカーと提携や協力をおこないナショナルブランドを開発している。
D　一定地域に集中して出店し、他の企業に対して優勢をはかる出店方法をドミナント出店と呼ぶ。
E　小売業の代表的な業態であるスーパーマーケットは、顧客に対してきめ細やかに対応できるように対面販売方式を採用している店舗が大多数である。
F　生活用品は、購入される際の慣習的様式に従い分類されるが、最寄品とは消費者がひんぱんに購入するような比較的安価な一般食料品や日用雑貨を指している。
G　生活に必要な食料の安定供給をはかることもビジネスの果たす役割であるが、世界的にみると肉食化の傾向、水資源不足、人口の減少が食料不足の原因と考えられている。

問 3　以下の各文 A～E は、従業員を雇用する企業の立場から見た、社会保険制度についての説明の一部である。それぞれどの保険に該当するか、最も適切なものを解答群から一つずつ選び、**カタカナ記号で**答えなさい。なお各選択肢は繰り返し選ぶことはない。

A　病気やけがをした際に治療費の給付をし、従業員だけではなくその家族にも給付が行われる制度である。
B　従業員の年齢が 40 歳以上 65 歳未満の場合に健康保険料と一緒に保険料が徴収される制度である。
C　老齢、障害、死亡の際の所得保障制度である。
D　従業員が失業した際に一定額の所得保障をする制度である。
E　従業員が仕事中や通勤途中で災害にあった際に給付する制度である。

―解答群―

ア．労災保険　イ．年金保険　ウ．介護保険　エ．雇用保険　オ．健康保険

目次へ戻る

II ビジネス基礎分野・計算（必答）

以下の各問に答えなさい。答が小数になるときは四捨五入して小数第 1 位まで求めなさい。なお消費税は徴収額をそのまま納税するので、損益額、損益率の計算においては無視すること。また、損益額・損益率については、損失の場合はマイナスをつけて表すこと。

問 1　ある商品は原価が 1 個 2,000 円である。

（1）20%の利益を見込む場合、
　（ア）税抜き定価は 1 個何円か。
　（イ）10%の消費税を入れた税込み価格は 1 個何円か。
（2）この商品を 100 個仕入れて販売するつもりであるが、定価販売では売れ残りが最大で 20 個出ると予想している。
　（ア）20 個の売れ残りが出ても損失が出ないようにするには、定価で売れる 80 個のトータルで最低何円の利益を上げる必要があるか。
　（イ）上記（ア）の利益を上げるためには、定価は最低でも何円にすべきか。
　（ウ）上記（イ）の定価をつける場合、定価販売での 1 個の利益率は何%か。
　（エ）上記（イ）の定価をつけて販売したところ、売れ残りは実際には 10 個であった。このときの 100 個トータルの損益率は何%か。なお売れ残りの保管や廃棄等の費用は無視してよい。

問 2　手形金額が 182,500 円の約束手形を、支払期日より 10 日前に割り引いたら、181,500 円の支払を受けた。割引率は何%か。ただし、割引率以外に手数料等は考えないものとする。

以下の III および IV は選択問題である。どちらか一方**のみ**を選び、解答すること。また、解答用紙の指定の欄にどちらを選んだか記入すること（○をつける）。なお III を選んだ場合でも解答用紙は 2 枚とも提出すること。　問題 III は 5 ページあり、問題 IV はその後にある。

III　ビジネス情報分野（選択）　以下の各問において、選択肢で答えるものは最も適切なものを選択肢から選び**カタカナ記号で**、数値で答えるものは**数値で**答えなさい。

【A】各設問にあてはまるものを解答群の選択肢から選びなさい。

問 1　コンピュータの演算性能を示す指標の一つで、1 秒間に実行できる命令の回数を 100 万単位で表したもの

問 2　パソコンを構成する基本的な機器以外の周辺装置を制御・管理するためのソフトウェア

問 3　分割して作成したモジュールを組み合わせて、モジュール間のインターフェースに着目して行うテスト手法

問 4　コンピュータシステムの障害に備えて、複数台のコンピュータでシステムを稼働するしくみ

問 5　コンピュータネットワークに直接接続することができる記憶装置

－解答群－

ア．システムテスト　　イ．RAID　　ウ．MIPS　　エ．フールプルーフ

オ．NAS　　カ．クロック周波数　　キ．プラグアンドプレイ

ク．フォールトトレラント　　ケ．デバイスドライバ　　コ．結合テスト

【B】各設問にあてはまるものを解答群の選択肢から選びなさい。

問 6　コンピュータなどの通信機器の持つべき機能を階層構造に分割したモデル

問 7　Web ページの脆弱性を利用した罠を仕掛け、偽サイトに誘導してさまざまな被害を引き起こす攻撃

問 8　ネットワークの利用状況を記録したファイルの一種で、Web サイトで閲覧した日時や内容などを記録したもの

問 9　コンピュータやプリンタを LAN に接続するために必要な、LAN カードに付けられた固有の番号

問 10　会社や家庭内などの LAN 内部でコンピュータ機器を識別するための番号

－解答群－

ア．プライベート IP アドレス　　イ．スパイラルモデル　　ウ．システムログ

エ．MAC アドレス　　オ．OSI 参照モデル　　カ．グローバル IP アドレス

キ．ホストアドレス　　ク．クロスサイトスクリプティング　　ケ．アクセスログ

コ．ソーシャルエンジニアリング

【C】各設問に**数値で**答えなさい。ただし、1KB=10^3B、1MB=10^6B、1GB=10^9B とする。

問 11　A ひとりでは 15 日間、B ひとりでは 10 日かかる仕事がある。この仕事を A、B ふたりで共同して 4 日行い、残りの仕事は A ひとりで行って仕事を完成した。A ひとりで何日間行ったか。

問 12　MTBF が 180 時間、MTTR が 20 時間のシステムの稼働率を求めなさい。

問 13　通信速度が 32Mbps の回線を使って 5 秒間で転送できる最大のデータ量は何 MB か。ただし、伝送効率は 50%とし、その他の外部要因は考えないものとする。

問 14　A、B からなる 3 つの装置が次の図のように配置されているシステムにおいて、システム全体の稼働率を求めなさい。ただし、装置 A の稼働率を 0.9、装置 B の稼働率を 0.8 とする。



問 15　次の表の仕様である磁気ディスク装置の記憶容量は何 GB か。

1 セクタあたりの記憶容量	200B
1 トラックあたりのセクタ数	300
1 シリンダあたりのトラック数	150
総シリンダ数	6,000

【D】各設問で最も適切なものを直後の選択肢から選びなさい。

問 16　業務の改善提案に対する報奨を次の表に基づいて決めるとき，改善額が 250 万円で，かつ，期間短縮が 5 日の改善提案に対する報奨はいくらか。ここでは，条件が成立の場合は Y を，不成立の場合は N を記入し，これらの条件に対応した時の報奨を〇で表してある。

条件	改善額200万円未満	Y	Y	N	N
	期間短縮 1 週間未満	Y	N	Y	N
報酬	10,000円	〇			
	15,000円			〇	
	20,000円		〇		
	25,000円				〇

ア．10,000 円　　イ．15,000 円　　ウ．20,000 円　　エ．25,000 円

問 17　図のアローダイアグラムで，①から⑦に至る全体の作業日数に影響を与えないことを条件に，③→⑥の作業の遅れは最大何日間まで許容できるか。

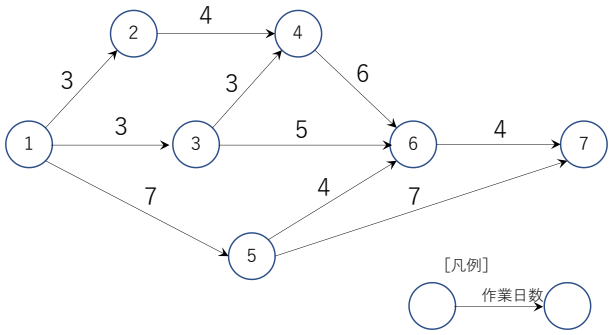

ア．2 日間　　イ．3 日間　　ウ．4 日間　　エ．5 日間

問 18　次の文章のうち、ERP を説明しているものとして適切なものはどれか。

ア．企業の持つ資金や人材、設備、資材、情報など様々な資源を統合的に管理・配分し、業務の効率化や経営の全体最適を目指す手法のこと

イ．企業などで既存の業務の構造を抜本的に見直し、業務の流れを最適化する観点から再構築すること

ウ．顧客の属性や接触履歴を記録・管理し、それぞれの顧客に応じたきめ細かい対応を行うことで長期的な良好な関係を築き、顧客満足度の向上や取引関係の継続に繋げる取り組みのこと

エ．自社内あるいは取引先との間で受発注や在庫、販売、物流などの情報を共有し、原材料や部材、製品の流通の全体最適を図る管理手法のこと

問 19　次の SWOT 分析の空欄（a）にあてはまる適切なものはどれか。

	強み	弱み
機会		
脅威	（a）	

ア．弱みを改善する M&A で自社の弱点を克服　　イ．市場からの撤退

ウ．競争優位性をさらに高めるための事業戦略を追加　　エ．同業他社の進出に独自性能の追加で対応

問 20　情報収集→カード化→グループ化→図解化→文章化という手順で進めてデータを整理して問題点を明確にする手法として適切なものはどれか。

ア．KJ 法　　イ．ブレーンストーミング　　ウ．DFD　　エ．ABC 分析

目次へ戻る

【E】各設問で最も適切なものを直後の選択肢から選びなさい。

問 21　ある会社の当座出納帳に次のような表を用いている。なお、当座借越契約については 300,000 円まで結んでいる。F4 の「残高」欄に設定する式として適切なものはどれか。ただし、この式を F7 までコピーするものとする。なお、「残高」欄の数字の色は黒色のみで表示されているものとする。

	A	B	C	D	E	F
1						
2			当座出納帳			
3	日付	摘要	借方	貸方	貸借	残高
4	9月1日	前月繰越	150,000		借	150,000
5	9月2日	小切手振出		100,000	借	50,000
6	9月3日	小切手振出		100,000	貸	50,000
7	9月4日	当座入金	200,000		借	150,000

ア．=ABS(SUM($C$4:$C$4)-SUM($D$4:$D$4))
イ．=ABS(SUM($C$4:C4)-SUM($D$4:D4))
ウ．=SUM(SUM($C$4:$C$4)-SUM($D$4:$D$4))
エ．=SUM(SUM($C$4:C4)-SUM($D$4:D4))

問 22　次の表は、ある野球チームの個人打撃成績集計表である。M8 は「四球」が 15 以上で、「三振」が 40 以下の「打率」の最大値を表示し、同じ条件で N8 に「本塁打」の最大値を表示する。M8 に設定する式として適切なものはどれか。ただし、この式を N8 までコピーするものとする。

	A	B	C	D	E	F	G	H	I	J	K
1											
2											
3	番号	名前	打率	試合	打席	打数	安打	本塁打	打点	四球	三振
4	1	工藤	0.276	99	413	373	103	0	19	18	45
5	2	曽我部	0.278	90	365	331	92	7	40	27	74
6	3	田中	0.281	87	355	327	92	11	45	22	40
7	4	中川原	0.321	79	355	327	105	1	14	19	42
8	5	松井	0.254	88	338	303	77	5	33	21	26
9	6	臼井	0.246	61	228	211	52	2	15	11	31
10	7	梅本	0.291	63	222	196	57	7	15	19	37
⋮	⋮	⋮	⋮	⋮	⋮	⋮	⋮	⋮	⋮	⋮	⋮
28	25	出口	0.278	15	19	18	5	1	1	1	3
29	26	林	0.154	12	17	13	2	0	0	2	3
30	27	平ノ山	0.071	46	14	14	1	0	0	0	5
31	28	森崎	0.2	7	10	10	2	0	0	0	3
32	29	吉澤	0.222	10	9	9	2	0	0	0	3

分析条件

四球	三振
>=15	<=40

分析結果

打率	本塁打
0.291	11

ア．=DMAX($A$3:$K$32,3,$M$3:$N$4)
イ．=DMAX($M$3:N4$,3, A$3:$K$32)
ウ．=DMAX($A$3:$K$32,M7,$M$3:$N$4)
エ．=DMAX($M$3:N4$,M7, A$3:$K$32)

目次へ戻る

問 23　次の表は、ある会社の営業所ごとの売上高一覧表である。地域別集計表は、地区ごとの平均売上高を求める。F5 に設定する式として適切なものはどれか。

営業所別売上一覧表

営業所名	地区	売上高
あま支店	海部	54,697
愛西支店	海部	58,012
一宮支店	尾張	50,740
稲沢支店	尾張	50,654
犬山支店	尾張	51,612
春日井支店	尾張	57,058
小牧支店	尾張	58,264
常滑支店	知多	55,093
瀬戸支店	尾張	52,899
清須支店	尾張	56,292
大府支店	知多	57,236
知多支店	知多	59,473
長久手支店	尾張	50,949
津島支店	海部	59,558
東海支店	知多	56,357
日進支店	尾張	55,473
半田支店	知多	56,902
尾張旭支店	尾張	53,828
豊明支店	尾張	57,039
北名古屋支店	尾張	56,939
名古屋西支店	名古屋	59,141
名古屋東支店	名古屋	59,855
弥富支店	海部	53,522

地区別集計表

	地区	地区	地区	地区
	名古屋	尾張	海部	知多
平均売上高	59,498	54,312	56,447	57,012

ア．=AVERAGE($A$3:$C$26,3)
イ．=AVERAGEA($A$3:$C$26,3)
ウ．=AVERAGEIFS($A$3:$C$26,3,F3:F4)
エ．=DAVERAGE($A$3:$C$26,3,F3:F4)

目次へ戻る

問 24　次の表は、ある店舗のかき氷の販売数について、去年の最高気温と売上数をもとに予測を行っている。F3 に明日の予想最高気温を入力したとき、F4 には予測販売数が表示されるしくみとなっている。F4 に設定する式として適切なものはどれか。

	A	B	C	D	E	F
1						
2	昨年の販売データ				明日の販売予測	
3	日付	最高気温	売上数		予想最高気温	34
4	7月1日	23.3	46		予想販売数	62
5	7月2日	25.9	52			
6	7月3日	32.6	61			
7	7月4日	30.3	55			
8	7月5日	31	61			
∫	∫	∫	∫			
92	9月27日	26.7	47			
93	9月28日	28.2	46			
94	9月29日	29.7	53			
95	9月30日	28.3	52			

ア．=ROUNDUP(FORECAST(F3,C4:C95,B4:B95),0)
イ．=ROUNDUP(FORECAST(F3,B4:B95,C4:C95),0)
ウ．=ROUNDUP(MODE(C4:C95),0)
エ．=ROUNDUP(MODE(B4:B95),0)

問 25　次の表は、OFFSET 関数の動作を確認する表である。C1 に以下の式が設定されているとき、空欄(a)、(b) に当てはまる組み合わせとして適切なものはどれか。

	A	B	C	D	E
1	結果		109		
2					
3	確認表				
4	101	102	103	104	105
5	106	107	108	109	110
6	111	112	113	114	115
7	116	117	118	119	120
8	121	122	123	124	125

=OFFSET(A3, (a) , (b) ,1,1)

ア．(a) 0　(b) 1
イ．(a) 1　(b) 2
ウ．(a) 2　(b) 3
エ．(a) 3　(b) 4

目次へ戻る

Ⅳ　簿記会計分野（選択）

以下の問 1、問 2、問 3 に答えなさい。

問 1　次の説明で、正しいものには○、正しくないものには×を記入しなさい。

1. 貸借対照表上、無形固定資産の減価償却累計額は表示されない。
2. ある企業のある会計年度において、自己資本比率が 60%、固定資産が総資産の 50%を占める場合、流動比率は 100%を下回らない。
3. 買掛金￥500,000 の支払にあたり、支払期日前に行われたことにより、契約上割引を受け、￥495,000 を現金で支払った。その際、仕訳における買掛金の金額は￥495,000 である。
4. 企業会計原則において、「企業会計は、その処理の原則及び手続を毎期継続して適用し、みだりにこれを変更してはならない。」と規定するのは、保守主義の原則である。
5. 同一企業の同一会計期間で生じた売上総利益と営業利益を比較して、営業利益の金額が大きい場合がある。

問 2　以下において、各空欄の金額を数字で答えなさい。

1. 前期の未収利息が￥500、当期の利息受取額￥3,600、当期の未収利息が￥600 の場合、当期の受取利息額は、￥［　①　］である。
2. 商品の期末棚卸高はつぎのとおりである。

　　帳簿棚卸高　数量 50 個　　原価@￥100
　　実地棚卸高　数量 40 個　　正味売却額@￥85

　この場合、棚卸減耗損は、￥［　②　］、貸借対照表上の商品額は、￥［　③　］である。

3. 20X1 年 4 月 1 日に満期まで保有する目的で額面￥10,000 の NGU 株式会社の社債（満期日は 20X6 年 3 月 31 日、年利率 2%、利払日 9 月末、3 月末）を額面￥100 につき、￥95 で取得した。なお、取得価額と額面金額との差額は償却原価法（定額法）を適用する。

　会計期間は、4 月 1 日～3 月 31 日までの 1 年間である。

　20X3 年 3 月 31 日の決算整理後時点における有価証券利息額は　￥［　④　］、満期保有目的債券額は￥［　⑤　］である。

（問 3 に続く）

目次へ戻る

問３　次の資料１および資料２にもとづいて、決算整理前残高試算表の番号①～⑩に該当する語句、金額について答えなさい。番号の付していない決算整理前残高試算表の括弧の金額についても各自で考察すること。なお、会計期間は、４月１日～3 月 31 日までの１年間である。

資料１

付記事項

仮払金は、商品を注文したときに支払った内金￥50,000 と、過日、出張した従業員に支払っていた旅費の概算額￥100,000 であることが判明した。なお、内金を支払った商品はまだ到着しておらず、また、旅費については本日精算され、未使用額￥30,000 を現金で受け取った。

決算整理事項

１．期末商品棚卸高　￥2,300,000
２．売掛金の期末残高について 1%の貸倒れを見積もる。差額補充法（差額計上法）により処理する。
３．備品について、定額法により減価償却を行う。
　　残存価額ゼロ　　耐用年数　５年
４．売買目的で保有している有価証券の時価は￥400,000 である。
５．消耗品の期末有高　　￥ 25,000
６．利息の未払高　　￥ 10,000
７．地代の前受高　　￥ 70,000
８．当期の課税所得を計算したところ￥150,000 となったので、法人税等を計上する。なお、税率は 40% とする。

資料２

決算整理後残高試算表　（単位：円）

現金	325,000	買掛金	750,000
当座預金	460,000	貸倒引当金	10,000
売掛金	1,000,000	備品減価償却累計額	1,500,000
前払金	80,000	未払利息	10,000
消耗品	25,000	前受地代	70,000
売買目的有価証券	400,000	未払法人税等	60,000
繰越商品	2,300,000	借入金	1,250,000
備品	2,500,000	資本金	4,500,000
投資不動産	3,000,000	繰越利益剰余金	1,800,000
仕入	18,000,000	売上	22,200,000
給料	2,500,000	受取地代	960,000
支払家賃	1,500,000	有価証券運用損益	115,000
水道光熱費	300,000		
旅費	150,000		
消耗品費	97,000		
貸倒引当金繰入	3,000		
減価償却費	500,000		
支払利息	25,000		
法人税等	60,000		
	33,225,000		33,225,000

目次へ戻る

決算整理前残高試算表　（単位：円）

現金	(①　　)	買掛金	750,000
当座預金	460,000	貸倒引当金	(⑥　　)
売掛金	1,000,000	備品減価償却累計額	(⑦　　)
前払金	30,000	借入金	1,250,000
(②　　)	(　　)	資本金	4,500,000
売買目的有価証券	390,000	繰越利益剰余金	(⑧　　)
繰越商品	2,400,000	売上	22,200,000
備品	2,500,000	受取地代	(⑨　　)
投資不動産	3,000,000	有価証券運用損益	(⑩　　)
仕入	(③　　)		
給料	2,500,000		
支払家賃	1,500,000		
水道光熱費	300,000		
旅費	(　　)		
消耗品費	(④　　)		
支払利息	(　　)		
	(⑤　　)		(　　)

目次へ戻る

商業系科目テスト〔商学部〕

Ⅰ　問1　A（カ）　B（オ）　C（ア）　D（イ）　E（キ）　F（ク）　G（ウ）　H（エ）
　　問2　A（×）　B（○）　C（×）　D（○）　E（×）　F（○）　G（×）
　　問3　A（オ）　B（ウ）　C（イ）　D（エ）　E（ア）

Ⅱ　問1　⑴ア　2,400円　⑴イ　2,640円
　　⑵ア　40,000円　⑵イ　2,500円　⑵ウ　25%　⑵エ　12.5%
　　問2　20%

Ⅲ（選択）
　　問1（ウ）　問2（ケ）　問3（コ）　問4（ク）　問5（オ）　問6（オ）
　　問7（ク）　問8（ケ）　問9（エ）　問10（ア）　問11（5日間）　問12（0.9）
　　問13（10MB）　問14（0.648）　問15（54GB）　問16（イ）　問17（エ）
　　問18（ア）　問19（エ）　問20（ア）　問21（イ）　問22（ウ）　問23（エ）
　　問24（ア）　問25（ウ）

Ⅳ（選択）
　　問1　1.　○　2.　×　3.　×　4.　×　5.　×
　　問2　①　3,700　②　1,000　③　3,400　④　300　⑤　9,700
　　問3　①　295,000　②　仮払金　③　17,900,000　④　122,000　⑤　32,642,000
　　⑥　7,000　⑦　1,000,000　⑧　1,800,000　⑨　1,030,000　⑩　105,000

目次へ戻る

2023年度 小論文テーマ

（一般推薦入試、自己推薦入試、指定校推薦入試）

※商学部経営情報学科は2024年4月経営学部データ経営学科に改組予定

小論文テーマ一覧〈過去3年間〉

対象　一般推薦入試　自己推薦入試　指定校推薦入試

目次へ戻る

2021年度入試

（800字：60分）

一般推薦入試（前期）	経済学部	コロナ禍以前の日本においては、中古品（リユース）市場の規模が、インターネットを通じた売買（個人間のもの含む）の普及などを背景に、拡大傾向にあったといわれています。 中古品売買の数量や金額が増加し、市場の規模が拡大していくことは、日本の経済にとって望ましいことでしょうか。中古品市場の規模拡大の影響を多面的に考察して記述した上で、あなたの総合的な判断を、その根拠とともに述べてください。
	現代社会学部	次の文（別紙1）を読んで、「筆者はコロナ禍において私たちがどのようなことを大事にすべきと考えているか」を明らかにした上で、「あなた自身の大学での学びに関わることで、あなたが考えること」を自由に書いてください。
	商学部	今般のコロナ禍では、企業活動が大きく制約され、特に飲食業をはじめとする、消費者と直接接する業種においては営業の中止・縮小が余儀なくされ、経営への大きな打撃となりました。こうした中、企業は「新しい生活様式」になんとかうまく対応しようと様々な工夫を凝らしています。また逆にこの情勢を利用した新たな商品やサービスも開発されているようです。 あなたが知る範囲で、どのような対応策、新商品・サービスなどがあるか、いくつかの事例を説明し、それに対するあなたの評価、更に可能ならばコロナ禍が収束に向かった場合にそうしたものがどうなるかの予想を、理由とともに述べてください。なお、全く新しい商品やサービスではなく、従来からある商品やサービスが再評価されたという例でも構いません。
	法学部	以下の新聞記事（別紙2）を読み、質問に答えてください。 最近、国際的に企業の女性役員の比率を引き上げる動きが強まり、北欧や独仏などの大陸欧州では法律により役員比率を男女いずれも一定割合以上にすることを義務づけ、女性役員の比率は30%を超えているが、日本は5%を下回っている。 ①わが国の女性役員の比率を欧州並みに引き上げるにはどうしたらよいと思うか ②女性役員の比率を引き上げることで何が効果として期待できるのか この2点に必ず触れ、自分の考えを回答してください。
	外国語学部	日本語を母語とする人の場合、英語の聞き取りを苦手とする人が少なくありません。あなたは、その原因は何だと考えますか。まず、原因と思われるものを2つもしくは3つ挙げてください。そして、なぜそれを原因と考えるのか、また、それぞれの原因をどうすれば解消できるかについても述べてください。
	国際文化学部	新型コロナウィルス感染症の拡大によって、現在、日本人が海外に出ることも外国人を海外から迎えることも難しくなっています。おかげで海外からの観光客は激減しました。このような状況で、どのような国際交流が可能でしょうか。できるだけ具体策をあげながら、あなたの意見をまとめてください。
	スポーツ健康学部	今年初頭に始まったコロナ禍のため、学校の部活動やその他でのスポーツ活動が制限されました。自由にスポーツ、身体活動を楽しむことができない人がかなりの数にのぼったと想像されます。その様な状況下、あなたは競技力、体力、健康を維持するためにどのよう工夫をしましたか。その内容を紹介し、その理由やねらいを解説してください。
	リハビリテーション学部 理学療法学科	日本では社会保障制度の一環として国民の健康とそれを維持するための医療を支える国民皆保険制度が普及していますが、 21世紀に入り一段と高齢化と少子化が進み、このままでは制度の維持継続は困難とする意見があります。医療保険制度を継続するにはどのようにしていったらよいと思いますか、これから医療に携わろうとするあなたの考えをまとめてください。
課外活動評価入試（前期）※	全学部	今年2月以降、コロナ禍により社会の様々な活動が広く制約を受けることになりました。不要不急の活動が自粛を求められる中、とりわけ課外活動の類は不急のものと位置づけられて活動中止となることが多かったようです。一方で、課外活動のクラブのような集団は、固定された少人数のメンバーで、管理も行き届く（行き届かせやすい）という観点から、早くから活動再開が認められていたところもあるようです。 あなたの専門とする（クラブなどの）活動において、今回のコロナ禍への対応がどのようであったのか、概要を説明し、それについてのあなた自身の評価を、理由とともに述べてください。あなた自身の所属する組織（学校のクラブなど）、その上位にある都道府県の連盟・協会や更にその上位の全国連盟・協会などの組織、もしあればその種目におけるプロ組織など、レベルごとの状況を含めて構いません。
課外活動評価入試（後期）※	全学部	人間はさまざまな経験を通して成長していくと考えられます。そこで、あなたが高等学校における課外の活動（部活動、委員会活動、ボランティア活動、学校外の地域クラブの活動、など）の経験を通して「自分が成長できた」と考えることについて、その「活動の内容」と「その活動を通して自分自身がどのように成長できたか」を具体的に説明してください。また、「それを今後の大学生活でどのように活かしていきたいか」についての記述を加えても構いません。
指定校推薦	経済学部	日本では、近所の知人から旅行の土産物をもらったり、逆に自分が受け取った貰い物を隣人へお裾分けしたりする「お互い様」の習慣がある。米国には、 11月に感謝祭（Thanksgiving Day）という祝日に、親族や知人を自宅に招いて食事を振舞う習慣がある。誰かから受け取った好意に対して、心のこもった言葉や手紙、返礼品を返すことによって、友好関係を維持していく仕組みと言える。 一方で、経済学で学ぶ価格という概念は、「Pay as you go （利用したいだけ支払いなさい）」という言葉に表されるように、受け取る利益（価値）に対して支払う対価または報酬を意味する。例えば、店で200円支払ってソフトクリームを購入したならば、ソフトクリームを味わう美味しさを200円という価値で評価したことになる。 さて、冒頭のお互い様の習慣や感謝祭の食事の習慣には、価格という概念は出てこない。それどころか、お礼としてお金を渡してしまうと、その途端、相手の気分を害したり、これまでの友好関係が崩れたりすることがある。被災地へのボランティア活動には、報酬は支払われない。なぜ社会には経済学の価格や報酬という概念がそぐわないことがあるのか、適切な例を考えてあなたの意見を述べてください。
	現代社会学部	2020年10月17日の日本経済新聞（朝刊）で、「高齢者のネット通販トラブルが広がっている。国民生活センターの相談データを調べたところ、 60歳以上は2019年度に約2万5800件と、 10年度の15倍になった。 6倍弱になった59歳以下より増え方が急だ。慣れない画面構成や操作手順が高齢者特有の誤注文を招いており、トラブル発生率も高い。」との記事が出されました。この記事からあなたが考える超高齢化社会におけるネット通販の利点と問題点について論じてください。 ※長寿社会のリアル　「買い物弱者」ネットでも　日本経済新聞2020年10月17日　日経の許諾を得ています　無断で複写・転載を禁じます
	商学部 商学科	新型コロナウィルス感染拡大に歯止めがかからない中、外食産業をはじめとする、会食を伴うサービスを提供する企業は、常に感染リスクと隣り合わせであり、感染状況が悪化すると営業自粛を求められるなど、苦境に立たされています。これに対し政府は、「Go To Eat キャンペーン」や持続化給付金などの支援を行っていますが、これらはあくまで一時的なものであり、現在企業には「Withコロナ」を意識した、事業継続とリスクマネジメント（危機管理）の両立が求められています。 このような状況において、もし、あなたがこれらの企業の経営者であれば、どのように行動しますか。①事業継続のための方策と、②感染リスクへの対応の2点をふまえて考えてください。
	商学部 経営情報学科	IMD （国際経営開発研究所）が発表した「世界デジタル競争力ランキング2019」では、日本は63カ国中23位となっており、「デジタルトランスフォーメーション（DX）」の遅れが懸念されています。 一方、政府は2020年11月26日、「デジタル庁」新設を中心とした「デジタル改革関連法案」の概要をまとめました。今後、デジタル庁が国の情報システムの整備・管理に関する基本方針を策定し、日本が世界的に後れを取っているDXを推進する上での、中心的役割となることが期待されます。 このような状況の中、日本のDX推進比率が低い理由について、あなたの考えを挙げた上で、どのようにすればその課題を克服し、DXをより推進できるか、述べてください。
	法学部	近年、国内外においてフェイクニュース（虚偽の情報で作られたニュース）が数多く見られるようになっています。このことについて、 ①フェイクニュースが増えてきた原因としてどのようなことが考えられるか。 ②フェイクニュースに惑わされないためにどのような対策が必要か。 の2点に触れながら、あなたの考えを述べてください。
	外国語学部	近年は、翻訳ソフトの性能が向上し、手軽に日本語の文を英文に翻訳することができるようになりました。英語の上達という観点からすると、こういった翻訳ソフトは、役に立つ面と、役に立たない面があると考えられます。あなたは、翻訳ソフトのどういった点が英語の上達に役に立つと思いますか。また、どういった点が英語の上達には役に立たないと思いますか。翻訳ソフトが英語上達にとって役立つと考えられる点、および、役立たないと考えられる点を、それぞれ1つ、挙げてください。そして、なぜ役に立つのか、あるいは、なぜ役に立たないのか、その理由を述べてください。
	国際文化学部	日本では2020年7月にプラスチック製買物袋（いわゆるレジ袋）が有料化され、対象となるレジ袋の小売店等での無料配布が原則として禁止されました。このことにより期待されるメリットと、発生が予測されるデメリットの双方を、具体例を交えながらそれぞれ2つ以上述べてください。
	スポーツ健康学部	スポーツ指導の場において、指導者の声かけは選手のモチベーション（動機づけ）を大きく左右させます。どのような声かけがモチベーションを高くさせ、どのような声かけがモチベーションを低くさせるのでしょうか。また指導者は声かけの際にどのような点に留意すべきでしょうか。これまでの経験（スポーツ以外でも良い）を振り返りつつ、あなたの考えを述べてください。
	リハビリテーション学部	”みる”という言葉には 見る、観る、視る、診る など様々な意味が含まれますが、理学療法士の仕事も人を”みる”仕事と言われます。理学療法士が人を”みる”というのはどのようなことを意味するのでしょうか。またそのためには、技術や知識の他にどのような能力を養うことが必要だと思いますか。 800字以内であなたの考えを述べてください。

※2023年度入試より自己推薦入試として実施

目次へ戻る

2021年度入試

（800字：60分）

〔別紙1〕一般推薦入試（前期）　現代社会学部

新型コロナウイルス感染症。なんとも不気味である。放射線被曝（ひばく）とおなじく、見えない何かがわたしたちの生体システムを毀損（きそん）するという意味でもそうだが、それと同時に、わたしたちの社会生活のなかに気づかれないままに伏在してきたさまざまな矛盾や軋轢（あつれき）を次々と噴き出させるからだ。

たとえば、一国内、ないしは国際社会の中での、富の極端なまでの偏在。失職や倒産といった危機はまずは貧困にあえぐ人びとを襲う。その彼らが生存のために「外出」を余儀なくされ、ときに排撃もされ「流民」となることで、感染の拡大リスクがいよいよ高まる。あるいは外出の制限や休業の要請による消費の急激な縮小。人口減少とそれによる社会と経済規模の縮小という、やがてかならず来る未来を一気に先取りしてしまったかのようである。

戦争や恐慌の時と同様、パンデミックのような“緊急事態”にあっては、もはや抑えきれないものから、どうあっても維持し、護（まも）らなければならないものまで、社会生活においてもっとも本質的なことがらが顕在化する。

現時点ですでに、他人を出し抜こうという邪心や、故なく他者を排撃する残酷さがうごめきだしている。が、その一方でたとえば「濃厚接触」の禁止は、わたしたちの日々の喜びや愉（たの）しみがいかに相互接触によって養われるものであるかを、逆にはっきりさせた。人がその生存においてどうしても外すことのできないものを人びとはあらためて思い知ることになった。

“緊急”とは、事態の切迫であるとともにそれへの措置の例外性でもある。図書館や劇場、公園などの閉鎖は、人びとの学びの自由、表現の自由、そして移動の自由に制限をかける。報道機関への圧力は、人びとの知る権利と言論の自由を脅かす。行動履歴の提供要請は市民のプライバシーを侵す…。

こういう状況だから「仕方がない」のではない。こういう状況だからこそ、何をいったん手放し、何がそれでも手放せないかを、しかと意識しておく必要がある。人生で、あるいは社会運営において、何を優先するかという《価値の遠近法》は、ふだんは緩めておいたほうがいいし、そのことでむしろ既定の遠近法の見直しもできるのだが、緊急時にはその優先を決することを迫られる。たとえば安全の確保か経済維持かの二者択一の形をとって。

しかしこれは、「仕方がない」から行政の決定に従うというものではない。その施策が理にかなわないと判断すれば「ノー」と言わなければならない。生存の基礎となるものを「官」に押しつけ、おまかせにしてきたこれまでの性癖を、このときこそ脱ぎ捨てなければならない。

とはいえ課題はどれも根が深い。

野生の、ということは人間がそもそも飼い馴（な）らすことのできない生命体との関係を、根本から考えなおす必要がある。社会については人びとの所得の最低保障とそのための税制の見直しにとりかかる必要があろう。地方自治と分権のあり方、あるいは市場競争とは別次元の国際的な連帯のかたちを模索する必要もある。いやいや「わたしたちの代表」として議会に送り出されるべきはどんな人か、ほんとうに一から考えなおす必要がある。

いずれにせよ、緊急時は“独裁”のほうが迅速でいいという「おまかせ」と「押しつけ」の性癖を、今度という今度は脱ぎ捨てないとあぶない。どのいのちをも見棄（みす）てない、弱い人から順に護る、人に贈れるものは贈る。人類が最低限の志操（注）としてこれまで育もうとしてきたものが、いまぎりぎりのところで試されている。

（注）志操（しそう）：変えずに堅く守っている主義・主張

（出典）鷲田清一「『仕方がない』のではない　生命、社会…　再考の時」

（2020年4月25日 中日新聞朝刊）

〔別紙2〕一般推薦入試（前期）　法学部

女性取締役ゼロに「NO」　海外投資機関が反対票も

海外の機関投資家が、日本企業に女性役員を増やすよう促している。一部の投資家は女性取締役がいない企業について、株主総会で反対票を投じ始めた。

資産運用会社のゴールドマン・サックス・アセット・マネジメントは4月、「取締役会に女性がいない会社の取締役選任議案に反対する」という議決権行使の基準を発表した。今夏の株主総会では、約400の企業で反対票を投じた。同社の担当者は取材に、「ダイバーシティー（多様性）はイノベーションを生み、よりよい職場環境をつくり、人材採用でも有利だ」。最低1人の女性取締役が必要で、本来は1人だけでは不十分だという。欧州最大級の資産運用会社のリーガル&ジェネラル・インベストメント・マネジメントも、今年から同様の対応をし始めた。

企業や株式の情報を集めている「全国株懇連合会」によると、2019年に上場企業など1759社のうち女性取締役がいた企業は40%。そのうち8割は1人だけだった。

※「女性取締役ゼロ」にNO　海外投資機関が反対 朝日新聞2020年9月18日承認番号「jc-0006」朝日新聞社に無断で転載することを禁じる

小論文テーマ一覧〈過去3年間〉

対象　一般推薦入試　自己推薦入試　指定校推薦入試

目次へ戻る

2022年度入試

(800字:60分)

一般推薦入試（前期）	経済学部	政府が近年取り組んでいる「働き方改革」の一つとして、「同一労働同一賃金の推進」が挙げられる。正社員と非正規雇用労働者との間の不合理な待遇差を解消することは、法律に照らし合わせても当然であると考えられる。一方で正社員に対して年功賃金による終身雇用の待遇を行うことが中心である日本の雇用慣行の中で、正社員と非正規雇用労働者との間の業務や職責の同一性の範囲を定めるのは難しいとする意見も存在する。以上を踏まえて同一労働同一賃金の推進についてあなたの意見を自由に述べてください。
	現代社会学部	現在わが国ではジェンダー格差が大きな問題になっています。それでは、ジェンダー格差があることはどのような点が問題なのでしょうか。あなたが考える「ジェンダー格差が存在することの問題点」を3つ以上挙げて、それぞれについて説明してください。 参考として次のページ（別紙1）に文章を載せます。ただ、あくまで参考ですので、回答は必ずしもこの文章にとらわれる必要はありません。広い視点からジェンダー格差の問題点を論じてください。
	商学部 商学科	コロナ禍を契機として、この1年余りの間、職場や教育現場で在宅オンライン勤務・授業が広がりを見せてきました。職場におけるオンライン勤務にはどのようなメリット・デメリットがあるか、それぞれ具体例を交えて説明し、今後こうしたオンライン勤務をここから更に推進すべきか、あなたの考えを理由とともに述べてください。なお具体例は実体験でない、聞き知ったものでも構いません。 （解答は、段落を作り、作文の作法に従って、解答用紙に横書きで記入してください。）
	商学部 経営情報学科	様々な場面でのAIの活用が広がりを見せています。現在AIが活用されていると思われる分野（場面）を2つ、具体例を交えて説明し、今後どのような分野に広がっていくと考えられるか、あなたの考えを理由とともに述べてください。ただし、広がっていくと予想されなくとも、活用を推進すべきだとあなたが考える分野がもしあるなら、代わりにそれを取り上げても構いません。 （解答は、段落を作り、作文の作法に従って、解答用紙に横書きで記入してください。）
	法学部	2015年9月の国連サミットで加盟国の全会一致で採択された「持続可能な開発目標(SDGs)」は、2030年までに17のゴール、169のターゲットで持続可能でよりよい世界を目指す国際目標です。以下の17のゴールのうち1つを選択し、「法律」が主体的に取り組むべき課題と解決法を考え答えてください。どのゴールを選ぶかは採点に関係がありません。選択したゴールについて自分なりに考える課題と解決法をまとめてください。 ①貧困　②飢餓　③保健　④教育　⑤ジェンダー　⑥水・衛生　⑦エネルギー　⑧成長・雇用　⑨イノベーション　⑩不平等 ⑪都市　⑫生産・消費　⑬気候変動　⑭海洋資源　⑮陸上資源　⑯平和　⑰実施手段
	外国語学部	2020年度から小学校での英語教育が3年生から導入されるなど、英語を早い時期から学ばせようとする動きがいっそう広がっているように見えます。 あなたは英語を早い時期から学ばせることに賛成ですか?反対ですか?どちらか一方の立場から、2つあるいは3つの理由とともに、述べて下さい。
	国際文化学部	現在、イギリスのグラスゴーではCOP26が開催されています。そこでは地球的規模で拡大している気候変動が緊急問題として取り上げられ、特に地球温暖化の原因となる石炭による火力の廃止が要請されました。議長国イギリスのジョンソン首相は期限を明確にして、「先進国は2030年までに、途上国は2040年までに石炭火力の廃止」を提唱しました。しかし、日本の岸田首相は石炭をはじめとした火力発電の維持を表明しました。あなたはこのことについて、どう思いますか。また、地球温暖化の危機に対して、日本人は何ができると思いますか。できるだけ具体例をあげて、あなたの意見をまとめてください。
	スポーツ健康学部	「スポーツは勝つことがすべて」、「スポーツは努力の過程が大切だ」と言われます。勝利という結果か、あるいは努力の過程かのいずれかについて、あなたの意見を論じてください。結果、過程のいずれの立場でも構いません。論理的に議論を展開してください。
	リハビリテーション学部 理学療法学科	持続可能な開発目標（SDGs）は、国連加盟国が全会一致で採択して掲げた「2030年までに持続可能でよりよい世界を目指す」という国際目標です。この目標の中には「すべての人の健康的な生活を確保し、福祉を促進する」という目標も含まれています。医療に携わる理学療法士がこの目標に取り組み、達成を目指すためにはどのような能力や技術を養うことが必要だと思いますか。あなたの考えを述べてください。
課外活動評価型入試（前期）※	全学部	2021年度もコロナ禍により、課外活動も大きく制限されたのではないでしょうか。文部科学省は部活動の実施について「感染リスクの高い活動（身体接触を伴う活動や大きな発声や激しい呼気を伴う活動など）等の制限のみに限らず、部活動に付随する場面での対策（部活動前後の集団での飲食を控えることなど）の徹底を図るなど、これまで以上に感染症への対策を強化してください。」と発信しています。そのような状況下で、あなたの高校の課外活動クラブでどのような目標設定や活動内容の工夫がされ、その結果、どのような成果が得られたか、あるいは得られなかったか、について述べてください。
課外活動評価型入試（後期）※	全学部	今冬開催された北京オリンピックでも、様々な不正疑惑がとりあげられていました。こうした「優劣の結果が出る競技会」においては、どうしても不正を行おうとする動機が生じることは避けられません。 スポーツやそれ以外の競技（文化系も含む）の中から1つを選び、その分野で不正とされる行為にはどのようなものがあるか、例を挙げながら説明してください（全てを網羅する必要はありません）。そして、そうした行為を防止するためにはどのようにしていくのが良いと考えるか、あなたの考えを理由とともに述べてください。実際に使用されている防止方法を挙げても構いません。 なおスポーツまたはそれ以外の競技のうち何を選択したかを最初に明示してください。それは必ずしもあなたが専門とする分野である必要はありません。
指定校推薦	経済学部	政府が近年取り組んでいる「働き方改革」の一つとして、「同一労働同一賃金の推進」が挙げられる。正社員と非正規雇用労働者との間の不合理な待遇差を解消することは、法律に照らし合わせても当然であると考えられる。一方で正社員に対して年功賃金による終身雇用の待遇を行うことが中心である日本の雇用慣行の中で、正社員と非正規雇用労働者との間の業務や職責の同一性の範囲を定めるのは難しいとする意見も存在する。以上を踏まえて同一労働同一賃金の推進についてあなたの意見を自由に述べてください。
	現代社会学部	現在わが国ではジェンダー格差が大きな問題になっています。それでは、ジェンダー格差があることはどのような点が問題なのでしょうか。あなたが考える「ジェンダー格差が存在することの問題点」を3つ以上挙げて、それぞれについて説明してください。 参考として次のページ（別紙1）に文章を載せます。ただ、あくまで参考ですので、回答は必ずしもこの文章にとらわれる必要はありません。広い視点からジェンダー格差の問題点を論じてください。
	商学部 商学科	コロナ禍を契機として、この1年余りの間、職場や教育現場で在宅オンライン勤務・授業が広がりを見せてきました。職場におけるオンライン勤務にはどのようなメリット・デメリットがあるか、それぞれ具体例を交えて説明し、今後こうしたオンライン勤務をここから更に推進すべきか、あなたの考えを理由とともに述べてください。なお具体例は実体験でない、聞き知ったものでも構いません。 （解答は、段落を作り、作文の作法に従って、解答用紙に横書きで記入してください。）
	商学部 経営情報学科	様々な場面でのAIの活用が広がりを見せています。現在AIが活用されていると思われる分野（場面）を2つ、具体例を交えて説明し、今後どのような分野に広がっていくと考えられるか、あなたの考えを理由とともに述べてください。ただし、広がっていくと予想されなくとも、活用を推進すべきだとあなたが考える分野がもしあるなら、代わりにそれを取り上げても構いません。 （解答は、段落を作り、作文の作法に従って、解答用紙に横書きで記入してください。）
	法学部	2015年9月の国連サミットで加盟国の全会一致で採択された「持続可能な開発目標(SDGs)」は、2030年までに17のゴール、169のターゲットで持続可能でよりよい世界を目指す国際目標です。以下の17のゴールのうち1つを選択し、「法律」が主体的に取り組むべき課題と解決法を考え答えてください。どのゴールを選ぶかは採点に関係がありません。選択したゴールについて自分なりに考える課題と解決法をまとめてください。 ①貧困　②飢餓　③保健　④教育　⑤ジェンダー　⑥水・衛生　⑦エネルギー　⑧成長・雇用　⑨イノベーション　⑩不平等 ⑪都市　⑫生産・消費　⑬気候変動　⑭海洋資源　⑮陸上資源　⑯平和　⑰実施手段
	外国語学部	新型コロナウイルス感染症の感染拡大のために、多くの学校でオンライン授業が実施されました。 今後、もしあなたが英語の授業を受けるとしたら、対面あるいはオンラインのどちらが効果的だと考えますか?どちらかを選んで、2つあるいは3つの理由とともに、述べて下さい。
	国際文化学部	現在、イギリスのグラスゴーではCOP26が開催されています。そこでは地球的規模で拡大している気候変動が緊急問題として取り上げられ、特に地球温暖化の原因となる石炭による火力の廃止が要請されました。議長国イギリスのジョンソン首相は期限を明確にして、「先進国は2030年までに、途上国は2040年までに石炭火力の廃止」を提唱しました。しかし、日本の岸田首相は石炭をはじめとした火力発電の維持を表明しました。あなたはこのことについて、どう思いますか。また、地球温暖化の危機に対して、日本人は何ができると思いますか。できるだけ具体例をあげて、あなたの意見をまとめてください。
	スポーツ健康学部	「スポーツは勝つことがすべて」、「スポーツは努力の過程が大切だ」と言われます。勝利という結果か、あるいは努力の過程かのいずれかについて、あなたの意見を論じてください。結果、過程のいずれの立場でも構いません。論理的に議論を展開してください。
	リハビリテーション学部	日本は平均寿命が男女とも世界のトップクラスの健康長寿国である。しかし、高齢化の進展などにともない、がんや生活習慣病の増加、医療費の増大など、保健・医療を取り巻く環境は変化してきており、健康に関わる課題も複雑化してきている。また、人々の健康に対する意識も多様化し、単に「病気でないことが健康」ということではなくなってきている。そこで、あなたが考える「健康」について、あなたの考えをまとめてください。

※2023年度入試より自己推薦入試として実施

目次へ戻る

2022年度入試

（800字：60分）

〔別紙1〕一般推薦入試　現代社会学部

先ごろ世界経済フォーラムが発表した男女の平等度を表す指数において、日本は156カ国中120位でG7の中では最下位となった。経済分野についても117位とかなり低い。

経済、特に労働市場における男女格差を捉える代表的な方法は、賃金に着目するというものだ。OECD平均でみると、女性は男性よりも13%低い賃金を受け取っているが、日本では女性の方が24%も低い。

男女間の賃金格差の理由には様々なものがあるが、重要なものの一つに競争心があるとされている。競争に積極的な人ほどリスクを引き受け、結果的に高い報酬を手にする傾向がある。そして、男性は女性よりも競争に対して積極的なのだ。

関連があるとされているのが男性ホルモンだ。そうなると、男女間に賃金格差が生じるのは仕方がない、むしろ、「自然な男女差」とさえ感じられるかもしれない。正直に言うと、私自身そう思っていた。

ところが、経済学を含む多くの科学研究が明らかにしたのは、こうした考え方は誤りか、少なくともかなり偏ったものの見方であるということだ。「自然な男女差」のかなりの部分が、特定の文化や社会で人工的に作られたものに過ぎないことがわかってきたのだ。

ある経済学の研究では、二つの全く異なる社会に注目した。ひとつは圧倒的な男性優位であるタンザニアのマサイ族の社会。もうひとつは女性が一家の長であり、女性が優位なインドのカーシ族の社会だ。この両極端な社会において、研究者が経済実験を行うことで人々の競争に対する積極性を測定した。男性優位な社会では、やはり男性の方が女性よりもはるかに競争に対して積極的であった。これはアメリカのような先進国と変わらない。しかし、女性優位な母系社会においては、女性の方が競争に対して積極的だったのだ。

この発見は、競争に対する積極性の男女差は「自然な男女差」ではないということを示している。男性ホルモンのような生物的な要因がかかわっているとはいえ、文化や社会の役割は、いま私たちの社会で目にしている男女差がひっくり返る程度には大きいようだ。

女性の居場所は家庭であるという価値観も、社会に深く根を張っている。しかし、これもまた必然ではなく、私たちの文化や社会が築き上げたものであることを示す研究が数多くある。ペルーで発見された9千年前の遺骨や埋葬品を解析した研究者らは、同時代の米大陸の狩猟者の3～5割は女性だったとの結論に至った。狩猟者は主に男性で、女性は採集者という通説とは大きく異なる。

そして筆者自身も、3歳までは母親が家庭で子育てをした方がよいという「三歳児神話」を検証し、そこには科学的根拠が乏しいことを明らかにした。筆者らは厚労省の大規模調査から得られたデータを解析し、2歳時点での保育園通いの子供に対する影響を評価した。その結果、保育園と家庭での子育てを比べると、保育園通いの悪影響というものは認められず、むしろ、社会経済的に恵まれない家庭の子供にとっては、保育園のほうが情緒面、行動面で好ましい影響があることが明らかになった。（以下略。なお問題作成の都合で原文の一部をカットしています）

※（あすを探る　経済）固定観念が生む男女格差　山口慎太郎著　朝日新聞2021年4月29日,承認番号「jc-0005」朝日新聞社に無断で転載することを禁じる

小論文テーマ一覧〈過去3年間〉

対象　一般推薦入試　自己推薦入試　指定校推薦入試

目次へ戻る

2023年度入試

（800字：60分）

一般推薦入試（前期）	経済学部	新型コロナウィルスの感染拡大は、世界的な経済危機を引き起こし、日本でも、2020年度の経済成長率はマイナス4.6%という戦後最低の水準でした。これに対して、政府は、2020年度には、新型コロナウィルス感染症緊急経済対策等で総額約77兆円の補正予算を組み、経済の下支えやセーフティネットの拡充に努めました。しかし、一方で、日本の国・地方合計の政府債務残高は2022年度末時点で1,243兆円（対GDP比で約220%）に達すると推計されており、大変、懸念される状況です。あなたは、政府が行ったコロナ禍における経済対策は適切であったと考えますか。政府が行ったコロナ禍経済対策の中で適切であったと思うものと、適切でなかったと思うものを具体的に挙げ、総合的な評価を行ってください。
	現代社会学部	別紙1のグラフは、2012年以降について、年齢階層別の「テレビを観る人（リアルタイム視聴）」、「インターネットを使う人」、「新聞を読む人」の割合の推移を表しています。グラフからわかるように、この10年ほどで、テレビを観る人、インターネットを使う人、新聞を読む人の割合は大きく変化しました。あなたは、こうした変化が今後の日本の社会にどのような影響をもたらすと思いますか。功罪両面に触れて、あなたの考えを書いてください。
	商学部 商学科	現在、円安ドル高が歴史的な水準にまで進行しており、企業もこれに対応を迫られています。一般に、円安は日本の企業にどのような影響を与えるか、メリットとデメリットを挙げてください（それぞれ複数挙げてよい）。そして、日本の企業の経営者の立場で、この影響にあなたならどのように対処するか、理由とともに述べてください（複数述べてよい）。但し、その企業がどのような業種であるかなど、詳細を限定する必要があると考えるなら、自由に詳細を限定して構いません（どのような詳細なのかを明記のこと）。なお、現在の円安はかなり急激で甚だしいために、通常とは異なる影響もあると考えられますが、解答では現在の円安にこだわらず、一般的な円安の状況について述べても構いませんし、現在の円安について述べても構いません。
	商学部 経営情報学科	2021年10月、Facebook社がMeta社に社名を変更し、社会的にも「メタバース」という言葉が広がりをみせるようになりました。統一された定義がまだない状態の用語ですが、総務省の令和四年版情報通信白書によれば、2021年に4兆2,640億円であった世界市場が、2030年には78兆8,705億円まで拡大すると予想されており、国内においてもビジネス活用の期待が高まっています。一般的に「インターネット上の仮想空間に、自身の分身であるアバターを通じ他者とコミュニケーションを行う」といったメタバースについて、 ①あなたは今後、メタバース上でどのようなビジネスがより広がりを見せると思うか ②あなたがメタバースに関わる起業を行うとしたら、どのようなビジネスを行うか 以上の2点について、あなたの考えを述べて下さい。
	法学部	以下の文章を読み、後の＜問＞に答えてください。 かねてより、選挙における若年層の投票率の低さが問題視されています。これまでの国政選挙の年代別投票率でも、20歳代がもっとも低く、10歳代がそれに続いて低いという結果になっています。若年層の投票率の低さは、様々な点で悪い影響をもたらすとも言われており、若年層の投票率を上げることが課題とされています。しかし、これまでのところ、なかなか改善が見られていません。 ＜問＞選挙における若年層の投票率を上げるためにはどうすればよいかについて、あなたが考えることを述べてください。 ※注① 投票率を上げるための方法は、1つでも、2つ以上でも構いません。 ② 投票率を上げるための方法は、現在の法律や制度のもとで可能なものでも、法律や制度を変えなければいけないものでも、どちらでも構いません。
	外国語学部	世界中ではさまざまな言葉が使われています。その中で、英語以外で、あなたが学習したい外国語を1つ選び、その外国語を選んだ理由を3つ述べて下さい。
	国際文化学部	日本は今、近隣諸国と必ずしも良好関係にあるとはいえません。中国、韓国、北朝鮮、ロシアなどと様々な摩擦が生じています。その中であなたが特に気になる問題を取り上げ、その問題点と解決策を述べてください。
	スポーツ健康学部	中学・高校時代、いろいろな指導者から指導を受けてパフォーマンスの向上に繋がったことと思います。様々な体力や技術の向上、さらにはケガの予防、食事、熱中症対策など、あなたが受けた指導の中で「科学的だな」と感じた事象について一つあげて説明し、その理由を述べてください。
	リハビリテーション学部 理学療法学科	国連が掲げる持続可能な開発目標（SDGs）の一つに「ジェンダー平等を実現しよう」という課題があります。ジェンダー（gender）とは社会における男性と女性の役割の違いによって生まれる「社会的性別」を意味し、生物学的な男女の性別に対する言葉です。世の中には健康、経済、労働、教育などの様々な分野で男女の間に格差や差別があるとして、世界経済フォーラムが格差の大小を表すジェンダー・ギャップ（不平等）指数を公表しています。それによると2022年の日本は世界146か国中116位と先進国の中の最低レベルにあります。将来あなたの周りでも、例えば病院などの職場や患者さんとの関係の中で、あるいは大学生活における様々な人とのつながりの中などで、ジェンダー・ギャップに遭遇するかも知れません。あなたはジェンダー・ギャップがあると個人や社会にどのような不利益を生むと思いますか。またジェンダー・ギャップを生まないために、あるいはジェンダー・ギャップに気がついたときに、一人一人がどのような意識を持ち、心がけ、行動することが大事でしょうか。あなたの考えを述べてください。
自己推薦入試（前期）	全学部	人には誰でも長所があります。自分自身の長所について記述してください。「自分の長所はなにか」、「長所だと思う根拠」、「その長所は、どのようにして身についたのか」「その長所を今後どのようにして生かしていきたいか」について、できるだけ具体的に記述してください。
自己推薦入試（中期）	全学部	一時期、運動会の徒競走（かけっこ）などで順位をつけるべきではないという議論が起こったことがあります。その是非はともかくとして、競争が存在することには、良い面も悪い面もあるように思われます。個人間の、あるいは組織・団体間の競争の状況を具体的に取り上げて、競争の存在が、その個人あるいは組織・団体にどのような影響を与えるか、また競争の存在は良いことかどうかについて、あなたの考えを理由とともに述べてください。取り上げる状況はあなた自身の体験であっても、あなたの関係しない一般的な状況であっても、どちらでも構いません。
自己推薦入試（後期）	全学部	「失敗は成功のもと」ということわざがあるように、失敗の中には成功のヒントがたくさん含まれています。そこで、あなたの高校時代における学内外の活動から、「失敗した経験」、「失敗の原因はどこにあったのか」、「失敗から何を学んだのか」を具体的に記述してください。また、「それを今後の大学生活でどのように活かしていきたいか」についての記述を加えても構いません。

目次へ戻る

2023年度入試

（800字：60分）

指定校推薦	経済学部	新型コロナウィルスの感染拡大は、世界的な経済危機を引き起こし、日本でも、2020年度の経済成長率はマイナス4.6%という戦後最低の水準でした。これに対して、政府は、2020年度には、新型コロナウィルス感染症緊急経済対策等で総額約77兆円の補正予算を組み、経済の下支えやセーフティネットの拡充に努めました。しかし、一方で、日本の国・地方合計の政府債務残高は2022年度末時点で1,243兆円（対GDP比で約220%）に達すると推計されており、大変、懸念される状況です。あなたは、政府が行ったコロナ禍における経済対策は適切であったと考えますか。政府が行ったコロナ禍経済対策の中で適切であったと思うものと、適切でなかったと思うものを具体的に挙げ、総合的な評価を行ってください。
	現代社会学部	別紙1のグラフは、2012年以降について、年齢階層別の「テレビを観る人（リアルタイム視聴）」、「インターネットを使う人」、「新聞を読む人」の割合の推移を表しています。グラフからわかるように、この10年ほどで、テレビを観る人、インターネットを使う人、新聞を読む人の割合は大きく変化しました。あなたは、こうした変化が今後の日本の社会にどのような影響をもたらすと思いますか。功罪両面に触れて、あなたの考えを書いてください。
	商学部 商学科	現在、円安ドル高が歴史的な水準にまで進行しており、企業もこれに対応を迫られています。一般に、円安は日本の企業にどのような影響を与えるか、メリットとデメリットを挙げてください（それぞれ複数挙げてよい）。そして、日本の企業の経営者の立場で、この影響にあなたならどのように対処するか、理由とともに述べてください（複数述べてよい）。但し、その企業がどのような業種であるかなど、詳細を限定する必要があると考えるなら、自由に詳細を限定して構いません（どのような詳細なのかを明記のこと）。なお、現在の円安はかなり急激で甚だしいために、通常とは異なる影響もあると考えられますが、解答では現在の円安にこだわらず、一般的な円安の状況について述べても構いませんし、現在の円安について述べても構いません。
	商学部 経営情報学科	2021年10月、Facebook社がMeta社に社名を変更し、社会的にも「メタバース」という言葉が広がりをみせるようになりました。統一された定義がまだない状態の用語ですが、総務省の令和四年版情報通信白書によれば、2021年に4兆2,640億円であった世界市場が、2030年には78兆8,705億円まで拡大すると予想されており、国内においてもビジネス活用の期待が高まっています。一般的に「インターネット上の仮想空間に、自身の分身であるアバターを通じ他者とコミュニケーションを行う」といったメタバースについて、 ①あなたは今後、メタバース上でどのようなビジネスがより広がりを見せると思うか ②あなたがメタバースに関わる起業を行うとしたら、どのようなビジネスを行うか 以上の2点について、あなたの考えを述べて下さい。
	法学部	以下の文章を読み、後の＜問＞に答えてください。 かねてより、選挙における若年層の投票率の低さが問題視されています。これまでの国政選挙の年代別投票率でも、20歳代がもっとも低く、10歳代がそれに続いて低いという結果になっています。若年層の投票率の低さは、様々な点で悪い影響をもたらすとも言われており、若年層の投票率を上げることが課題とされています。しかし、これまでのところ、なかなか改善が見られていません。 ＜問＞選挙における若年層の投票率を上げるためにはどうすればよいかについて、あなたが考えることを述べてください。 ※注① 投票率を上げるための方法は、1つでも、2つ以上でも構いません。 ② 投票率を上げるための方法は、現在の法律や制度のもとで可能なものでも、法律や制度を変えなければいけないものでも、どちらでも構いません。
	外国語学部	世界中ではさまざまな言葉が使われています。その中で、英語以外で、あなたが学習したい外国語を1つ選び、その外国語を選んだ理由を3つ述べて下さい。
	国際文化学部	日本は今、近隣諸国と必ずしも良好関係にあるとはいえません。中国、韓国、北朝鮮、ロシアなどと様々な摩擦が生じています。その中であなたが特に気になる問題を取り上げ、その問題点と解決策を述べてください。
	スポーツ健康学部	中学・高校時代、いろいろな指導者から指導を受けてパフォーマンスの向上に繋がったことと思います。様々な体力や技術の向上、さらにはケガの予防、食事、熱中症対策など、あなたが受けた指導の中で「科学的だな」と感じた事象について一つあげて説明し、その理由を述べてください。
	リハビリテーション学部	『患者に寄り添う医療』とは、どういった医療の在り方を意味するのでしょうか。また、それを実践するためには、どのような能力が必要とされるでしょうか。あなたの考えをまとめて下さい。

〔別紙1〕一般推薦入試・指定校推薦入試　現代社会学部

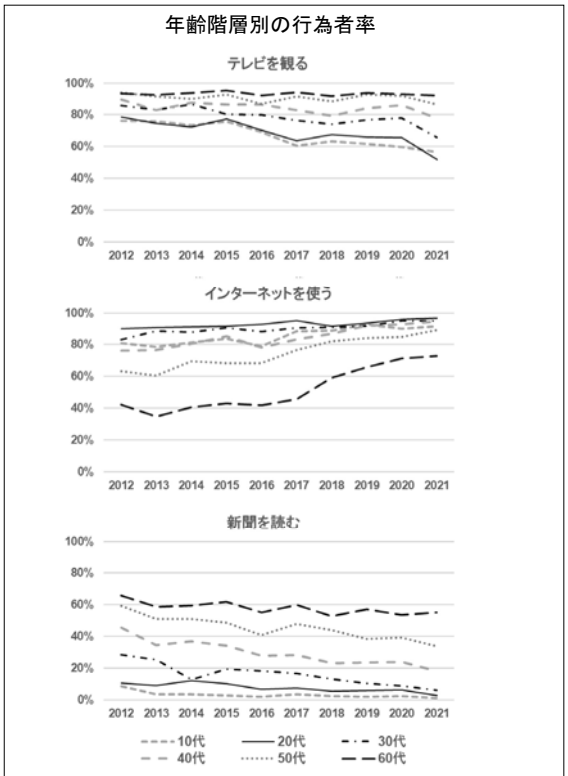

・行為者率は、調査日の平日にそれぞれの行為をした人の割合。
・「テレビを観る」はリアルタイム視聴。
・10代は13歳以上。
データ出所 ： 総務省情報通信政策研究所 「情報通信メディアの利用時間と情報行動に関する調査」